

개념풀 특강

중학 사회②

Book❸ 정답과 해설

Book❶ 진도책 정답과 해설 02

Book❷ 복습책 정답과 해설 62

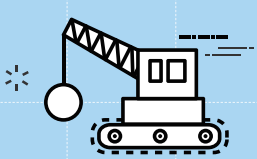



진도책 정답과 해설

I 인권과 헌법

01 인권 보장과 기본권

010~011쪽

간단 체크

❶ ㉠ – ⓒ, ㉡ – ⓐ, ㉢ – ⓑ, ㉣ – ⓔ, ㉤ – ⓓ ❷ ㉠ 참정권, ㉡ 평등권, ㉢ 자유권, ㉣ 사회권, ㉤ 청구권 ❸ 자유권 ❹ 질서 유지, 공공복리

개념 다지기 1단계 011쪽

01 인간 02 천부 인권 03 행복 추구권 04 자유권 05 참정권 06 인간다운 07 기본권 08 공공복리 09 법률 10 없다

집중 공략 A 012쪽

| 기본권의 의미와 종류 |

01 평등권 02 자유권 03 참정권 04 사회권 05 청구권

01~06 기본권은 헌법이 보장하는 인간으로서의 기본적 권리를 말한다. 기본권의 종류에는 인간으로서의 존엄과 가치 및 행복 추구권, 자유권, 평등권, 참정권, 사회권, 청구권이 있다.

집중 공략 B 013쪽

| 기본권의 제한과 한계 |

01 공공복리 02 질서 유지, 공공복리 03 국가 안전 보장 04 국회가 제정한 법률에 의해서만 제한할 수 있다. 05 국회가 제정한 법률 06 본질적 내용

01~03 기본권은 국가 안전 보장, 질서 유지, 공공복리를 위해 필요한 경우에 한하여 제한할 수 있다.

04~06 기본권의 제한은 국회가 제정한 법률에 의해서만 가능하며, 이 경우에도 자유와 권리의 본질적인 내용은 침해할 수 없다.

실력 올리기 2단계 014~015쪽

01 ③ 02 ② 03 해설 참조 04 ② 05 ④ 06 ① 07 ③ 08 ④ 09 ③ 10 ① 11 ② 12 ② 13 해설 참조

01 인권 보장의 역사

시민 혁명을 거치면서 인권 사상이 성장하였고, 이를 바탕으로 민주주의 체제가 수립되었다.

02 인권의 특징

제시문은 세계 인권 선언의 일부이며, ㉠에 들어갈 용어는 인권이다.

오답 분석 ㄴ. '모든 인간은 태어날 때부터 자유로우며~'를 통해 인권은 성인뿐만 아니라 모든 인간에게 부여되는 권리임을 알 수 있다.

ㄹ. 인권은 국가가 성립되기 이전에도 당연히 보장되어야 하는 권리이다.

03 서술형 인권의 의미

모범 답안 인간이 인간답게 살아가기 위해 마땅히 누려야 할 권리이다.

채점 기준	배점
제시어를 모두 사용하여 인권의 의미를 정확하게 서술함	100%
인권의 의미를 적절하게 서술하였으나, 모든 제시어를 사용하지 않음	70%
인간이 가진 권리라고만 서술함	30%

04 인권의 특징

인권이 국적, 인종, 성별, 나이, 직업, 장애의 유무 등 개인의 차이와 상관없이 누구에게나 보장되는 것을 통해 기본적이고 보편적인 권리라는 것을 알 수 있다.

05 기본권의 의미

헌법이 보장하는 인간으로서의 기본적 권리는 기본권이다.

오답 분석 ①, ③, ⑤는 국가의 성립 이전부터 인간이 태어나면서 당연히 가지는 권리이다. 헌법은 국가의 성립을 전제 조건으로 한다.

② 주권은 국가의 최고 권력이다.

06 고난도 기본권의 특징

[자료 분석]

헌법 제10조는 인간으로서의 존엄과 가치 및 행복 추구권을 규정하고 있다.

[선택지 분석]

㉠ 우리나라 헌법의 최우선 가치이다.
➡ 인간으로서의 존엄과 가치 및 행복 추구권은 우리 헌법의 최우선 가치이다.

㉡ 헌법에 보장된 모든 기본권의 토대이다.
➡ 인간으로서의 존엄과 가치 및 행복 추구권은 헌법에 보장된 모든 기본권의 토대이다.

✗ 국가의 정치적 의사 결정 과정에 참여할 수 있는 권리이다.
➡ 참정권의 의미이다.

✗ 최소한의 인간다운 생활의 보장을 요구할 수 있는 권리이다.
➡ 사회권의 의미이다.

07 기본권의 종류
(가) 모든 국민이 합리적인 이유 없이 차별받지 않고 동등하게 대우받을 권리는 평등권이고, (나) 기본권이 침해되거나 침해될 우려가 있을 때 이의 구제를 요구할 수 있는 권리는 청구권이다.

08 사회권
근로의 권리, 인간다운 생활을 할 권리, 쾌적한 환경에서 살 권리는 국민이 국가에 인간다운 생활을 요구할 수 있는 권리인 사회권의 내용이다.

09 참정권
국가의 의사 결정 과정에 참여할 수 있는 권리는 참정권이다. 참정권의 내용으로는 국민의 대표를 선출하는 선거권, 공무를 담당할 수 있는 공무 담임권, 국가의 중요한 정책을 직접 결정할 수 있는 국민 투표권 등이 있다.

10 평등권
회사에서 능력을 인정받았으나 성별, 학력 등을 이유로 승진 대상자에서 제외된 것은 합리적인 이유 없이 불평등한 대우를 받지 않을 권리인 평등권을 침해당한 경우이다.

11 기본권의 제한
우리 헌법은 국가 안전 보장, 질서 유지, 공공복리를 위하여 필요한 경우에 한해서만 기본권을 제한할 수 있도록 규정하고 있다.

12 기본권 제한의 방법
우리 헌법 제37조 제2항에서는 국회가 제정한 법률에 의해서만 기본권 제한이 가능하다고 규정하고 있다.

13 서술형 기본권 제한의 한계
모범 답안 기본권을 제한하는 경우에도 자유와 권리의 본질적인 내용은 침해할 수 없다.

채점 기준	배점
제시어를 사용하여 기본권 제한의 한계를 정확하게 서술함	100%
기본권 제한의 한계를 적절하게 서술하였으나, 모든 제시어를 사용하지 않음	70%
본질적 권리를 침해할 수 없다고만 서술함	30%

02/03 인권 침해와 구제 방법 ~ 근로자의 권리와 노동권 침해의 구제

016~017쪽

간단 체크
❶ (가) 이동, (나) 인격, (다) 외모, (라) 연령 ❷ (가) 자유권, 평등권, (나) 자유권, (다) 자유권, 평등권, (라) 자유권, 평등권 ❸ (가) 부당 해고, (나) 부당 노동 행위 ❹ 노동 위원회에 구제 신청, 법원에 재판 신청

개념 다지기 1단계

017쪽

01 인간 **02** 법원 **03** 헌법 재판소 **04** 노동조합 **05** 단체 교섭권 **06** 노동 위원회

실력 올리기 2단계

018~019쪽

01 ③ **02** ④ **03** ② **04** ⑤ **05** ⑤ **06** 해설 참조
07 ④ **08** ④ **09** ④ **10** ⑤ **11** ③ **12** 해설 참조

01 인권 침해의 의미
인권 침해는 인간으로서 가지는 권리 또는 기본권을 존중받지 못하고 개인이나 국가 기관 등에 의해 인권이 침해되는 것을 말한다.

02 인권 침해의 발생 원인
인권 침해의 발생 원인으로는 사람들의 고정 관념이나 편견, 사회의 잘못된 관습이나 관행, 불합리한 법과 제도 등을 들 수 있다.
오답 분석 ㄱ. 인권 침해는 국가 권력에 의해서만 발생하는 것은 아니다. 개인이나 단체에 의한 인권 침해도 있다.
ㄷ. 인권 침해는 헌법에 보장된 기본권과 보장되지 않는 기본권을 모두 포함한다.

03 국가 기관에 의한 인권 침해
경찰이 최우승 씨의 외모를 보고 범인으로 지목한 후 영장 없이 체포한 것은 인권을 침해한 행위이다. 이는 국가 기관에 의한 인권 침해 사례이다.
오답 분석 ㄴ. 영장 없이 체포하였으므로 경찰의 정당하지 않은 공무 집행이 이루어졌다.
ㄹ. 외모를 이유로 인권 침해가 발생하였다.

04 고난도 헌법 재판소를 통한 인권 침해 구제
[자료 분석]
법률이 헌법에 어긋나는지를 판단하는 국가 기관은 헌법 재판소이다. 제시된 사례에서 헌법 재판소는 「의료법 제56조」가 표현의 자유를 침해하여 헌법에 어긋난다고 결정하였다.

[선택지 분석]
① 법원
➡ 재판을 통해 인권을 구제한다.
② 국회
➡ 법률을 제정하고 개정하는 입법부이다.
③ 대통령
➡ 행정부의 수반이자 국가 원수이다.
④ 검찰청
➡ 행정부 각부 중 하나인 법무부 산하 국가 기관으로 우리 사회의 법과 질서를 바로 세우고 국민의 안녕과 인권을 지키는 최고 법 집행 기관이다.
⑤ 헌법 재판소
➡ 위헌 법률 심판, 헌법 소원 심판을 통해 국민의 침해된 기본권을 구제하는 국가 기관이다.

05 국가 인권 위원회를 통한 인권 침해 구제
인권을 침해당했을 경우 법원, 헌법 재판소, 국가 인권 위원회와 같은 국가 기관을 통해 구제받을 수 있다. 제시문에서 설명하는 국가 기관은 국가 인권 위원회이다.

06 서술형 **인권 침해의 발생 원인**

모범 답안 사람들의 고정 관념이나 편견으로 인권 침해가 발생하였다.

채점 기준	배점
제시어를 모두 사용하여 인권 침해의 발생 원인을 정확하게 서술함	100%
인권 침해의 발생 원인을 적절하게 서술하였으나, 모든 제시어를 사용하지 않음	70%
장애를 이유로 인권 침해가 발생하였다고 서술함	30%

07 **노동권**

근로 조건이란 근로자가 노동력을 제공하는 조건으로 임금, 근로 시간, 휴일, 휴가 제도 등이 포함된다. 근로자가 인간다운 삶을 살기 위해서는 최소한의 근로 조건이 보장되어야 하며, 우리나라는 법률을 통해 근로 조건의 최저 기준을 제시하고 있다. ④ 노동 환경에서 불리한 위치를 차지하고 있는 것은 사용자가 아니라 근로자이다.

08 **노동권의 침해와 구제**

근로자가 부당 해고 및 부당 노동 행위로 인해 노동권이 침해된 경우 노동 위원회에 구제를 신청할 수 있고, 법원에 재판을 신청할 수 있다.

09 **노동 삼권**

노동 삼권은 근로자가 서로 단결하여 사용자와 대등한 위치에서 근로 조건을 협의할 수 있도록 부여된 권리이다. 단결권, 단체 교섭권, 단체 행동권이 노동 삼권이다.

오답 분석 ㄴ. 직장 폐쇄권은 근로자가 아닌 사용자에게 부여된 권리이다.

10 **단체 행동권**

근로자, 노동조합이 합법적인 절차를 거쳐 정당한 쟁의 행위를 할 수 있는 권리는 단체 행동권이다.

11 고난도 **단결권**

[자료 분석]

S전자 사장은 근로자들이 노동조합을 만들고 그에 가입하여 활동할 수 있는 권리인 단결권을 침해하였다.

[선택지 분석]

① 사회권
➡ 국민이 국가에 인간다운 생활의 보장을 요구할 수 있는 권리이다.

② 참정권
➡ 국가 기관의 형성과 국가의 정치적 의사 결정 과정에 참여할 수 있는 권리이다.

✓ ③ 단결권
➡ 노동조합과 같은 단체를 만들고 그에 가입하여 활동할 수 있는 권리이다.

④ 단체 교섭권
➡ 노동조합을 통해 사용자와 근로 조건을 협의할 수 있는 권리이다.

⑤ 단체 행동권
➡ 단체 교섭이 원만하게 이루어지지 않을 경우 쟁의 행위를 할 수 있는 권리이다.

12 서술형 **단체 교섭권**

모범 답안 단체 교섭권은 노동조합을 통해 사용자와 근로 조건을 협의할 수 있는 권리이다.

채점 기준	배점
제시어를 모두 포함하여 단체 교섭권의 의미를 정확하게 서술함	100%
단체 교섭권의 의미를 적절하게 서술하였으나, 모든 제시어를 포함하지 않음	70%
단체 교섭권이라고만 제시함	30%

020~023쪽

대단원 완성하기 3단계

01 ④ 02 ④ 03 ④ 04 ⑤ 05 ② 06 ④ 07 ⑤
08 ① 09 ④ 10 ① 11 ① 12 ⑤ 13 ⑤ 14 ②
15 ④ 16 ⑤ 17 ③ 18 ④

서술형

19 (1) 자유권 (2) [모범 답안] 질서 유지를 위해 기본권을 제한하였으나 자유와 권리의 본질적인 내용은 침해할 수 없다.

20 (1) 부당 해고 (2) [모범 답안] 노동 위원회에 구제 신청을 하거나 법원에 소송을 제기하여 침해당한 노동권을 구제받을 수 있다.

01 **인권 보장의 의미**

인권은 인간이 인간답게 살아가기 위해 마땅히 누려야 할 권리로, 인간이 태어나면서부터 당연히 가지는 권리이다. 최소한의 인간다운 삶을 살기 위해서는 인권 보장이 필요하며, 인권이 보장될 때 인간으로서의 존엄을 지키고 행복하게 살 수 있다.

오답 분석 ㄱ. 인권은 민주 국가의 국민뿐만 아니라 모든 인간에게 보장되어야 한다.
ㄷ. 인권은 어떤 상황에서도 보장되어야 하며, 국가 발전을 이유로 일시적으로 인권을 제한할 수 없다.

02 **인권의 특징**

인권은 국가가 성립되기 이전에 모든 인간에게 자연적으로 주어진 권리이다.

03 **천부 인권**

인권은 하늘이 부여한 권리라는 의미에서 천부 인권이라고 한다. 인권을 자연권이라고도 하는데 이는 인간에게 자연적으로 부여된 권리라는 의미이다.

04 **인권의 특징**

1950년대 미국에서 흑인은 인종을 이유로 인권을 보장받지 못했으며, 1980년대 이전에는 장애인의 화장실 접근권이 제한되었다. 인권은 누구나 가지는 기본적이고 보편적인 권리이므로 이와 같은 불합리한 측면이 개선되어 왔다.

05 **기본권의 의미와 특징**

헌법 제10조는 국가가 국민의 기본적 인권을 보장하고 있음을 명시한 것으로, 국민이 기본권을 침해당했을 때 구제받을 수 있는 근거가 된다.

오답 분석 ㄴ. 인권 보장을 헌법에 규정한 까닭은 인권 보장을 더 확실히 하기 위해서이다. 헌법을 통해서만 인권을 보장받을 수 있는 것은 아니다.
ㄹ. 인권은 국적에 관계없이 인간이라면 누구나 보장받아야 할 권리이다.

06 **사회권**
국민이 국가에 인간다운 생활을 요구할 수 있는 권리는 사회권이다. 사회권에는 근로의 권리, 교육을 받을 권리, 쾌적한 환경에서 살 권리 등이 포함된다.
오답 분석 ㄹ. 공정한 재판을 요청할 권리는 청구권에 해당한다. 청구권은 다른 기본권이 침해되었을 때 국가에 이의 구제를 요구할 수 있는 권리이다.

07 **청구권**
청구권은 국민이 국가에 대하여 특정한 행위를 요구하거나 침해당한 기본권의 구제를 청구할 수 있는 권리이다.

08 **자유권**
사례에서 김○○ 씨는 자신의 자유로운 선택에 따라서 요리사 직업을 갖게 되었다. 이는 자유권의 내용 중 직업 선택의 자유에 해당한다.

09 **기본권의 종류**
㈎는 국민 투표권에 해당하는데, 이는 참정권의 내용이다. ㈏는 쾌적한 환경에서 살 권리인 환경권에 해당하는데, 이는 사회권의 내용이다.

10 **참정권과 자유권**
자료에는 누구나 능력이 되어 시험을 통과하면 공무원이 될 수 있음이 나타나 있는데, 이는 공무 담임권으로 참정권의 내용이다. 또한 공무원으로서의 직업을 선택할 자유가 있음을 알 수 있다.
오답 분석 ㄷ. 9급 공무원이 되기 위해서는 실력을 갖춰 시험에 통과해야만 한다.
ㄹ. 인간다운 생활의 보장을 국가에 요구할 수 있는 권리는 사회권이다.

11 **기본권의 제한**
사전 허가를 받지 않은 사람은 해당 군 시설에 출입할 수 있는 자유와 사진 촬영의 자유를 제한당하고 있다. 따라서 자유권을 제한하는 조치이다.

12 **기본권 제한의 목적**
기본권 제한의 목적으로는 국가 안전 보장, 질서 유지, 공공복리를 들 수 있다. 제시된 자료에서 군 시설은 국가 안전 보장을 위해 설치·운영되고 있다. 따라서 군 시설에 대한 출입과 촬영의 자유를 제한한 것은 국가 안전 보장을 위해서이다.

13 **기본권의 제한**
국가 안전 보장, 질서 유지, 공공복리를 위하여 기본권을 제한할 수 있으나, 국민의 자유와 권리를 보장하기 위해 우리 헌법에서는 기본권 제한의 한계를 정하고 있다.
오답 분석 ㄱ. 기본권을 제한하더라도 자유과 권리의 본질적인 내용을 침해할 수 없다.
ㄴ. 우리 헌법은 국회가 만든 법률로써만 기본권을 제한할 수 있도록 규정하고 있다.

14 **인권 침해**
자료에서 현아는 수진이의 동의를 받지 않고 단체 대화방에 수진이의 사진을 올려 사생활을 침해함은 물론 외모로 모욕감을 느끼게 하였다. 이로 인해 수진이는 인권을 침해당하였다.
오답 분석 ㄴ. 개인의 기본권은 타인의 인권을 침해하지 않는 범위 내에서 행사되어야 한다.
ㄹ. 온라인 공간에서도 얼마든지 인권 침해가 발생할 수 있다.

15 **인권 침해의 구제**
침해된 인권은 법원에 재판 청구, 헌법 재판소에 헌법 소원 심판 청구, 국가 인권 위원회에 진정을 함으로써 구제받을 수 있다. 헌법에서 보장하는 인권이 공권력에 의하여 침해된 때에는 헌법 재판소에 헌법 소원 심판을 청구하여 구제받을 수 있다.

16 **단체 행동권**
노동 삼권에는 단결권, 단체 교섭권, 단체 행동권이 있다. 단체 교섭이 원만하게 해결되지 않은 경우 쟁의 행위를 할 수 있는 권리는 단체 행동권이다.

17 **부당 노동 행위**
근로자가 노동조합에 가입하여 활동했다는 이유로 불이익을 주거나 노동조합과의 단체 교섭을 거부하는 등 정당한 노동조합 활동을 방해하는 것을 부당 노동 행위라고 한다.

18 **부당 노동 행위의 구제**
부당 노동 행위가 발생하면 근로자 또는 노동조합은 노동위원회에 구제 신청을 할 수 있다.

19 서술형 **기본권 제한의 사유와 한계**
기본권은 국가 안전 보장, 질서 유지, 공공복지를 위하여 제한할 수 있으나, 자유와 권리의 본질적 내용은 침해할 수 없다.

채점 기준	배점
제시어를 모두 사용하여 기본권 제한의 사유와 한계를 모두 정확하게 서술함	100%
기본권 제한의 사유와 한계 중 하나만을 정확하게 서술함	70%
기본권을 제한할 수 있지만 한계가 있다고 서술함	30%

20 서술형 **부당 해고와 구제 방법**
노동권이 부당하게 침해받을 경우 노동 위원회에 구제 신청을 하거나 법원에 소송을 제기하여 구제를 받을 수 있다.

채점 기준	배점
제시어를 모두 사용하여 침해당한 노동권 구제 방법을 정확하게 서술함	100%
노동권 구제 방법을 적절하게 서술하였으나, 제시어를 모두 사용하지 않음	70%
법원과 노동 위원회를 통해 구제받는다고만 서술함	30%

Ⅱ 헌법과 국가 기관

01 국회의 위상과 역할

026~027쪽

✓ 간단 체크

❶ ㉠ 본회의, ㉡ 위원회 ❷ 본회의에 앞서 관련된 안건이나 법률안을 효율적이고 전문적으로 심의하기 위해서이다.
❸ (가) 입법에 관한 기능, (나) 일반 국정에 관한 기능, (다) 재정에 관한 기능

개념 다지기 1단계

027쪽

01 4년 02 간접 03 법률 04 지역구 05 득표율
06 교섭 단체 07 본회의 08 제정 09 행정부
10 국회 11 입법

실력 올리기 2단계

028~029쪽

01 ② 02 ③ 03 ① 04 ③ 05 ① 06 해설 참조
07 ① 08 ⑤ 09 ① 10 ① 11 ④ 12 해설 참조

01 국회의 권한

법률을 제정하고 개정할 수 있는 권한은 입법 기관인 국회에 있다. 국회는 국민의 의사를 반영하여 법률을 제정하는 입법 기관이며, 다른 국가 기관을 견제하고 감시하여 국민의 자유와 권리를 보장한다.

02 국회의 위상

국회는 국민이 직접 선출한 대표인 국회 의원으로 구성된 국민의 대표 기관이다.

오답 분석 ㄱ. 우리나라는 권력 분립의 원칙에 따라 입법부인 국회와 행정부가 분리되어 있다. 대통령 직속 기관은 행정부이다.

ㄹ. 법률을 만드는 국회는 사법 기관이 아니라 입법 기관이다.

03 국회의 위상

국회가 가지고 있는 법률 제정 및 개정권은 입법권이다.

오답 분석 ② 법률을 집행하는 행정권은 행정부의 권한이다.
③ 법률을 적용하는 사법권은 사법부의 권한이다.
④ 재판권은 사법권으로 사법부의 권한이다.
⑤ 사회권은 국회의 권한이 아니라 국민의 기본권 중 하나이다.

04 국회의 의미

선거를 통해 대표를 선출하고 정치를 맡기는 것은 간접 민주제이다. 국민이 선출한 대표로 구성된 국가 기관은 의회이며, 우리나라는 국회라고 부른다.

05 고난도 국회의 지위

[자료 분석]
국회는 국민의 대표 기관으로서 입법에 관한 기능, 재정에 관한 기능, 일반 국정에 관한 기능을 수행한다.

[선택지 분석]
㉠ 법률 제정·개정
➡ 입법 기관으로서의 지위에 따른 권한이다.
㉡ 헌법 개정안 제출
➡ 입법 기관으로서의 지위에 따른 권한이다.
✗ 정부의 감시 및 통제
➡ 국정 통제 기관으로서의 지위에 따른 권한이다.
✗ 국민의 선거로 선출된 대표로 구성
➡ 국민의 대표 기관으로서의 지위에 따른 권한이다.

06 서술형 국회의 의미

모범 답안 국민이 직접 선출한 대표로 구성된 국민의 대표 기관이다.

채점 기준	배점
제시어를 모두 사용하여 국회의 의미를 정확하게 서술함	100%
국회의 의미를 적절하게 서술하였으나, 모든 제시어를 사용하지 않음	70%
국회 의원들이 모여 있는 곳이라고 서술함	30%

07 국회의 조직

국회의 의사를 최종적으로 결정하는 곳은 위원회가 아닌 본회의이다. 특별 위원회는 위원회의 종류이다.

08 고난도 국회 의원

[자료 분석]
우리나라 국회 의원은 지역구 대표와 비례 대표로 구성됨을 알 수 있다.

[선택지 분석]
✗ 지역구 대표의 임기와 비례 대표의 임기는 다르다.
➡ 지역구 대표와 비례 대표는 선출 방법이 다른 것이다. 임기는 4년으로 동일하다.
✗ 지역구 대표와 달리 비례 대표는 국회 본회의에 참여할 수 없다.
➡ 지역구 대표와 비례 대표는 선출 방법에 차이가 있을 뿐 선출된 이후에는 동일한 권한을 갖는다. 국회 본회의에는 모든 국회 의원이 의결 과정에 참여한다.
㉢ 각 정당에 대한 유권자의 지지율이 국회 구성에 반영되어 있다.
➡ 비례 대표 국회 의원이 각 정당의 득표율에 비례하여 선출된다는 것은 각 정당에 대한 유권자의 지지율이 국회 구성에 반영되어 있음을 의미한다.
㉣ 우리나라 국회는 지역구 국회 의원과 비례 대표 국회 의원으로 구성되어 있다.
➡ 우리나라 국회는 국민들이 선거를 통해 지역에서 선출한 지역구 국회 의원(지역구 대표)과 각 정당의 득표율에 비례하여 선출된 비례 대표 국회 의원(비례 대표)으로 구성되어 있다.

09 국회의 기능

국회가 가지는 가장 대표적인 기능은 입법 기능이다. 민주 국가에서 국가 기관을 조직하고 국가 권력을 행사할 때는 법률에 근거해야 하므로 입법에 관한 권한을 국민의 대표 기관인 국회에 부여하고 있다.

10 국회의 기능

제시문에서 국회 본회의는 「청소년 복지 지원법」을 개정하였는데, 이는 법률 개정으로 국회의 입법 기능에 해당한다.

11 국회의 권한

대통령, 국무총리, 국무 위원 등 고위 공직자가 법률을 위반하였을 때 헌법 재판소에 심판(파면)을 요구하는 것은 탄핵 소추이다.

12 서술형 국회의 국정 통제 기능

모범 답안 국회는 국정 감사와 국정 조사를 통해 정부를 감시하고 견제한다.

채점 기준	배점
제시어를 모두 사용하여 국회의 일반 국정 기능을 정확하게 서술함	100%
국회의 일반 국정 기능을 적절하게 서술하였으나, 모든 제시어를 포함하지 않음	70%
단순히 제시어만 서술함	30%

02 대통령과 행정부의 역할

030~031쪽

✓ 간단 체크

❶ (다), (라), (마) ❷ (가), (나), (바) ❸ 감사원 ❹ 국무총리

개념 다지기 1단계 031쪽

01 직접 **02** 5년, 없다 **03** 대통령 **04** 있다 **05** 국가 원수
06 심의 **07** 국무총리 **08** 대통령 **09** 감사원

실력 올리기 2단계 032~033쪽

01 ⑤ **02** ⑤ **03** ① **04** ① **05** ② **06** 해설 참조
07 ① **08** ③ **09** ③ **10** ④ **11** ③ **12** 해설 참조

01 대통령의 지위

대통령은 국가 원수로서의 지위와 행정부 수반으로서의 지위를 갖는다.

고난도 **02** 대통령의 권한

[자료 분석]

대통령은 국가 원수로서의 지위에 따른 권한과 행정부 수반으로서의 지위에 따른 권한을 가진다.

[선택지 분석]

① ㉠–조약 체결권, ㉡–계엄 선포권
➡ 계엄 선포권은 국가 원수로서의 권한이다.

② ㉠–국군 통수권, ㉡–법률안 거부권
➡ 국군 통수권과 법률안 거부권은 모두 행정부 수반으로서의 권한이다.

③ ㉠–공무원 임면권, ㉡–법률안 거부권
➡ 공무원 임면권과 법률안 거부권은 모두 행정부 수반으로서의 권한이다.

④ ㉠–행정부 지휘·감독권, ㉡–대통령령 발포권
➡ 행정부 지휘·감독권과 대통령령 발포권은 모두 행정부 수반으로서의 권한이다.

✓ ⑤ ㉠–긴급 처분 및 명령권, ㉡–대통령령 발포권
➡ 긴급 처분 및 명령권은 국가 원수로서의 권한이고, 대통령령 발포권은 행정부 수반으로서의 권한이다.

03 대통령의 권한

국군 통수권은 대통령이 행정부 수반으로서 갖는 권한에 해당한다.

오답 분석 ②, ③, ④, ⑤는 대통령이 국가 원수로서 갖는 권한에 해당한다.

04 대통령의 권한

대통령이 다른 국가 정상과 정상 회담을 갖는 것은 국가 원수로서 대외적 국가 대표 권한을 행사하는 모습이다.

05 대통령의 임기 제한

대통령 중임을 허용할 경우 장기 집권으로 인해 독재 정권이 등장할 수 있기 때문에 이를 방지하기 위해서 우리 헌법은 대통령 중임을 금지하고 있다.

06 서술형 대통령의 권한

모범 답안 행정부의 공무원 임면권과 국군 통수권을 가진다.

채점 기준	배점
제시어를 모두 사용하여 행정부 수반으로서 갖는 권한을 정확하게 서술함	100%
행정부 수반으로서 갖는 권한을 적절하게 서술하였으나 모든 제시어를 사용하지 않음	70%
행정부의 대표라고만 서술함	30%

07 행정부의 역할

행정부는 법률에 따라 사회 질서를 유지하고 국민을 보호한다. 또한 각종 정책을 세우고 추진하며 공공시설을 만들고 관리한다.

오답 분석 ㄷ. 법률의 제정과 개정은 입법부의 역할이다.
ㄹ. 법률의 내용을 적용하여 재판을 진행하는 것은 사법부의 역할이다.

08 행정부의 조직

우리나라 행정부는 대통령을 중심으로 국무총리, 국무 회의, 행정 각부, 감사원 등으로 구성된다.

오답 분석 ③ 대법원은 행정부가 아닌 사법부의 조직이다.

09 국무총리의 지위와 역할
대통령을 보좌하며 행정 각부를 통할, 즉 지휘하고 조정하는 역할을 맡은 국가 기관은 국무총리이다.

10 행정과 행정부
㉠은 행정, ㉡은 행정부이다. 행정부의 최고 책임자는 대통령이다.
오답 분석 ㄱ. ㉠은 행정이다.
ㄷ. 국무총리, 감사원 모두 행정부 조직에 포함된다.

11 감사원
감사원은 대통령 직속 기관이자 행정부 조직 중 하나이다.
오답 분석 ③ 감사원은 사법 전반이 아닌 행정 전반에 대해 감시·감독한다.

12 서술형 국무 회의의 기능과 위상
모범 답안 행정부의 주요 정책을 심의하는 행정부 최고의 심의 기관이다.

채점 기준	배점
제시어를 모두 사용하여 국무 회의의 주요 기능과 위상을 정확하게 서술함	100%
국무 회의의 주요 기능과 위상을 적절하게 서술하였으나, 모든 제시어를 사용하지 않음	70%
행정부의 조직 중 하나라고만 서술함	30%

03 법원과 헌법 재판소의 역할

034~035쪽

간단 체크
❶ (가) 지방 법원, (나) 가정 법원, (다) 특허 법원, (라) 행정 법원
❷ 헌법 소원 심판 ❸ 공권력에 의해 국민의 기본권이 침해된 경우 최종적으로 이를 구제한다.

개념 다지기 1단계 035쪽

01 사법 02 법관 03 대법원 04 고등 법원 05 헌법 재판소 06 헌법 재판소 07 위헌 법률 심판 08 헌법 소원 심판 09 권한 쟁의 심판

집중 공략 A 036쪽

| 법원의 조직과 역할 |
01 대법원 02 ㉠: 고등 법원, ㉡: 대법원 03 항소 04 상고
05 ㉠: 특허 법원, ㉡: 대법원

01~04 우리나라 법원은 최고 법원인 대법원과 고등 법원, 지방 법원 등 각급 법원으로 조직되어 있다. 공정한 재판을 보장하기 위해 법원에서는 급을 두어 여러 번 재판을 받을 수 있도록 심급 제도를 운영하고 있다.

집중 공략 B 037쪽

| 헌법 재판소의 위상과 역할 |
01 위헌 법률 심판 02 헌법 소원 심판 03 ㉠: 헌법 소원 심판, ㉡: 국민 04 탄핵 심판, 국회

01~04 헌법 재판소는 헌법 수호 기관인 동시에 기본권 보장 기관이다. 헌법 재판소는 위헌 법률 심판, 헌법 소원 심판, 탄핵 심판, 권한 쟁의 심판, 정당 해산 심판을 담당한다.

실력 올리기 2단계 038~039쪽

01 ② 02 ① 03 ⑤ 04 ③ 05 ① 06 ③
07 해설 참조 08 ④ 09 ⑤ 10 ④ 11 ⑤ 12 ①
13 해설 참조

01 사법의 의미
사법은 법을 적용하고 판단하는 국가 활동이다. 사법 작용은 재판을 통해 이루어진다.
오답 분석 ① 입법은 법률을 제정하는 국가 활동이다.
② 행정은 법률을 집행하는 국가 활동이다.
④ 재판은 법률에 따른 판단을 내리는 것이다.
⑤ 권력은 다른 사람에게 무엇을 하도록 강제할 수 있는 힘이다.

02 사법권
우리나라에서 사법권은 법관으로 구성된 법원에 속해 있다. 그래서 법원을 사법부라고 한다.

03 공정한 재판
공정한 재판을 위해서는 외부 기관의 간섭과 압력으로부터 법원과 법관을 독립시키는 사법권의 독립이 이루어져야 한다. 또한 법관은 오직 헌법과 법률에 의하여 양심에 따라 판결해야 한다.
오답 분석 ㄱ. 우리나라는 공정한 재판을 위해서 특별한 사유가 없는 한 재판을 공개하고 있다.
ㄴ. 공정한 재판을 보장하기 위해서는 사법권이 독립되어야 한다. 법원의 재판 결과에 대해서 다른 국가 기관이 간섭하는 것은 금지되어 있다.

04 고등 법원
지방 법원 합의부 1심 재판에 대한 항소 사건은 2심 재판에 해당하며, 고등 법원이 담당한다. 고등 법원은 지방 법원, 가정 법원, 행정 법원의 1심 판결에 대한 항소 사건을 재판하는 법원이다.

05 대법원
대법원은 사법부 최고 법원으로 최종심인 3심을 담당하며, 대법원장 1인과 대법관 13인으로 구성된다.

06 가정 법원
가정 법원은 지방 법원과 동급 법원으로 가사 사건과 소년 보호 사건을 담당한다.
오답 분석 ㄱ. 특허권 분쟁은 특허 법원이 담당한다.
ㄹ. 지방 법원 단독 판사 판결에 대한 항소 사건은 지방 법원 본원 합의부가 담당한다.

07 서술형 **고등 법원의 역할**

모범 답안 지방 법원 등 1심 법원의 판결에 대한 항소 사건을 재판한다.

채점 기준	배점
제시어를 모두 사용하여 고등 법원의 역할을 정확하게 서술함	100%
고등 법원의 역할을 적절하게 서술하였으나, 제시어를 모두 사용하지 않음	70%
지방 법원의 상위 법원이라고만 서술함	30%

08 고난도 **사법부의 조직**

[자료 분석]

우리나라 사법부는 최고 법원인 대법원, 고등 법원, 지방 법원으로 구성되어 있다. 대법원은 최종심을 담당한다. 가정 법원과 행정 법원은 지방 법원과 동급이며, 특허 법원은 고등 법원과 동급이다.

[선택지 분석]

✗ 고등 법원은 3심 재판을 담당한다.
➡ 고등 법원은 2심 재판을 담당한다.

ㄴ. 행정 법원은 지방 법원과 동급 법원이다.
➡ 행정 법원, 가정 법원은 지방 법원과 동급 법원이다.

✗ 고등 법원 소속 법관은 대법원의 지시에 따라 판결해야 한다.
➡ 대법원은 고등 법원의 상급 법원이지만 법관의 독립이 보장되므로 고등 법원의 재판에 관여하거나 지시할 수 없다.

ㄹ. ㉠은 특허권 분쟁을 담당한다.
➡ 특허권 분쟁을 담당하는 특허 법원은 고등 법원과 동급 법원이다.

09 **헌법 재판소의 위상**

헌법 재판을 담당하는 국가 기관은 헌법 재판소이다. 헌법 재판소는 독립된 국가 기관으로 헌법 재판을 통해 헌법을 수호하고 국민의 기본권을 지키고 있다.

오답 분석 분쟁을 해결하기 위해 법을 해석하고 적용하는 일은 법원이 담당한다.

10 **헌법 재판소의 조직**

헌법 재판소는 헌법 수호 기관이자 기본권 보장 기관이며 9명의 헌법 재판관으로 구성된다. 헌법 재판관은 대통령이 임명한다.

11 **헌법 재판소의 역할**

위헌 법률 심판 제청은 법원의 역할이다. 헌법 재판소는 법원이 위헌 법률 심판 제청을 하면 이에 대한 위헌 법률 심판을 한다.

12 고난도 **위헌 법률 심판**

[자료 분석]

법률이 헌법에 위반되는지를 심판하는 것은 위헌 법률 심판으로, 법원이 제청하며 최종적인 심판 권한은 헌법 재판소가 가진다.

[선택지 분석]

ㄱ. ㉠은 위헌 법률 심판이다.
➡ 법률이 헌법에 위반되는지를 심판하는 것은 위헌 법률 심판이다.

ㄴ. ㉠은 헌법 재판소의 역할 중 하나이다.
➡ 위헌 법률 심판은 헌법 재판소의 역할 중 하나이다.

✗ ㉡의 주체는 국회이다.
➡ 위헌 법률 심판 제청은 법원이 한다.

✗ ㉡이 받아들여질 경우 해당 법률은 효력을 상실한다.
➡ 위헌 법률 심판 제청이 받아들여졌다고 해서 해당 법률의 효력이 상실되는 것은 아니다. 헌법 재판소가 최종적으로 해당 법률이 위헌이라는 결정을 내려야 효력이 상실된다.

13 서술형 **탄핵 심판의 의미**

모범 답안 고위 공직자가 헌법이나 법률을 위반했을 때 파면 여부를 심판한다.

채점 기준	배점
제시어를 모두 사용하여 탄핵 심판의 의미를 정확하게 서술함	100%
탄핵 심판의 의미를 적절하게 서술하였으나, 제시어를 모두 사용하지 않음	70%
탄핵을 심판하는 것이라고 서술함	30%

040~043쪽

대단원 완성하기 3단계

01 ② 02 ② 03 ⑤ 04 ③ 05 ③ 06 ② 07 ⑤
08 ① 09 ② 10 ③ 11 ② 12 ② 13 ① 14 ⑤
15 ⑤ 16 ③ 17 ②

서술형

18 (1) 국정 감사권 (2) [모범 답안] 행정부의 정책 결정과 집행을 감시하고 비판하여 행정부를 견제하기 위해서이다.

19 (1) A: 헌법 소원 심판, B: 헌법 재판소 (2) [모범 답안] 공권력에 의해 국민의 기본권이 침해된 경우 최종적으로 이를 구제하는 심판이다.

01 **입법의 의미**

법을 만드는 일을 입법이라고 하며, 우리나라 헌법에서는 입법권은 국회에 속한다고 규정하고 있다.

02 **국회의 조직**

국회는 헌법 개정안을 제안·의결한다. 국회는 각 지역구의 후보자 중 투표를 통해 선출된 지역구 국회 의원과 정당별 득표율에 비례하여 선출된 비례 대표 국회 의원으로 구성된다.

오답 분석 ㄴ. 국회가 구성되면 의장 1인과 부의장 2인을 선출한다.

ㄹ. 본회의에 앞서 관련된 안건이나 법률안을 심사하는 국회의 조직은 위원회로, 상임 위원회와 특별 위원회가 있다.

03 국회의 위상

국회가 다른 국가 기관을 비판하고 감시함으로써 국가 권력의 남용을 방지하고 국민의 기본권을 보장하는 것은 국정 통제 기관으로서의 위상에 해당한다.

오답 분석 ① 행정 기관은 행정부, ② 사법 기관은 법원과 헌법 재판소이다.

③, ④도 국회의 위상 중 하나이지만 제시문의 내용과는 관련이 없다.

04 국회의 권한

헌법 재판소장 임명권은 대통령의 권한이다. 국회는 대통령의 헌법 재판소장 임명에 대한 동의권을 갖는다.

05 국회 의원

우리나라 국회 의원은 지역 대표인 지역구 국회 의원과 각 정당의 득표율에 비례하여 의석수가 배정되는 비례 대표 국회 의원으로 구성된다. 국회 의원 선거에서 유권자는 지역구 국회 의원 선거 투표 용지 1장과 비례 대표 국회 의원 선거 투표 용지 1장으로 총 2장의 투표 용지를 받는다.

오답 분석 ㄱ. 우리나라 국회는 단원제이다.

ㄹ. 국회 의원 선거에서 유권자는 지역 대표 선거와 비례 대표 선거에 모두 참여한다.

06 국회의 역할

국회는 매년 정기적으로 국정 감사를 실시한다. 국회는 국정 감사를 통해 행정부의 정책 결정과 집행을 감시하고 비판한다.

오답 분석 ㄴ. 국회가 가지는 가장 대표적인 역할은 입법 기능이다.

ㄹ. 정부가 제출한 예산안을 심의·확정하는 국회 조직은 본회의이며, 이는 국회의 재정에 관한 기능이다.

07 국회의 법률 제정 · 개정

법률 공포 권한은 국회 의장이 아닌 대통령의 권한이다. 법률안 제출은 국회 의원 10인 이상 또는 정부가 할 수 있다. 국회의 주요 조직 중 하나인 위원회(상임 위원회)는 효율적이고 전문적인 심의를 위해 본회의에 앞서 관련된 안건이나 법률안을 심사한다. 본회의는 국회의 의사를 최종적으로 결정하는데, 본회의 의결을 위해서는 재적 의원 과반수 출석과 출석 의원 과반수 찬성이 필요하다. 본회의에서 의결된 법률안을 정부로 이송하면 대통령은 15일 이내에 공포하거나 거부권을 행사할 수 있다.

08 행정부

㉠은 행정부이며, 행정부 수반은 대통령이다. 행정부는 각종 정책을 세우고 추진하며, 법률에 따라 사회 질서를 유지하고 국민을 보호한다.

오답 분석 ㄷ. 국민이 직접 선출한 대표로 구성된 국민의 대표 기관은 국회이다.

ㄹ. 분쟁을 해결하는 과정에서 관련된 법률 내용을 해석하고 적용하는 국가 기관은 사법부(법원)이다.

09 대통령의 지위와 권한

대통령은 국가 원수이자 행정부 수반이다. 국군 통수권은 행정부 수반으로서의 권한이고, 국회의 동의를 얻어 대법원장을 임명하는 것은 국가 원수로서의 권한이다.

오답 분석 ㄴ. (나)는 헌법 기관 구성에 관한 권한이다.

ㄹ. 우리나라는 권력 분립의 원칙에 따라 입법부, 행정부, 사법부가 상호 견제와 균형을 이루면서 권한을 행사한다. 대통령이 국회의 동의를 얻어 대법원장을 임명하도록 한 것은 국회가 대통령을 견제하는 수단이 된다.

10 대통령의 지위와 권한

대통령은 국가 원수로서의 권한과 행정부 수반으로서의 권한을 갖는다. 헌법 제66조 제1항은 국가 원수로서의 권한을 규정하고 있다. 대통령령 발포권은 행정부 수반으로서의 권한 중 하나이다.

11 국가 기관 간 견제와 균형

탄핵 소추권, 국정 감사권, 대법원장 임명 동의권은 행정부를 견제하기 위한 입법부의 권한이다. 법률안 거부권은 입법부를 견제하기 위한 행정부의 권한이다. 위헌 법률 심사 제청권은 입법부를 견제하기 위한 사법부의 권한이다.

12 행정과 행정부의 조직

국무 회의의 의장은 대통령, 부의장은 국무총리이다. 국무총리는 대통령을 도와 행정 각부를 관리하고 감독한다.

13 감사원의 역할

㉠은 감사원이다. 감사원은 대통령 직속 기관이지만 독립적인 지위를 가지며 국가의 세입, 세출의 결산을 검사한다.

오답 분석 ㄷ. 구체적인 행정 사무를 집행하는 행정부 조직은 행정 각부이다.

ㄹ. 정부의 중요 정책을 심의하는 행정부의 최고 심의 기관은 국무 회의이다.

14 사법권의 독립

제시된 헌법 조항은 사법부의 독립을 보장하는 것이고, 이는 공정한 재판을 위해서이다. 즉, 법원은 다른 국가 기관의 간섭 없이 독립적으로 재판한다.

오답 분석 ㄱ. 직무상 헌법과 법률을 위배하는 등 중대한 비리를 범한 경우 법관도 탄핵 소추의 대상이 된다.

ㄴ. 법률 집행권은 행정부의 권한이며, 법원은 법률을 적용하여 재판한다.

15 법원의 조직과 역할

상고 사건은 2심 판결에 불복하여 3심을 청구하는 것이다. 상고 사건의 재판은 최종심이므로 고등 법원이 아닌 대법원이 담당한다.

16 헌법 재판소의 역할

위헌 법률 심판은 법원이 청구하는 것이다.

오답 분석 탄핵 심판은 국회가, 헌법 소원 심판은 국민이, 권한 쟁의 심판은 해당 기관이, 정당 해산 심판은 정부가 청구권자이다.

17 헌법 재판소

헌법 재판소는 헌법 수호 기관이자 기본권 보장 기관이다. 지방 법원은 1심 재판과, 지방 법원 단독 판사의 판결에 대한 항소 사건인 2심 재판을 담당한다.

오답 분석 ㄴ. 민법은 법률이며, 법률은 국회가 제정한다.

ㄹ. 호주제를 규정한 민법이 헌법에 위반된다고 심판한 것이므로 위헌 법률 심판에 해당한다.

18 서술형 **국회의 권한**

국회는 국정 감사와 국정 조사를 통해 행정부의 정책 결정과 집행을 감시하고 비판한다.

채점 기준	배점
제시어를 모두 사용하여 국회에 국정 감사권을 부여한 목적을 정확하게 서술함	100%
국회에 국정 감사권을 부여한 목적을 적절하게 서술하였으나, 제시어를 모두 사용하지 않음	70%
국회의 권한이기 때문이라고 서술함	30%

19 서술형 **헌법 소원 심판**

공권력에 의해 국민의 기본권이 침해된 경우 헌법 재판소는 헌법 소원 심판을 통해 이를 구제한다.

채점 기준	배점
제시어를 모두 사용하여 헌법 소원 심판의 의미를 정확하게 서술함	100%
헌법 소원 심판의 의미를 적절하게 서술하였으나, 제시어를 모두 사용하지 않음	70%
기본권 침해를 구제하는 심판이라고 서술함	30%

Ⅲ 경제생활과 선택

01 합리적 선택과 경제 체제

046~048쪽

✔ 간단 체크

❶ (나) ❷ (다) ❸ (가) ❹ 공기가 희소한 재화는 아니지만 환경 오염이 심각한 오늘날 맑은 공기는 희소한 재화가 될 수 있다. ❺ ②, ④ ❻ ①, ⑥ ❼ ③, ⑤ ❽ (1) ○ (2) ○

개념 다지기 1단계

048쪽

01 재화, 서비스 **02** 생산 **03** 소비 **04** 희소성 **05** 상대성 **06** 기회비용 **07** 최소, 최대 **08** 적게 **09** 생산물의 종류와 수량 **10** 시장 가격 **11** 혼합 경제 체제

집중 공략

049쪽

| 우리나라의 경제 체제 |

01 혼합 경제 체제 **02** 시장 경제 체제 **03** 환경 오염, 빈부 격차, 실업, 물가 상승 등 **04** 계획 경제 **05** 정부

01 오늘날 대부분 국가는 시장 경제 체제를 바탕으로 정부가 경제에 어느 정도 개입하는 혼합 경제 체제이다.

04 계획 경제 체제에서는 국가가 경제 활동에 대한 계획을 세우고 개인과 기업에 명령함으로써 경제 문제를 해결하여 근로자의 근로 의욕이 저하되는 문제가 나타났다.

실력 올리기 2단계

050~051쪽

01 ① **02** ① **03** ④ **04** ④ **05** ① **06** ③ **07** ④
08 ④ **09** 해설 참조 **10** ② **11** ① **12** 해설 참조

01 **경제 활동의 의미**

㉠에 알맞은 말은 경제 활동이다. 재화나 서비스를 생산, 분배, 소비하는 모든 활동을 경제 활동이라고 한다.

오답 분석 ② 분배 활동은 생산 요소를 제공하고 그에 대한 대가를 받는 활동이다.

③ 생산 활동은 재화나 서비스를 만들어 내거나 가치를 증대시키는 활동이다.

④ 소비 활동은 분배를 통해 얻은 소득으로 재화나 서비스를 구매하여 사용하는 활동이다.

02 **경제 활동의 종류**

제시된 글은 경제 활동의 종류 중 분배에 관한 설명이다. 분배는 가계가 생산 요소를 제공하고 그에 대한 대가를 받는 것이다. ㄱ은 노동의 대가로 임금을, ㄴ은 자본의 대가로 이자를 받은 경우이다.

오답 분석 ㄷ은 서비스를 소비하는 활동, ㄹ은 재화를 소비하는 활동이다.

03 경제 활동의 구분

(가)는 의사가 환자를 진료하는 생산 활동이며, (나)는 아이스크림을 사 먹음으로써 만족감을 증대하는 소비 활동이다. 사람들은 생산 활동에 참여한 대가를 분배받은 소득으로 소비 활동을 한다.

오답 분석 ㄱ, ㄷ. (가)는 생산 활동, (나)는 소비 활동으로 모두 경제 활동이다. 간식비와 도서 구입비는 재화를 소비하는 데 지출한 항목이다.

04 재화와 서비스

제시된 용돈 사용 내역에서 치과 치료비, 교통비, 영화 관람비, 인터넷 강의 수강료가 서비스를 소비하는 데 지출한 비용이므로 총 39,000원이다.

05 고난도 경제 활동의 구분

[자료 분석]

(가)는 재화를 생산하는 활동, (나)는 재화를 소비하는 활동, (다)는 서비스를 생산하는 활동, (라)는 서비스를 소비하는 활동이다.

[선택지 분석]

ㄱ. (가): 분식점에서 김밥을 만든다.
➡ 김밥은 재화이다. 따라서 분식점에서 김밥을 만드는 것은 (가)에 해당한다.

(나): 갑이 백화점에서 티셔츠를 구입한다.
➡ 티셔츠는 재화이다. 따라서 티셔츠를 구입하는 것은 (나)에 해당한다.

ㄷ. (다): 을이 인터넷으로 사회 강의를 수강한다.
➡ 인터넷 사회 강의는 서비스이고, 강의를 수강하는 것은 소비 활동이다. 따라서 인터넷으로 사회 강의를 수강하는 것은 (라)에 해당한다.

(라): 변호사가 형사 사건의 의뢰인을 변론한다.
➡ 변호사가 의뢰인을 변론하는 것은 서비스를 생산하는 것이므로, (다)에 해당한다.

06 자원의 희소성

희소성은 선택의 문제가 발생하는 근본 원인이며, 시대와 장소에 따라 달라지는 상대성을 띤다. 또한 재화가 희소할수록 경제적 가치도 높아진다. 희소성은 자원의 절대적인 양이 많고 적음에 따라 결정되는 것이 아니라 인간의 필요와 욕구에 의해 결정된다.

07 합리적 선택

3,000원으로 얻을 수 있는 최대 만족도는 어묵의 8, 4,000원으로 얻을 수 있는 최대 만족도는 떡볶이의 10이므로, 7,000원으로 만족을 최대화하려면 어묵과 떡볶이를 선택해야 한다.

오답 분석 만족도가 ①은 8, ②는 12, ③은 14이므로 ④의 18보다 작다.
⑤는 7,000원으로 소비할 수 없는 조합이다.

08 합리적 선택

연우는 티셔츠 구입 대신 영화 관람을 선택하였으므로, 연우에게 영화 관람의 편익이 티셔츠 구입의 편익보다 더 큼을 알 수 있다.

오답 분석 ① 기회비용은 사람마다 다르다.
② 티셔츠 구입의 편익이 기회비용이 된다.
③ 연우는 편익이 더 큰 영화 관람을 선택하였다.
⑤ 합리적인 선택은 '비용-편익'을 고려하여 같은 비용이라면 더 큰 편익을 선택하는 것이다.

09 서술형 자원의 희소성

모범 답안 인간의 욕구는 무한하지만 이를 채워줄 수 있는 자원은 부족한 상태를 말한다.

채점 기준	배점
제시어를 모두 사용하여 자원의 희소성의 의미를 정확하게 서술함	100%
자원의 희소성의 의미를 적절하게 서술하였으나, 제시어를 모두 사용하지 않음	70%
자원이 희소한 것이라고 서술함	30%

10 계획 경제 체제

계획 경제 체제는 개인의 사적 이익 추구가 인정되지 않기 때문에 근로 의욕이 저하되는 문제점이 나타난다.

오답 분석 ①, ③, ④, ⑤는 시장 경제 체제의 문제점이다.

11 고난도 경제 체제의 구분

[자료 분석]

(가)는 시장의 경제 문제가 시장 가격을 통해 해결되는 시장 경제 체제이고, (나)는 국가의 계획과 명령으로 경제 문제를 해결하는 계획 경제 체제이다.

[선택지 분석]

① (가)에서는 자원이 효율적으로 배분된다.
➡ 시장 경제 체제에서는 자원의 효율적 배분을 강조한다.

② (가)는 생산성이 하락한다는 단점이 있다.
➡ 생산성이 하락하는 것은 (나) 계획 경제 체제의 단점이다.

③ (나)는 개인의 능력과 창의성을 중시한다.
➡ 개인의 능력과 창의성을 중시하는 것은 (가) 시장 경제 체제의 장점이다.

④ (나)에서는 공동체의 이익이 침해된다는 문제가 있다.
➡ 지나친 개인의 이익 추구로 공동체의 이익이 침해되는 것은 (가) 시장 경제 체제의 단점이다.

⑤ (가)는 (나)에 비하여 상대적으로 형평성을 강조한다.
➡ (가) 시장 경제 체제는 (나) 계획 경제 체제에 비해 효율성을 강조한다.

12 서술형 시장 경제 체제에서의 정부 개입

모범 답안 빈부 격차나 환경 오염과 같은 사회 문제 해결과 경제 안정을 위해 정부가 경제에 개입하고 있다.

채점 기준	배점
제시어를 모두 사용하여 시장 경제 체제에서 정부의 개입이 나타나는 까닭을 정확하게 서술함	100%
시장 경제 체제에서 정부의 개입이 나타나는 까닭을 적절하게 서술하였으나, 제시어를 모두 사용하지 않음	70%
시장 경제 체제의 문제점을 해결하기 위해 정부가 개입한다고 서술함	30%

02 기업의 역할과 사회적 책임

052~053쪽

간단 체크

❶ (가) 가계, (나) 기업, (다) 정부 ❷ 사회적 ❸ (1) ○ (2) ×

개념 다지기 1단계

053쪽

01 기업 02 이윤 03 임금 04 사회적 05 혁신
06 기업가

실력 올리기 2단계

054~055쪽

01 ② 02 ① 03 ② 04 ⑤ 05 ② 06 해설 참조
07 ⑤ 08 ③ 09 ① 10 ② 11 ③ 12 해설 참조

01 기업의 목적

제시문에서 설명하는 경제 주체는 기업이다. 기업은 이윤을 증대하기 위해 새로운 상품을 만들거나 생산 기술을 개발하는데, 이러한 노력이 기업을 발전시키고 사회 전체에 긍정적인 영향을 끼친다.

02 기업의 역할

제시문에서 ○○ 회사는 생산 과정에 필요한 노동, 토지, 자본을 제공받고 그에 대한 대가를 지급하여 가계 소득을 창출한다.

03 기업의 경제 활동

기업은 재화와 서비스를 생산하고 판매하며, 근로자를 고용하여 일자리를 제공하고 임금을 지급한다.

오답 분석 ㄴ. 자본을 제공한 대가로 이자를 받는 것은 가계이다.

ㄹ. 세금을 바탕으로 공공재를 생산하는 것은 정부이다.

04 고난도 기업의 역할

[자료 분석]

갑이 다니는 회사가 생산한 제품의 주문량이 증가하여 국내에 공장을 더 확장하면 이윤이 증가할 것이고, 이에 따라 더 많은 세금을 내 국가 재정에 이바지할 것이다.

[선택지 분석]

① 공장 주변 지역은 환경이 오염될 것이다.
➡ 공장 주변은 환경이 오염될 가능성이 크다.

② 공장 주변 지역은 매연으로 사람들이 떠날 것이다.
➡ 공장 주변의 환경 오염으로 지역을 떠나는 사람들이 늘어날 것이며, 이는 부정적 영향이다.

③ 생산 활동이 활발해져 가계 소득은 감소할 것이다.
➡ 생산 활동이 활발해져 기업의 수익이 커지면 가계 소득은 증가할 것이다.

④ 생산 시설을 확장하는 과정에서 고용이 줄어들 것이다.
➡ 생산 시설을 확장하는 과정에서 고용이 늘어날 것이다.

⑤ 이전보다 세금을 더 많이 내게 되어 국가 재정에 이바지할 것이다.
➡ 물건을 많이 생산하고 판매하면 그에 따른 세금도 더 많이 납부하게 되므로 국가 재정에 이바지하게 된다.

05 기업의 경제 활동

기업은 생산 과정에서 일자리를 만들어 사람들을 고용하고, 임금을 지급함으로써 가계에 소득을 제공한다.

06 서술형 기업의 경제 활동

모범 답안 기업이 생산 활동을 하여 벌어들인 수입 중 일부를 세금으로 납부하여 국가 재정에 이바지한다.

채점 기준	배점
제시어를 모두 사용하여 기업이 국가 재정에 이바지하는 과정을 정확하게 서술함	100%
기업이 국가 재정에 이바지하는 과정을 적절하게 서술하였으나, 제시어를 모두 사용하지 않음	70%
기업이 성장하면 국가 경제도 성장한다고 서술함	30%

07 기업가의 바람직한 자세

고가의 사은품을 제공하여 상품의 판매량을 늘리는 것은 상품의 질이나 가격을 통한 공정한 경쟁이 아니기 때문에 기업가가 가져야 할 바람직한 자세와는 거리가 멀다.

08 고난도 기업의 활동

[자료 분석]

제시문은 □□ 기업이 기부 활동을 통해 사회적 책임을 다하고 있는 사례를 보여 주고 있다.

[선택지 분석]

✕ ㄱ. 기업의 본래 목적을 추구하기 위한 노력이다.
➡ 기업은 본래 이윤의 극대화를 추구한다.

○ ㄴ. 사회 전체의 복지를 증진하는 데 기여하고 있다.
➡ 제시문은 기업이 이윤을 추구하는 것 외에 사회적 책임을 수행하는 활동을 나타내고 있다.

○ ㄷ. 장기적 관점에서 소비자에게 좋은 인식을 심어줄 수 있다.
➡ 기업의 기부 활동은 소비자에게 좋은 인식을 심어줄 가능성이 크다.

✕ ㅁ. 경제 환경에 신속하게 대처할 수 있는 경쟁력을 갖추는 데 도움이 된다.
➡ 경제 환경에 신속하게 대처할 수 있는 경쟁력을 갖추기 위해서는 기업가 정신을 갖추어야 한다.

09 기업가 정신

제시문은 기업가 정신을 설명하고 있다. 오래된 것을 거부하고 새로운 것을 끊임없이 만들어 내는 창조적 파괴가 기업가 정신의 핵심이다.

10 기업가 정신의 사례

기업가 정신이란 새로운 아이디어로 새로운 상품을 개발하고 새로운 시장을 개척하려는 기업가의 혁신적인 자세를 말한다. 현재 잘 팔리는 제품의 생산량을 늘리는 것은 기업가 정신을 발휘한 사례와는 거리가 멀다.

11 기업가 정신

◇◇ 기업의 설립자는 새로운 상품 개발을 강조하고 있다. 새로운 아이디어 없이 기업은 성장할 수 없다고 말하면서 신제품 개발에 힘쓰도록 하고 있다.

12 서술형 기업의 윤리적 책임

모범 답안 ◎◎ 기업은 기업의 사회적 책임으로 저소득층을 도와주는 사회 공헌 활동을 실천하고 있다.

채점 기준	배점
제시어를 모두 사용하여 기업의 활동을 윤리적 책임과 관련지어 정확하게 서술함	100%
기업의 활동을 윤리적 책임과 관련지어 적절하게 서술하였으나, 제시어를 모두 사용하지 않음	70%
기업이 윤리적 책임을 다하고 있다고 서술함	30%

03 바람직한 금융 생활

056~057쪽

간단 체크

❶ 중 · 장년기 ❷ 노년기 ❸ 주식 ❹ 예금, 적금

개념 다지기 1단계

057쪽

01 중 · 장년기 **02** 생애 주기 **03** 실물 자산, 금융 자산
04 예금 · 적금 **05** 수익성 **06** 신용

실력 올리기 2단계

058~059쪽

01 ① **02** ⑤ **03** ① **04** ③ **05** ③ **06** ⑤ **07** ④
08 ② **09** 해설 참조 **10** ③ **11** ④ **12** ②
13 해설 참조

01 생애 주기 곡선

㈎는 유소년기, ㈏는 청년기, ㈐는 중년기, ㈑는 장년기, ㈒는 노년기이다. 유소년기에는 부모님의 수입에 의존하여 소비 활동을 한다. 소비 활동보다 생산 활동을 많이 하는 시기는 청년기부터 시작하여 장년기, 중년기이다.

02 생애 주기의 단계

A는 노년기, B는 청년기, C는 중 · 장년기이다. 따라서 생애 주기의 단계는 B–C–A의 순서로 진행된다.

오답 분석 ① 자아 정체성을 확립하며 진로를 탐색하는 시기는 청소년기이다.
② 청년기 이전에는 주로 부모님의 수입에 의존한다.
③ 취업과 결혼을 준비하는 시기는 청년기이다.
④ 은퇴 이후의 삶은 점점 길어지고 있는 추세이다.

03 일생 동안의 경제생활

사람은 일생 동안 경제생활을 하게 되는데, 소득을 얻을 수 있는 기간은 제한되어 있지만 소비 생활은 평생에 걸쳐 이루어진다.

04 자산의 종류

기업이 사업 자금을 마련하기 위하여 투자자에게서 돈을 받고 발행한 증서는 주식이다. 주식은 수익성이 높지만 주가 하락으로 원금이 손실될 수 있는 위험이 크다.

05 자산 관리의 원칙

자산 관리의 원칙에는 안전성, 수익성, 유동성이 있으며, 현금으로 바꿀 수 있는 정도를 유동성이라고 한다.

06 고난도 금융 상품의 특징

[자료 분석]

높은 수익을 기대할 수 있는 상품은 위험이 발생할 가능성이 크고, 안정적인 상품은 수익을 기대하기 어려운 경우가 많다. 따라서 ㈎는 고수익 · 고위험 상품, ㈏는 저수익 · 저위험 상품이다.

[선택지 분석]

① ㈎에는 주식이 속한다.
➡ 주식은 수익성이 높지만 위험 부담도 큰 편이다.
② ㈏에는 정기 예금이 속한다.
➡ 정기 예금은 안전하기는 하지만 수익이 낮은 편이다.
③ ㈎는 고수익 · 고위험 상품이 해당한다.
➡ (가)는 수익은 높지만 위험한 상품이 해당된다.
④ ㈏는 ㈎에 비해 수익성과 위험성이 낮다.
➡ (나)는 수익성과 위험성이 (가)에 속하는 상품보다 낮다.
⑤ 투자한 원금을 보장받고자 한다면 ㈎에 해당하는 상품을 선택해야 한다.
➡ 투자한 원금을 보장받고자 하는 것은 안전성을 중시한다는 의미이므로 (나)에 해당하는 저수익 · 저위험 상품을 선택해야 한다.

07 고난도 자산 관리 방법

[자료 분석]

갑은 금융 자산을 분산 투자하지 않고 주식에 모두 투자하였으며, 주식 투자가 원금 손해를 가져올 수 있다는 것을 간과하였다.

[선택지 분석]

✗ 자산을 단기적으로 운용하였다.
➡ 자산을 단기적으로 운용하였다는 내용은 나타나 있지 않다.
ㄴ. 주식 투자의 위험성을 간과하였다.
➡ 주식은 수익성이 높지만 원금을 손실할 위험성이 높은 상품이다.
✗ 안전성이 높은 상품에 집중하여 투자하였다.
➡ 주식은 안전성보다는 수익성을 추구하는 상품이다.
ㄹ. 한 가지 자산에만 투자함으로써 위험을 분산시키지 않았다.
➡ 자산 관리는 하나의 상품에 집중 투자하는 것보다 분산 투자를 하는 것이 위험 분산에 유리하다.

08 합리적인 자산 관리 방법

노후에 대비하기 위해 연금을 활용하거나 언제 닥칠지 모르는 위험에 대비하기 위해 보험 상품에 가입하는 것은 합리적인 자산 관리 방법이다.

오답 분석 ㄴ. 부동산은 현금화할 수 있는 정도인 유동성이 낮은 자산이다.
ㄹ. 주식은 원금 손실의 위험이 있다.

09 서술형 **금융 자산의 특징**

모범 답안 정기 적금이 주식보다 안전성은 높지만, 고수익을 기대하기는 어렵다.

채점 기준	배점
제시어를 모두 사용하여 정기 적금과 주식의 특징을 정확하게 비교하여 서술함	100%
정기 적금과 주식의 특징을 적절하게 비교하였으나, 제시어를 모두 사용하지 않음	70%
정기 적금이 안전하다고만 서술함	30%

10 **자산 관리 방법**

일정 금액을 정해둔 기간 동안 맡기는 것은 정기 예금이고, 일정 금액을 정기적으로 납부한 후 만기에 찾는 것은 정기 적금이다.

11 **신용의 의미**

제시문은 신용에 관해 설명하고 있다. 신용은 금전 거래에서 약속한 금액을 갚을 수 있는 능력으로, 원활한 경제생활을 위해서 필요하다.

12 **신용의 특징**

경제생활을 하다 보면 소득을 잘 관리하고 합리적으로 소비하더라도 돈을 빌려야 하는 상황이 생길 수 있는데, 이때 필요한 것이 신용이다. 즉, 신용은 돈을 빌려줄 상황이 아니라 돈을 빌려야 하는 상황에서 필요하다.

13 서술형 **신용 관리의 중요성**

모범 답안 신용이 떨어지면 금융 기관에서 대출받기 어려워질 수 있으며, 대출을 받아도 높은 이자를 부담해야 하는 경우가 생긴다.

채점 기준	배점
제시어를 모두 사용하여 신용이 떨어지면 겪을 수 있는 어려움을 정확하게 서술함	100%
신용이 떨어지면 겪을 수 있는 어려움을 적절하게 서술하였으나, 제시어를 모두 사용하지 않음	70%
신용이 떨어지면 경제생활이 어렵다고만 서술함	30%

060~063쪽

대단원 완성하기 3단계

01 ③ **02** ② **03** ④ **04** ⑤ **05** ② **06** ② **07** ②
08 ⑤ **09** ④ **10** ② **11** ④ **12** ③ **13** ① **14** ④
15 ① **16** ④ **17** ① **18** ⑤ **19** ③ **20** ③

서술형

21 (1) A: 가계, B: 정부 (2) [모범 답안] 기업이 A에 ㉠ 상품을 공급하면 A는 ㉡ 상품 대금을 기업에게 지급한다.

22 (1) A: 예금, B: 주식 (2) [모범 답안] A는 B보다 안전성이 높아 원금을 보전할 가능성이 크다.

01 **경제 활동**

제시문은 생산 활동에 관해 설명하고 있다. 물품을 배달하는 것, 손님의 머리를 파마하는 것은 서비스를 생산하는 활동이다.

오답 분석 ㄱ. 예금 이자를 받는 것은 분배 활동이다.
ㄹ. 영화를 관람하는 것은 소비 활동이다.

02 **경제 활동의 구분**

(가)에서 갑은 생산 요소인 노동력을 제공하고 그에 대한 대가로 월급을 받았으므로 이는 분배 활동이다. (나)에서 을은 서비스를 제공하는 생산 활동을 하고 있다.

03 **재화의 희소성**

갑은 일요일에 축구도 하고 싶고, 용돈도 벌고 싶어 한다. 즉, 욕구는 무한하지만 이를 충족할 수 있는 시간이라는 자원은 한정되어 있는데, 이를 경제학적 개념으로 자원의 희소성이라고 한다.

04 **합리적 선택**

합리적인 선택을 하려면 어떤 것을 선택해서 얻을 수 있는 편익이 선택에 따른 기회비용보다 크도록 해야 한다. 이때 아무리 만족을 크게 가져다 주는 선택이라도 비용을 고려하여 선택하는 것이 합리적이다.

05 **합리적인 의사 결정 과정**

제시된 내용은 민수가 운동화를 사기 위하여 선택할 수 있는 다양한 대안을 찾아보는 것이므로, 대안 탐색 단계에 해당한다.

오답 분석 ① 문제 인식 단계에서는 해결해야 할 문제가 무엇인지 분명히 한다.
③ 대안 평가 단계에서는 비용과 편익을 포함한 평가 기준을 세워 각 대안을 평가한다.
④ 대안 선택과 실행 단계에서는 평가 기준을 잘 충족하는 최적의 대안을 선택한다.
⑤ 대안 평가 및 반성 단계에서는 결정된 대안을 평가하고 반성한다.

06 **시장 경제 체제의 문제점**

시장 경제 체제에서는 시장의 가격 기능만으로는 해결하기 어려운 빈부 격차나 환경 오염 등의 문제가 나타나며, 이를 해결하기 위해 정부의 개입이 필요하다.

오답 분석 ①, ③, ④, ⑤는 시장 경제 체제의 장점이다.

07 **시장 경제 체제와 계획 경제 체제**

시장 경제 체제에서는 경제 문제가 시장의 가격에 의해, 계획 경제 체제에서는 정부의 계획과 명령에 따라 해결된다. 따라서 ㄱ, ㄷ은 시장 경제 체제에서 이루어지는 경제 활동이다.

오답 분석 ㄴ, ㄹ은 계획 경제 체제에서 이루어지는 경제 활동이다.

08 **우리나라의 경제 체제**

제시된 헌법 조항은 정부가 경제의 민주화를 위해 시장 경제에 개입할 수 있는 근거를 보장하고 있다.

오답 분석 ① 국민과 국가의 이익이 항상 대립하는 것은 아니다.
② 우리나라가 계획 경제 체제를 실행하고 있다고 판단할 수 있는 근거는 아니다.
③ 제시된 헌법 조항은 형평성을 강조하고 있다.

④ 시장의 가격 기능만으로 해결하기 어려운 문제를 해결하기 위해 정부가 시장에 개입하고 있다.

09 **경제 주체의 역할**

ㄴ. ㄹ. 기업은 생산 활동의 주체로 다양한 재화를 만들어 가계에 제공하며, 생산 과정에서 일자리를 만들어 고용을 창출한다.

오답 분석 ㄱ. 재화와 서비스를 구매하여 시장 경제를 활성화하는 것은 가계의 활동이다.

ㄷ. 세금을 거두어 사회 구성원이 필요로 하는 재화를 제공하는 것은 정부의 경제 활동이다.

10 **기업의 역할**

기업은 생산 활동으로 벌어들인 수입 중 일부를 국가에 세금으로 낸다. 기업이 내는 세금은 국가 수입에서 큰 비중을 차지하며 국가의 재정 활동에 기여한다.

11 **기업의 사회적 책임**

제시문은 기업이 기부 활동을 통해 사회적 책임을 다하고 있는 사례를 보여 주고 있다.

12 **기업가의 혁신**

혁신은 새로운 제품 개발, 비용을 절감하는 새로운 생산 방식 도입, 새로운 시장 개척 등을 총칭하는 개념이다. 고가의 사은품 증정 행사는 기업의 혁신 사례로 볼 수 없다.

13 **기업가 정신**

제시문에는 ◇◇ 오토바이 회사 사장이 새로운 시장을 개척하고자 하는 기업가 정신이 드러나 있다. 기업가 정신이란 새로운 아이디어로 새로운 상품을 개발하고 새로운 시장을 개척하려는 기업가의 혁신적인 자세를 말한다.

14 **기업의 사회적 책임**

△△ 기업이 생산한 플라스틱 용기에서 기준치 이상의 환경 호르몬 물질이 검출되었다. 즉 △△ 기업은 소비자에게 안전한 제품을 생산하여 제공해야 할 사회적 책임을 다하지 못하였다.

15 **생애 주기 곡선**

ㄱ. A는 청년기로, 생산 활동을 하며 소득이 생기기 시작하는 단계이다. 그 이전에는 대부분 부모님이나 보호자의 도움을 받아야 생활을 할 수 있다. ㄴ. 소득이 소비보다 많이 발생하는 A ~ C 구간에서는 저축을 할 수 있다.

오답 분석 ㄷ. 저축을 할 수 있는 금액은 줄지만 저축이 꾸준히 발생하고 있으므로 저축 총액은 늘어난다.

ㄹ. 정년이 연장되면 소득이 계속 발생하므로 B와 C 간의 거리는 점점 길어진다.

16 **자산 관리의 중요성**

미래의 불확실한 상황이나 노후에 대비하기 위해서는 자산을 확보하고 효율적으로 관리해야 한다. ④ 소비 활동과 달리 생산 활동을 할 수 있는 기간은 제한되어 있기 때문에 자산 관리가 필요하다.

17 **자산 관리 방법**

제시문의 자산 관리사는 모든 자산을 한 상품에 집중하여 투자하는 것을 지양하고 분산 투자할 것을 권장하고 있다.

18 **자산 관리 방법**

(가)는 채권, (나)는 주식에 관한 설명이다. 회사가 발행한 주식에 투자하면 높은 수익을 기대할 수 있지만, 원금이 손실될 우려가 크다. 한편, 국가나 공공 기관, 기업 등이 발행한 채권은 주식에 비해 안전성이 높다.

19 **금융 상품의 종류**

제시된 자료의 내용에서 '이율을 우대', '기본 이율' 등의 표현을 통해 은행 예금을 홍보하고 있음을 알 수 있다. ③ 배당금이 지급되는 것은 주식이다.

20 **신용 거래의 특징**

신용이란 금전 거래에서 채무자가 약속된 날짜에 약속한 금액을 갚을 수 있는 능력이나 이에 대한 사회적 믿음을 말한다. 신용 거래를 하게 되면 상품을 먼저 받고 비용을 나중에 지불할 수 있다.

21 서술형 **경제 활동 주체 간의 상호 작용**

가계는 기업에 노동과 자본 등을 제공하고 그 대가로 소득을 얻어 소비한다. 기업은 제공받은 노동과 자본 등을 이용해 재화나 서비스를 생산하여 이윤을 추구한다. 그리고 정부는 가계와 기업이 낸 세금으로 국방, 치안, 도로, 교육 등을 생산하거나 기업이 생산한 재화와 서비스를 소비한다.

채점 기준	배점
제시어를 모두 사용하여 기업과 A의 상호 작용을 정확하게 서술함	100%
기업과 A의 상호 작용을 적절하게 서술하였으나, 제시어를 모두 사용하지 않음	70%
기업과 A가 서로 상호 작용한다고 적절하게 서술함	30%

22 서술형 **자산 관리 방법**

A는 고수익, 고위험 상품군이고, B는 저수익 저위험 상품군이다. 일반적으로 예금과 적금은 안전성은 높은 데 비해 수익성이 낮고, 주식은 수익성이 높은 데 비해 안전성이 낮다.

채점 기준	배점
제시어를 모두 사용하여 예금과 주식의 원금 보전 가능성을 정확하게 서술함	100%
예금과 주식의 원금 보전 가능성을 적절하게 서술하였으나, 제시어를 모두 사용하지 않음	70%
원금 보전 가능성은 예금이 높다고 서술함	30%

Ⅳ 시장 경제와 가격

01 시장의 의미와 종류

066~067쪽

✓ 간단 체크

❶ 자급자족 ❷ 화폐 ❸ (가) ❹ (나), (다) ❺ (나), (다), (라)

개념 다지기 1단계 067쪽

01 거래 비용 **02** 후에 **03** 화폐 **04** 감소 **05** 거래 형태
06 생산 요소 **07** 생산물 **08** 전자 상거래

실력 올리기 2단계 068~069쪽

01 ① **02** ② **03** ③ **04** ⑤ **05** ① **06** 해설 참조
07 ③ **08** ③ **09** ⑤ **10** ② **11** 해설 참조

01 시장의 의미

시장은 경제생활에 필요한 재화와 서비스의 수요와 공급을 연결하는 곳이다.

오답 분석 ② 눈에 보이지 않는 시장도 존재한다.
③ 우리 주변에서는 상설 시장을 더 많이 볼 수 있다.
④ 거래 상품의 종류에 따라 생산물 시장과 생산 요소 시장으로 구분된다.
⑤ 생산자가 하나만 존재하는 독점 시장, 소수인 과점 시장, 여러 개인 완전 경쟁 시장이 존재한다.

02 시장의 기능

시장은 물건을 사려는 사람과 팔려는 사람을 연결해 주어 교환에 드는 시간과 비용, 즉 거래 비용을 줄이는 기능을 한다. 또 시장에는 많은 사람과 상품이 모이기 때문에 상품에 관한 정보가 많다. 한편 시장은 분업을 촉진하여 생산성을 증대시켰다. 시장이 발달하면서 교환이 일상화되자 질 좋은 제품이 더 효율적으로 생산되었으며, 사회 전체의 생산량도 늘어나게 되었다. ② 시장에서는 교환이 이루어진다. 따라서 시장이 자급자족 경제를 유지해 준다고 보기 어렵다.

03 분업의 발달

시장 형성 이전에는 교환이 활발하지 않아 사람들이 자신에게 필요한 재화와 서비스를 스스로 생산하였지만, 시장이 형성된 이후에는 시장에서 교환이 활발하게 이루어져 분업이 발달하게 되었다.

04 고난도 시장의 등장이 가져온 변화

[선택지 분석]

✗ 상품을 교환하기 시작하였다.
➡ 시장이 형성되기 이전에도 사람들은 물물 교환을 하였다.

✗ 거래할 상대방을 일일이 직접 찾아다니게 되었다.
➡ 시장이 생겨나면서 거래할 상대방을 일일이 찾아다니지 않게 되었다.

ⓒ 남들보다 더 잘 하는 분야에 전문화하여 생산성을 증대시켰다.
➡ 시장이 있어서 사람들은 분업과 특화를 촉진하여 생산성을 증대시킬 수 있게 되었다.

ⓓ 하나의 상품을 여러 단계로 나누어 생산함으로써 사회 전체의 생산량이 늘어났다.
➡ 시장이 발달하여 특화와 분업이 이루어지자 질 좋은 제품이 더 효율적으로 생산되었으며, 사회 전체의 생산량도 늘어나게 되었다.

05 시장의 기능

시장은 거래 비용을 줄이고, 수요와 공급을 연결하며, 거래 참여자에게 상품에 대한 정보를 제공하며, 분업과 특화를 촉진해 생산성을 증대하는 역할을 한다.

06 서술형 시장의 의미

모범 답안 민수는 구체적인 장소를 가지는 보이는 시장을 시장이라고 생각하고 민수 아버지는 전자 상거래 시장처럼 보이지 않는 시장도 시장으로 보았다.

채점 기준	배점
제시어를 모두 사용하여 아버지와 민수가 각자 생각하는 시장에 관해 정확하게 서술함	100%
아버지와 민수가 각자 생각하는 시장에 관해 적절하게 서술하였으나, 제시어를 모두 사용하지 않음	70%
민수는 인터넷 쇼핑몰을 시장이라고 생각하지 않는다고 서술함	30%

07 고난도 시장의 종류

[자료 분석]

(가)는 거래되는 장소나 상품이 눈에 보이는 시장이면서, 생활에 필요한 물건들이 거래되는 생산물 시장이다. (나)는 거래의 모습이 눈에 보이지 않는 시장이면서, 생산에 필요한 자본이 거래되는 생산 요소 시장이다.

[선택지 분석]

✗ (가)에서는 생산 과정에 필요한 요소가 거래된다.
➡ 생산 과정에 필요한 요소가 거래되는 시장은 (나)이다.

ⓛ (가)는 거래 장소와 상품이 눈에 보이는 시장이다.
➡ (가)는 재래시장의 모습이며, 재래시장은 구체적 시장으로 구분한다.

ⓒ (나)에서는 거래의 모습이 확실히 드러나지 않는다.
➡ (나)는 주식 시장의 모습이며, 주식 시장은 추상적 시장으로 구분한다.

✗ (나)는 생활에 필요한 재화와 서비스가 거래되는 생산물 시장이다.
➡ 생활에 필요한 재화와 서비스가 거래되는 생산물 시장은 (가)이다.

08 생산물 시장과 생산 요소 시장

(가)는 생산물 시장, (나)는 생산 요소 시장이다. 생산 요소 시장에서 수요자는 기업이며 공급자는 가계이다.

09 보이는 시장과 보이지 않는 시장

시장의 종류는 거래 형태에 따라 보이는 시장과 보이지 않는 시장으로 나누어지는데, 보이지 않는 시장에서는 거래가 구체적으로 드러나지 않는다. 주식 시장, 외환 시장, 전자 상거래 시장 등이 이에 해당한다.

10 시장의 종류

시장의 종류는 거래 형태에 따라 구체적 시장과 추상적 시장으로 나누어진다. (가)는 거래 형태와 장소가 구체적으로 드러나는 구체적 시장, (나)는 드러나지 않는 추상적 시장이다. 시장은 거래되는 상품의 종류에 따라 생산물 시장과 생산 요소 시장으로 구분한다. (가)는 생산물 시장, (나)는 생산 요소 시장에 해당한다.

11 서술형 거래 형태에 따른 시장의 구분

모범 답안 인터넷 쇼핑몰은 인터넷을 통해 거래가 이루어져 거래하는 모습이 구체적으로 드러나지 않기 때문에 보이지 않는 시장에 해당한다.

채점 기준	배점
제시어를 모두 사용하여 인터넷 쇼핑몰의 시장 구분을 정확하게 서술함	100%
인터넷 쇼핑몰의 시장 구분을 적절하게 서술하였으나, 제시어를 모두 사용하지 않음	70%
인터넷 쇼핑몰은 전자 상거래 시장이라고 서술함	30%

02 수요 · 공급과 시장 가격의 결정

070~071쪽

간단 체크

❶ 반대 ❷ 같은 ❸ 시장 가격

개념 다지기 1단계

071쪽

01 수요 **02** 공급량 **03** 감소 **04** 양(+)의 관계 **05** 음(−)의 관계, 우하향 **06** 균형 가격 **07** 초과 수요 **08** 수요자 **09** 내릴

실력 올리기 2단계

072~073쪽

01 ③ **02** ③ **03** ② **04** ③ **05** ① **06** ④
07 해설 참조 **08** ③ **09** ② **10** ② **11** ②
12 해설 참조

01 가격과 수요량의 관계

수요량은 가격이 상승하면 감소하고 가격이 하락하면 증가한다. 이처럼 가격과 수요량은 반대 방향으로 움직여 수요 곡선은 우하향하는 모양이다.

오답 분석 ㄱ. 가격과 수요량은 음(−)의 관계이다.
ㄹ. 각 가격 수준에서 수요자가 사려는 구체적인 양을 수요량이라고 한다.

02 수요량의 변화

그래프에 따르면 가격이 200원일 때 수요량은 20개, 100원일 때 수요량은 40개이다. 따라서 가격이 200원에서 100원으로 하락하면 수요량은 20개 증가한다.

03 공급과 공급량

공급자는 상품의 가격이 상승하면 공급량을 늘리고, 가격이 하락하면 공급량을 줄이는 경향이 있다. 이처럼 상품의 가격과 공급량은 같은 방향으로 움직이는데, 이를 공급 법칙이라고 한다. 공급 법칙을 그래프로 나타내면 우상향하는 모양이 된다.

오답 분석 ① 가격과 공급량 사이에는 양(+)의 관계가 있다.
③ 일정 가격 수준에서 공급자가 판매하고자 하는 구체적인 양을 공급량이라고 한다.
④ 공급은 일정한 가격에 어떤 재화나 서비스를 판매하려는 욕구이다.
⑤ 가격이 상승하면 공급량은 증가하고, 가격이 하락하면 공급량은 감소한다.

04 공급량의 변동

제시된 그래프는 공급 곡선이다. 점 A에서 점 B로의 이동은 가격이 상승하여 공급량이 증가한 경우를 나타낸다.

05 공급 법칙과 공급 곡선

(가) 그래프는 가격이 올라갈수록 수량이 늘어나는 공급 법칙을 보여 주고 있다.

오답 분석 ② 가격과 공급량은 같은 방향으로 움직이므로 양(+)의 관계이다.
③ 상품을 팔고자 하는 욕구와 관련 있는 그래프이다.
④ 가격의 변화가 공급량에 미치는 영향을 보여 준다.
⑤ 가격이 올라갈수록 수량이 늘어나는 공급 법칙을 보여 주고 있다.

06 고난도 수요 법칙과 수요 곡선

[자료 분석]

(나) 그래프는 가격과 수요량의 관계를 나타내는 수요 곡선으로, 가격과 수요량은 음(−)의 관계에 있음을 보여 준다.

[선택지 분석]

① 가격과 수요량의 관계를 나타낸다.
➡ 그래프의 곡선이 우하향하는 형태를 띠고 있으므로 가격과 수요량의 관계를 나타내는 수요 곡선이다.

② 수요 법칙을 그래프로 나타낸 것이다.
➡ 수요 곡선은 수요 법칙을 그래프로 나타낸 것이다.

③ 가격이 내리면 수요량은 늘어나는 모양이다.
➡ 가격과 수요량은 음(−)의 관계에 있어, 가격이 내리면 수요량은 늘어난다.

④ 가격과 수요량은 양(+)의 관계에 있음을 보여 준다.
➡ 가격과 수요량은 음(−)의 관계이고, 가격과 공급량이 양(+)의 관계이다.

⑤ ㉠에서 ㉡으로의 이동은 가격이 내려 수요량이 늘어남을 의미한다.
➡ 가격이 내리면 수요량은 늘어난다. ㉠에서 ㉡으로의 이동은 가격이 내려 수요량이 늘어난 것을 보여 준다.

07 서술형 **공급 법칙**

모범 답안 공급 법칙을 보여 주며, 가격이 상승하면 공급량은 증가하고 가격이 하락하면 공급량은 감소한다.

채점 기준	배점
제시어를 모두 사용하여 공급 법칙의 내용을 정확하게 서술함	100%
공급 법칙의 내용을 적절하게 서술하였으나, 제시어를 모두 사용하지 않음	70%
공급 법칙이라고만 제하고 그 내용을 서술하지 못함	30%

08 **균형 가격**

수요량과 공급량이 일치할 때의 가격을 균형 가격이라고 한다. 균형 가격이 형성된 후 수요나 공급이 변하면 가격은 다시 변동한다.

09 **균형 가격과 균형 거래량**

수요 곡선과 공급 곡선이 만나는 지점에서 형성되는 가격이 균형 가격이고, 그 가격에서 거래되는 수량이 균형 거래량이다. 그래프에서 균형 가격은 2,000원, 균형 거래량은 30개이다.

10 **초과 수요와 초과 공급**

초과 수요는 수요량이 공급량보다 많은 상황이므로 수요자끼리 상품을 구매하기 위한 경쟁이 나타나 가격이 상승한다.

11 고난도 **시장 가격의 기능**

[자료 분석]

시장 가격은 경제 주체들의 경제적 의사 결정 방향을 알려주는 신호등 역할을 한다.

[선택지 분석]

① 소득 불균형 문제를 완화한다.

➡ 시장 가격이 소득 불균형 문제를 완화하지는 않는다.

✓ ② 경제 활동의 신호등 역할을 한다.

➡ 가격은 소비자와 생산자에게 경제 활동을 어떻게 조절해야 할지를 알려준다.

③ 희소한 자원을 효율적으로 배분한다.

➡ 시장 가격은 희소한 자원을 효율적으로 배분하는 기능을 하지만, 제시문의 내용과 관련이 없다.

④ 공익과 사익의 적절한 조화를 유도한다.

➡ 시장 가격은 시장의 상황을 적절하게 조절하는 기능을 한다.

⑤ 시장의 경제 질서를 공정하게 유지한다.

➡ 시장의 경제 질서를 공정하게 유지하는 것은 정부가 수행하는 역할이다.

12 서술형 **시장 가격의 형성**

모범 답안 균형 가격은 14,000원이며, 균형 가격에서는 수요량과 공급량이 일치하여 초과 수요량과 초과 공급량이 없다.

채점 기준	배점
균형 가격을 쓰고 제시어를 모두 사용하여 균형 가격이 왜 가장 효율적인지를 정확하게 서술함	100%
균형 가격을 쓰고 균형 가격이 왜 가장 효율적인지 적절하게 서술하였으나, 제시어를 모두 사용하지 않음	70%
균형 가격이 왜 가장 효율적인지 설명하지 못하고 균형 가격만 제시하였음	30%

03 시장 가격의 변동

074~076쪽

✓ 간단 체크

❶ 오른쪽 ❷ 왼쪽 ❸ 오른쪽 ❹ 왼쪽 ❺ 〈상황 2〉: 오른쪽으로 이동, 〈상황 3〉: 왼쪽으로 이동 ❻ 〈상황 1〉: 오른쪽으로 이동

개념 다지기 1단계 076쪽

01 수요 **02** 보완재 **03** 대체재 **04** 왼쪽 **05** 공급 **06** 공급 **07** 공급 곡선 **08** 증가 **09** 하락 **10** 증가 **11** 상승

집중 공략 077쪽

| 균형 가격과 균형 거래량의 변동 |

01 소비자의 소득 증가, 보완재의 가격 하락, 대체재의 가격 상승, 상품에 대한 선호도 증가, 미래에 가격 상승 예측 등

02 수요가 증가하면 수요 곡선은 오른쪽으로 이동하고, 수요가 감소하면 수요 곡선은 왼쪽으로 이동한다. **03** 수요가 감소하면 균형 가격이 하락하고, 균형 거래량이 감소한다. **04** 생산 요소의 가격 상승, 공급자 수 감소, 미래에 가격 상승 예측 등

05 공급이 증가하면 공급 곡선은 오른쪽으로 이동하고, 공급이 감소하면 공급 곡선은 왼쪽으로 이동한다. **06** 공급이 증가하면 균형 가격이 하락하고, 균형 거래량이 증가한다.

01 소비자의 소득 감소, 보완재 가격 상승, 대체재의 가격 하락, 상품에 대한 선호도 감소, 미래에 가격 하락 예측 등은 수요가 감소하는 요인이다.

03 수요가 감소하면 균형 가격이 하락하고 균형 거래량이 감소한다. 반면 수요가 증가하면 균형 가격이 상승하고 균형 거래량이 증가한다.

06 공급이 증가하면 균형 가격은 하락하고, 균형 거래량은 증가한다. 반면, 공급이 감소하면 균형 가격은 상승하고, 균형 거래량은 감소한다.

실력 올리기 2단계 078~079쪽

01 ③ **02** ③ **03** ② **04** ④ **05** ① **06** ⑤
07 해설 참조 **08** ③ **09** ③ **10** ② **11** 해설 참조

01 **수요와 공급의 변동**

요구르트에 대한 선호도가 증가하면 요구르트 수요가 늘어나고, 수요가 증가하면 수요 곡선이 오른쪽으로 이동하게 된다.

02 **수요의 변동 요인**

제시된 그래프의 변화는 수요가 증가하여 수요 곡선이 오른쪽으로 이동한 경우이다. 보완재의 가격이 하락하면 수요는 증가한다.

오답 분석 ①, ② 소비자의 기호가 감소하고, 대체재의 가격이 하락하면 수요가 감소한다.
④ 가격이 하락하면 수요량이 증가하고, 수요량의 증가는 수요 곡선 상에서 이동한다.
⑤ 생산 요소 비용이 하락하면 공급이 증가한다.

03 대체재와 수요의 변동

A 상품의 가격이 하락할 때, B 상품의 수요는 감소한다. 이와 같은 관계에 있는 상품은 대체재이다. 대체재는 쓰임이 비슷하여 서로 바꾸어 쓸 수 있는 재화이다.

오답 분석 ㄴ, ㄹ. 함께 소비할 때 더 큰 만족감을 얻을 수 있어 한 재화의 소비가 늘어나면 다른 쪽 소비 역시 늘어나는 것은 보완재 관계에 있는 두 재화이다.

04 고난도 공급량의 변화

[자료 분석]

공급 곡선상에서의 점의 변화는 공급이 아니라 공급량의 변화를 나타낸다. 제시된 그래프에서와 같이 가격과 수량이 같은 방향으로 늘어난 경우는 공급량이 늘어난 때이다.

[선택지 분석]

① 돼지고기의 가격이 상승하자 닭고기의 수요가 늘었다.
➡ 수요가 변한 경우이다.

② 사과 가격이 하락하자 사과를 구입하는 손님이 증가하였다.
➡ 수요량이 늘어난 경우이다.

③ 밀가루 가격이 상승하자 제과 업체에서 과자 생산량을 줄였다.
➡ 공급이 감소한 경우이다.

✓ ④ 배추 가격이 상승하자 농가에서 배추를 시장에 더 많이 내놓았다.
➡ 공급량이 늘어난 경우이다.

⑤ 휴대 전화 가격이 하락하자 휴대 전화 회사에서 생산량을 감소시켰다.
➡ 공급량이 감소한 경우이다.

05 대체재와 보완재

피자와 햄버거는 대체재 관계이므로 피자의 가격이 상승하면 햄버거의 수요는 증가하고, 피자의 가격이 하락하면 햄버거의 수요는 감소한다. 피자와 콜라는 보완재 관계이므로 피자의 가격이 상승하면 콜라의 수요는 감소하고, 피자의 가격이 하락하면 콜라의 수요는 증가한다.

06 공급 변동 요인

생산 요소의 가격 변화는 공급의 변화에 영향을 준다. 이 외에도 생산 기술의 혁신, 공급자 수, 미래 가격에 관한 예상도 공급에 영향을 준다.

오답 분석 ①, ②, ④는 수요의 변화에 영향을 주는 요인이다. ③은 수요량 또는 공급량의 변화에 영향을 준다.

07 서술형 수요 곡선과 공급 곡선의 이동

모범 답안 (가)는 수요가 감소하여 수요 곡선이 왼쪽으로 이동하고, (나)는 공급이 증가하여 공급 곡선이 오른쪽으로 이동한다.

채점 기준	배점
제시어를 모두 사용하여 (가), (나) 각 상황에서 수요 곡선과 공급 곡선의 이동을 정확하게 서술함	100%
제시어를 모두 사용하여 (가), (나) 상황 중 하나만 수요 곡선과 공급 곡선의 이동을 정확하게 서술함	70%
(가)에서는 수요 곡선이, (나)에서는 공급 곡선이 이동하였다고 서술함	30%

08 시장 가격의 변동

부품 가격 상승은 공급 감소 요인이고, 에어컨을 사려는 사람이 증가하는 것은 수요 증가 요인이다. 에어컨의 공급이 줄어들고, 수요가 증가하면 균형 가격은 상승하게 된다.

09 시장 가격의 변동

선호도가 감소하면 수요가 감소하고, 신기술이 개발되면 공급이 증가하여 가격이 하락한다.

오답 분석 ㄱ. 소득이 증가하면 수요가 증가하여 가격이 상승한다.
ㄹ. 원자재 가격 상승이 예상되는 경우에는 공급이 감소하여 가격이 상승한다.

10 고난도 수요, 공급의 변화

[자료 분석]

(가) 최신형 휴대 전화가 출시된다는 소식에 기존 휴대 전화를 교체하려는 사람이 많아지면 수요가 증가한다. (나) 휴대 전화의 부품 가격이 오르면 휴대 전화 생산비가 상승하여 공급이 감소한다.

[선택지 분석]

ㄱ.

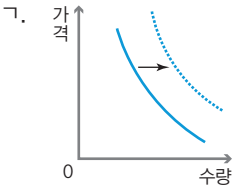

➡ 수요가 증가하는 경우이다.

ㄴ.

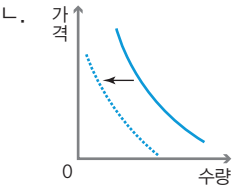

➡ 수요가 감소하는 경우이다.

ㄷ.

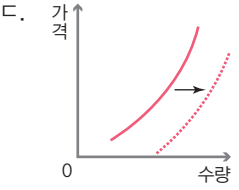

➡ 공급이 증가하는 경우이다.

ㄹ.

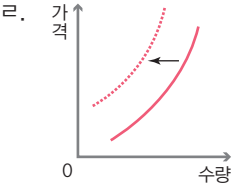

➡ 공급이 감소하는 경우이다.

11 서술형 균형 가격의 변화

모범 답안 김밥의 수요는 증가하지만 공급이 감소하여 균형 가격은 상승한다.

채점 기준	배점
제시어를 모두 사용하여 균형 가격의 변화를 정확하게 서술함	100%
균형 가격의 변화를 적절하게 서술하였으나, 제시어를 모두 사용하지 않음	70%
균형 가격이 변화한다고 서술함	30%

080~083쪽

대단원 완성하기 3단계

01 ③ 02 ③ 03 ③ 04 ⑤ 05 ④ 06 ③ 07 ②
08 ④ 09 ③ 10 ③ 11 ② 12 ⑤ 13 ② 14 ①
15 ② 16 ③ 17 ④ 18 ③

서술형

19 [모범 답안] 노동 시장이며, 거래 형태에 따라 보이지 않는 시장, 거래 상품의 종류에 따라 생산 요소 시장으로 구분한다.

20 [모범 답안] 2,000원은 균형 가격, 80개는 균형 거래량이다. 수요자와 공급자가 모두 원하는 양의 상품을 구매하거나 판매할 수 있어 상품이 남거나 모자라는 일이 없으므로 가장 효율적인 상태이다.

21 [모범 답안] 공급이 감소하여 공급 곡선이 왼쪽으로 이동하며, 균형 가격은 상승하고 균형 거래량은 감소한다.

01 시장의 의미와 종류
시장은 물건을 사고자 하는 사람과 팔고자 하는 사람이 자발적으로 만나 거래가 이루어지는 장소이다. ③ 노동 시장, 주식 시장, 금융 시장처럼 눈에 보이는 구체적인 장소가 없는 시장도 존재한다.

02 시장의 등장이 가져온 변화
시장이 있어서 사람들은 분업과 특화를 촉진하여 생산성을 증대시킬 수 있게 되었고, 그에 따라 교환의 매개 수단인 화폐가 출현하였다.
오답 분석 ㄱ, ㄹ. 사람들은 자급자족의 불편함을 개선하고자 교환을 하게 되고, 그에 관하여 약속을 하면서 시장이 생겨났다. 시장이 생겨나면서는 거래할 상대방을 일일이 찾아다닐 필요가 없어졌다.

03 구체적 시장과 추상적 시장
㉠은 구체적 시장, ㉡은 추상적 시장을 말하며 전통 시장, 대형 마트, 농수산물 시장, 곡물 시장, 의류 시장은 구체적 시장이고, 외환 시장, 증권 시장, 금융 시장은 추상적 시장에 해당한다.

04 전자 상거래 시장
인터넷 쇼핑몰은 전자 상거래 시장으로 정보 통신 기술의 발달로 새롭게 등장한 시장이다. 홈쇼핑, 인터넷 쇼핑, 모바일 쇼핑 앱을 이용한 쇼핑 등이 이에 해당한다.

05 시장의 종류
(가)는 거래되는 장소나 상품이 눈에 보이는 시장이면서, 생활에 필요한 물건들이 거래되는 생산물 시장이다. (나)는 거래의 모습이 눈에 보이지 않는 시장이면서 생산에 필요한 자본이 거래되는 생산 요소 시장이다.
오답 분석 ㄱ. 거래의 모습이 확실히 드러나지 않는 것은 (나) 시장이다.
ㄷ. 거래 장소와 상품이 눈에 보이는 시장은 (가) 시장이다.

06 수요와 공급
특정 가격 수준에서 수요량이 공급량보다 많은 상태를 초과 수요라고 하고, 특정 가격 수준에서 공급량이 수요량보다 많은 상태를 초과 공급이라고 한다. ③ 상품의 가격이 내려가면 수요량은 늘어나고, 공급량은 줄어든다.

07 공급 법칙과 공급 곡선
제시문은 공급 법칙을 서술한 것이다. 공급 법칙에 따라 공급 곡선은 우상향하는 형태로 나타난다.

08 수요 · 공급 법칙
ㄴ. 가격이 상승하면 수요량은 감소하고, 가격이 하락하면 수요량은 증가한다. ㄹ. 균형 가격보다 가격이 낮으면 초과 수요가 나타나 수요자 간에 경쟁이 발생하여 가격이 오른다.
오답 분석 ㄱ. 가격과 수요량은 음(−)의 관계이다.
ㄷ. 균형 가격보다 가격이 낮으면 초과 수요가 발생한다.

09 균형 가격과 균형 거래량
수요량과 공급량이 일치하는 지점에서 균형 가격과 균형 거래량이 형성된다.
오답 분석 ① 가격이 1,000원일 때 초과 수요가 나타난다.
② 가격이 1,400원일 때 초과 공급이 나타난다.
④ 가격이 1,600원일 때는 초과 공급이 발생하여 공급자 간 경쟁이 나타난다.
⑤ 아이스크림의 수요량은 가격이 오르면 감소하는 수요 법칙을 따르고 있다.

10 수요와 공급
가격의 변화에 따라 수요량과 공급량이 변동하며, 수요 곡선과 공급 곡선이 만나는 지점에서 균형 가격이 결정된다.
오답 분석 ㄱ. 상품에 대한 판매 욕구는 공급이다.
ㄹ. 수요 곡선은 우하향하는 형태이고, 공급 곡선은 우상향하는 형태이다.

11 수요 · 공급과 가격
제시된 그래프에서 튀김의 가격이 6,000원일 때 시장 수요량은 50개, 시장 공급량은 150개이므로 100개의 초과 공급이 발생하였다.
오답 분석 ① 튀김의 가격은 하락할 것이다.
③ 공급량이 수요량보다 더 많은 불균형 상태이다.
④ 튀김을 먼저 판매하기 위한 경쟁이 치열해진다.
⑤ 균형 가격일 때 공급량은 100개인데 6,000원일 때는 150개이므로 50개 더 많다.

12 초과 수요와 초과 공급
수요보다 공급이 많은 ㉠에서는 공급자 간의 경쟁, 공급보다 수요가 많은 ㉡에서는 수요자 간의 경쟁이 나타난다.

13 시장 가격의 결정
ㄱ. 시장 가격은 수요 곡선과 공급 곡선이 만나는 600원에서 결정된다. ㄷ. 초과 수요 상태에서는 수요자 간 경쟁이 나타나 가격이 오르게 된다.
오답 분석 ㄴ. 균형 거래량은 수요량과 공급량이 일치하는 200개이다.
ㄹ. 600원일 때 공급량은 200개이고, 1,200원으로 가격이 오르면 공급량은 300개가 되므로 100개 더 늘어난다.

14 수요 변동
(가)는 수요 감소, (나)는 수요 증가를 보여 준다. ㄱ. 대체재

의 가격이 하락하면 소비자들이 대체재를 더 많이 사게 되므로 상품의 수요는 감소한다. ㄴ. 미래에 상품 가격이 상승할 것이라고 예상되면 지금 더 구매하게 되므로 상품의 수요는 증가한다.

오답 분석 ㄷ. 생산 요소의 가격이 오르면 공급이 감소한다. ㄹ. 상품의 가격 변동에 따른 변화는 곡선상에서 점의 이동으로 나타난다.

15 수요의 변동

그래프는 수요가 감소하는 경우를 나타낸다. ② 보완재 가격이 상승하면 시장 수요가 감소하여 수요 곡선이 왼쪽으로 이동한다.

오답 분석 ① 인건비 상승은 공급 감소 요인이다.
③ 생산 기술 향상은 공급 증가 요인이다.
④ 소비자 소득 증가는 수요 증가 요인이다.
⑤ 공급자 수 증가는 공급 증가 요인이다.

16 공급 증가 요인

ㄴ은 생산 요소의 가격이 하락한 경우이고, ㄷ은 생산 기술이 향상한 경우이므로 피자 공급 증가 요인이다.

오답 분석 ㄱ. 피자 가격이 반값으로 할인되면 수요가 증가한다.
ㄹ. 피자를 먹는 중장년층 고객이 늘어나면 수요가 증가한다.

17 시장 가격의 변화

텐트에 대한 수요는 감소하고, 공급은 증가하여 당분간 가격은 하락할 것으로 예상된다.

오답 분석 ① 텐트에 대한 수요는 감소할 것이다.
② 생산 비용 감소로 텐트에 대한 공급은 증가할 것이다.
③ 소비자들의 기호가 감소하였다.
⑤ 수요 곡선은 왼쪽, 공급 곡선은 오른쪽으로 이동한다.

18 수요와 공급의 변동

수요 증가, 공급 감소 요인을 찾아야 한다. 김밥의 가격이 상승하면 학생들은 떡볶이를 더 찾게 되고, 밀가루 가격이 상승하면 떡볶이의 공급은 감소하게 된다.

오답 분석 ① 학생들 용돈 감소는 수요 감소 요인, 떡볶이 공급자 수 증가는 공급 증가 요인이다.
② 어묵의 가격 하락은 떡볶이 수요 증가 요인, 김밥 가격의 하락은 떡볶이 수요 감소 요인이다.
④ 떡볶이 선호도 상승, 어묵 가격 하락은 모두 떡볶이 수요 증가 요인이다.
⑤ 어묵 가격 상승은 떡볶이 수요 감소 요인, 밀가루 가격 하락은 떡볶이 공급 증가 요인이다.

19 서술형 시장의 종류

김◎◎씨가 거래하는 시장은 노동 시장으로, 거래하는 모습이 눈에 보이지 않는 추상적 시장이며, 노동이 거래되는 생산 요소 시장이다.

채점 기준	배점
거래 형태와 거래 상품의 종류에 따른 시장의 종류를 정확하게 서술함	100%
거래 형태와 거래 상품의 종류 중 하나의 구분에 따른 시장의 종류만 제시함	70%
노동 시장이라는 내용만 제시함	30%

20 서술형 균형 가격과 균형 거래량

제시된 표를 보면 가격이 2,000원일 때 수요량과 공급량이 각각 80개로 일치한다. 따라서 시장 가격이 2,000원이 되면 시장에 더는 모자라거나 남는 것이 없으므로 가격이 움직이지 않고 시장은 안정을 이루게 된다. 이처럼 수요량과 공급량이 일치하는 가격을 균형 가격, 이때의 거래량을 균형 거래량이라고 한다.

채점 기준	배점
균형 가격과 균형 거래량을 쓰고, 효율적인 까닭을 정확하게 서술함	100%
균형 가격과 균형 거래량을 쓰고 효율적인 까닭을 서술하였으나 그 내용이 미흡함	70%
균형 가격과 균형 거래량만 제시함	30%

21 서술형 균형 가격과 균형 거래량의 변동

밑줄 친 상황은 휴대 전화의 부품 가격이 상승하는 것인데, 이는 휴대 전화 공급의 변동에 영향을 주는 요인다. 부품 가격이 상승하면 휴대 전화의 공급이 감소하고, 공급이 감소하면 공급 곡선은 왼쪽으로 이동하며, 가격이 오르고 거래량은 줄어든다.

채점 기준	배점
공급 감소, 곡선의 이동 방향, 균형 가격, 균형 거래량의 변동을 모두 정확하게 서술함	100%
공급 감소와 곡선의 이동 방향을 제시하지 않았으나, 균형 가격과 균형 거래량의 변동을 적절하게 서술함	70%
공급 감소와 곡선의 이동 방향만 적절하게 제시하고, 균형 가격과 균형 거래량의 변동을 서술하지 않음	30%

V 국민 경제와 국제 거래

01 국내 총생산과 경제 성장

086~087쪽

✓ 간단 체크

❶ ❶, ❹ ❷ 시장에서 거래되지 않은 것을 포함하지 않는다.
❸ 성장 ❹ 삶의 질

개념 다지기 1단계 087쪽

01 국내 총생산 **02** 1인당 국내 총생산 **03** 최종 생산물
04 없다 **05** 증가 **06** 경제 성장률 **07** 국민 소득
08 빈부 격차 **09** 1960년대

집중 공략 A 088쪽

| 국내 총생산의 의미와 계산 |

01 일정 기간 한 나라 안에서 새롭게 생산된 최종 생산물의 가치를 시장 가격으로 환산한 것 **02** ③ **03** 24 **04** 10, 9, 5, 24, 24 **05** 53, 29, 53, 29, 24, 24

02 ①, ②, ⑤는 시장에서 거래되지 않았고, ④는 중간 생산물이라서 국내 총생산의 계산에 포함되지 않는다.

03 ☆☆국에서 생산된 것은 밀, 밀가루, 빵 세 가지인데, 이 중 최종 생산물은 빵이고 밀과 밀가루는 중간 생산물이다. 따라서 빵값인 24만 원이 국내 총생산이 된다.

집중 공략 B 089쪽

| 국내 총생산과 1인당 국내 총생산 |

01 미국, 중국, 일본 **02** 스위스, 오스트레일리아, 미국 **03** 미국, 스위스 **04** 인구수 **05** (1) 국내 총생산, 1인당 국내 총생산, 스위스 (2) 작고, 높다 **06** (1) ○ (2) ×

03 국내 총생산은 그 나라의 경제 규모를 나타내고, 1인당 국내 총생산은 한 나라 국민의 평균적인 소득 수준을 보여 준다.

실력 올리기 2단계 090~091쪽

01 ④ **02** ② **03** ④ **04** ⑤ **05** ⑤ **06** ⑤ **07** ①
08 ① **09** 해설 참조 **10** ④ **11** ③ **12** ④
13 해설 참조

01 국내 총생산의 의미
밑줄 친 '이것'은 국내 총생산이다.

오답 분석 ① 국민 경제란 경제 활동 전체를 국가 단위로 하여 종합적으로 파악한 것으로 가계, 기업, 정부 등 한 나라의 모든 경제 주체가 수행하는 경제 활동을 의미한다.
③ 경제 성장률은 이전 연도나 이전의 같은 시기와 비교하여 경제 규모가 얼마나 변했는지를 보여 주는 지표이다.
⑤ 1인당 국내 총생산은 국내 총생산을 그 나라의 인구수로 나눈 것이다.

02 부가 가치의 계산
제시된 사례에서 1만 원어치의 밀로 3만 원어치의 밀가루를 생산하면 2만 원의 부가 가치가 생기고, 3만 원어치의 밀가루로 7만 원어치의 빵을 생산하면 4만 원의 부가 가치가 생긴다.

03 부가 가치의 합
국내 총생산(GDP)을 계산하기 위해서는 각 생산 단계에서의 부가 가치를 알아야 하는데, 이때 부가 가치란 한 단계에서 새로운 단계로 넘어갈 때 덧붙여진 가치를 의미한다.

04 고난도 국내 총생산에 포함되는 것

[선택지 분석]
① 중고 스마트폰
➡ 국내 총생산은 새롭게 생산된 것만 포함하며, 그 전에 생산된 중고품은 제외한다.
② 해외 공장에서 생산한 청바지
➡ 국내 총생산은 생산자의 국적에 관계없이 그 나라 국경 안에서 생산된 것만 포함하므로, 해외 공장에서 생산한 청바지는 국내 총생산에는 포함하지 않는다.
③ 빵을 만드는 데 사용한 밀가루
➡ 국내 총생산은 최종 생산물만 합산하며 생산 과정에서 사용된 중간재는 제외하므로, 빵을 만드는 데 사용한 밀가루는 국내 총생산에 포함하지 않는다.
④ 가정주부가 가족을 위해 차린 저녁 식사
➡ 국내 총생산은 시장에서 거래되지 않은 것을 포함하지 않는다. 따라서 가정주부가 가족을 위해 차린 저녁 식사나 봉사 활동 등은 국내 총생산에 포함하지 않는다.
✓ ⑤ 미국 팝가수가 우리나라 공연에서 얻은 수입
➡ 국내 총생산은 생산자의 국적에 관계없이 그 나라 국경 안에서 생산된 것만 포함한다. 따라서 국내 총생산에 포함된다.

05 국내 총생산에 포함되는 것
국내 총생산은 시장에서 거래된 것만을 계산하여 (가) 봉사 활동처럼 시장에서 거래되지 않은 것을 포함하지 않는다. 또한, 그해에 새롭게 생산된 것만 포함하며 (나) 중고 자전거처럼 그 전에 생산된 상품은 계산하지 않는다.

06 1인당 국내 총생산의 의미
1인당 국내 총생산은 국민들의 삶의 질 및 생활 수준과 관련 있는 경제 지표로, 국내 총생산을 인구수로 나눈 값이다.

07 각 나라의 국내 총생산 분석
제시된 자료는 각국의 경제 규모를 나타내는 국내 총생산(GDP)을 보여 준다. 중국의 국내 총생산이 우리나라보다 크므로 중국의 경제 규모는 우리나라보다 큼을 알 수 있다.

오답 분석 ② 독일의 국내 총생산이 일본의 국내 총생산보다 낮지만 삶의 수준도 더 낮다고 단정할 수 없다.
③ 국내 총생산은 국민의 평균 소득을 알려 주지 않는다.
④ 국내 총생산을 통해 빈부 격차를 알 수 없다.
⑤ 삶의 질 수준은 국내 총생산에 비례하지 않는다.

08 국내 총생산의 한계

국내 총생산은 가사 노동, 봉사 활동 등과 같이 시장에서 거래되지 않은 것을 포함하지 않는다. 또한, 자원 고갈이나 환경 오염 등으로 인한 피해를 반영하지 않아 국민의 삶의 질 수준을 완벽히 파악하기 어려우며, 소득 분배 수준이나 빈부 격차의 정도를 알기 어렵다는 한계를 지닌다.

오답 분석 ㄷ. 불법 거래를 통해 벌어들인 소득은 국내 총생산에 포함되지 않는다. 이로 인해 국내 총생산이 한 나라의 경제 규모를 정확히 보여 주지 못하는 한계를 가진다.
ㄹ. 환경 오염에 대한 처리 비용은 국내 총생산에 포함된다. 이로 인해 국내 총생산이 삶의 질을 제대로 반영하지 못한다는 한계를 가진다.

09 서술형 국내 총생산의 한계

모범 답안 국내 총생산은 총량을 나타내는 개념이기 때문에 두 나라의 국내 총생산이 같아도 소득 분배, 생활 수준에는 차이가 날 수 있다.

채점 기준	배점
제시어를 모두 사용하여 국내 총생산의 한계를 정확하게 서술함	100%
국내 총생산의 한계를 적절하게 서술하였으나, 제시어를 모두 사용하지 않음	70%
국내 총생산은 그 나라의 삶의 질 수준을 나타내지 못하다고 서술함	30%

10 경제 성장의 영향

경제가 성장하면 평균 소득이 증가하므로 물질적으로 풍요로운 생활을 누릴 수 있으며, 질 높은 교육과 더 나은 의료 서비스를 받을 수 있다. 또한, 다양한 문화 시설이 보급되고 여가 활동을 다양하게 누릴 수 있다. 그러나 자원 고갈 및 환경 오염 심화, 빈부 격차 확대 등은 경제 성장의 부정적 영향이다.

11 경제 성장의 부정적 영향

대화에서 을은 경제가 성장하더라도 반드시 국민의 삶의 질이 향상되는 것은 아니라고 하고 있다. 따라서 빈칸에는 경제 성장의 부정적 영향이 들어갈 수 있다. ③ 경제가 성장하면 생산 능력이 향상되는데 이는 국민의 삶의 질 향상을 위한 토대가 된다. 따라서 빈칸에 들어갈 내용으로 적절하지 않다.

12 고난도 경제 성장률 분석

[자료 분석]
제시된 자료는 경제 성장률의 추이를 보여 준다. 경제 성장률이 (+)를 나타내면 경제 규모가 커짐을, (−)를 나타내면 경제 규모가 작아짐을 의미한다.

[선택지 분석]
① B 시기의 경제 규모는 A 시기보다 작다.
➡ B 시기는 여전히 (+)의 경제 성장률을 보여 주고 있기 때문에 A 시기에 비해 경제 규모가 더 커졌다.
② B 시기의 소득 분배 불평등 정도는 A 시기보다 심해졌다.
➡ 제시된 자료로 소득 분배 불평등 정도를 파악할 수 없다.
③ E 시기의 경제 규모는 D 시기보다 작다.
➡ E 시기는 (+)의 경제 성장률을 보여 주고 있기 때문에 D 시기에 비해 경제 규모가 더 크다.
✓ A~E 시기 중 C 시기에 경제 규모가 가장 작다.
➡ C 시기는 다른 해와 달리 유일하게 경제 성장률이 (−)를 나타냈던 시기이므로 A~E 시기 중 경제 규모가 가장 작다고 볼 수 있다.
⑤ C~D 시기에 경제 규모가 커졌다가 D~E 시기에 경제 규모가 다시 작아진다.
➡ C 시기를 기준으로 경제 성장률은 계속 (+)를 보이기 때문에 경제 규모가 계속 커졌다고 할 수 있다.

13 서술형 우리나라 경제 성장의 특징

모범 답안 우리나라는 1960년대 경제 개발 계획을 바탕으로 비약적인 경제 성장을 이루었고, 이에 따라 국민의 생활 수준도 향상되었다.

채점 기준	배점
제시어를 모두 사용하여 우리나라 경제 성장의 특징을 정확하게 서술함	100%
우리나라 경제 성장의 특징을 적절하게 서술하였으나, 제시어를 모두 사용하지 않음	70%
단기간에 경제 성장을 이루었다고 서술함	30%

02 물가 상승과 실업

092~093쪽

✓ 간단 체크
❶ 채무자, 기업가, 수입업자 ❷ 취업자, 실업자

개념 다지기 1단계 — 093쪽

01 인플레이션 02 채무자 03 정부 04 제외 05 구조적 06 기업

실력 올리기 2단계 — 094~095쪽

01 ② 02 ④ 03 ② 04 ② 05 ④ 06 해설 참조
07 ② 08 ③ 09 ① 10 ② 11 ② 12 해설 참조
13 해설 참조

01 물가의 의미

물가란 시장에서 거래되는 여러 상품의 가격을 종합한 평균적인 가격 수준을 말한다. 경제 활동의 흐름을 알기 위해서는 여러 상품의 전반적인 가격 수준인 물가의 움직임을 알아보아야 한다.

02 물가의 의미

물가는 여러 상품의 평균적인 가격 수준으로, 물가 지수를 통해 전반적인 물가의 움직임을 알 수 있다. 일반적으로 물가 상승은 경기가 활성화될 때 나타나는 경우가 많다.

03 물가 상승의 원인

물가 상승의 원인으로는 통화량 증가, 생산 비용 상승, 총수요가 총공급을 초과할 때 등이 있다. (가)는 성수기 휴가철에 휴가지에서 공급하는 여러 상품에 대한 수요가 급증하기 때문에 나타나는 물가 상승이다. (나)는 원자재 가격의 상승과 근로자 임금의 상승으로 생산 비용이 상승하여 나타난 물가 상승이다.

04 고난도 인플레이션의 영향

[선택지 분석]

ㄱ. 지난해에 건물을 사 두었던 갑
➡ 인플레이션이 발생하면 화폐 가치가 떨어져 건물을 사 두었던 갑과 같이 실물을 보유한 사람이 유리해진다.

ㄴ. 매월 고정된 연금을 받아 생활하는 을
➡ 일정한 봉급을 받거나 을과 같이 연금으로 생활하는 사람은 불리해진다.

ㄷ. 외국에서 운동화를 수입해서 국내에서 판매하는 병
➡ 국내 물가가 상승하면 우리나라 상품의 가격이 비싸지므로, 외국 상품의 가격이 상대적으로 저렴해져 병과 같은 수입업자는 유리해진다.

ㄹ. 3년 전 친구에게 2백만 원을 빌려주었다가 돌려받은 정
➡ 정과 같이 다른 사람에게 돈을 빌려주었거나 저축해 둔 사람은 불리해진다.

05 고난도 인플레이션의 영향

[선택지 분석]

① 화폐 가치가 하락하여 저축이 감소한다.
➡ 인플레이션이 발생하면 화폐 가치가 하락하므로 사람들은 화폐보다 실물 자산을 보유하려고 한다.

② 기업의 투자가 위축되고 생산이 감소한다.
➡ 기업은 생산 요소의 가격이 올라 생산 비용이 상승하므로 어려움을 겪는다.

③ 실물 자산 가치 상승으로 투기 등의 불건전한 거래가 늘어난다.
➡ 화폐 가치가 하락하고 부동산과 같은 실물 자산의 가치가 높아져 부동산 투기 등의 불건전한 거래가 늘어난다.

④ 기업의 생산이 확대되어 경제 성장에 긍정적인 영향을 가져온다.
➡ 인플레이션이 계속되면 기업의 장기적인 생산 및 투자 계획에 어려움을 가져오므로 경제 성장에 부정적인 영향을 초래한다.

⑤ 화폐의 구매력 감소로 근로자들의 실질 소득이 감소하여 근로 의욕이 상실된다.
➡ 같은 돈으로 살 수 있는 물건이 인플레이션 이전보다 줄어들게 되므로 근로자들의 소득이 감소하는 효과가 나타난다.

06 서술형 인플레이션과 국제 수지

모범 답안 인플레이션이 발생하면 수출품의 가격 경쟁력이 낮아져 수출이 감소하고 수입은 증가하기 때문이다.

채점 기준	배점
제시어를 모두 사용하여 인플레이션으로 인해 국제 수지가 악화하는 까닭을 정확하게 서술함	100%
인플레이션으로 인해 국제 수지가 악화하는 까닭을 적절하게 서술하였으나, 제시어를 모두 사용하지 않음	70%
인플레이션의 영향을 받아 국제 수지가 악화한다고만 서술함	30%

07 실업의 의미

제시문은 실업에 관한 설명이다. 실업은 개인적으로나 사회적으로 부정적인 영향을 미친다.

08 실업자의 의미

일을 할 수 있는 능력이 있고 일을 하고자 하는 마음도 있지만, 일자리가 없어서 일을 못 하는 상태를 실업이라고 한다. 따라서 일할 능력이 없는 어린이나 노약자, 일할 의사가 없는 학생이나 전업주부, 취업하려고 했으나 뜻대로 되지 않아 일자리 구하기를 포기한 사람 등은 실업자에 포함되지 않는다.

09 고난도 경기적 실업과 마찰적 실업

[자료 분석]

갑은 경기가 좋지 않아 취업을 못하고 있으므로 경기적 실업의 사례에 해당하고, 을은 자발적으로 직장을 옮기는 과정에서 실업 상태에 있으므로 마찰적 실업의 사례이다.

[선택지 분석]

	갑	을
①	경기 침체	직장의 이동

➡ 경제 상황이 나빠지면 기업은 신규 채용을 줄이거나 고용 인원을 줄이는데, 갑의 실업은 이에 해당한다. 을의 실업은 더 나은 조건의 일자리를 구하기 위해 기존에 다니던 직장을 그만두고 일시적으로 실업 상태가 된 것이다.

② 경기 침체 산업 구조 변화
➡ 실업의 원인 중 새로운 기술의 도입으로 산업 구조가 변화하면 기존의 기술이나 생산 방법은 밀려나게 되는데, 이에 따른 실업을 구조적 실업이라고 한다.

③ 계절적 요인 경기 침체
➡ 실업의 원인 중 농업, 건설업, 관광업 등 계절의 영향을 많이 받는 분야에서 계절에 따라 고용 기회가 줄어들어 실업이 발생하는 것을 계절적 실업이라고 한다

④ 산업 구조 변화 경기 침체

⑤ 산업 구조 변화 직장의 이동

10 실업의 유형

구조적 실업이란 산업 구조의 변화로 기존 기술이 쓸모 없게 되면서 발생하는 실업을 말한다.

오답 분석 ① 경기적 실업은 경제 상황이 나빠져서 기업이 신규 채용을 줄이거나 고용 인원을 줄임으로써 나타난다.
③ 계절적 실업은 농업, 관광업 등 계절의 영향을 많이 받는 분야에서 계절에 따라 고용 기회가 줄어들어 발생한다.
④ 마찰적 실업은 더 나은 조건의 일자리를 구하기 위해 일시적으로 실업 상태가 된 것이다.

11 **실업의 영향**
실업은 개인적인 차원에서 가계 소득 감소로 경제적 어려움을 초래하며, 사회적인 차원에서 기업의 생산과 투자 위축을 불러온다.
오답 분석 ㄴ. 실업은 사회 불평등을 악화시킬 수 있다.
ㄹ. 실업으로 경제 규모가 축소되고 사회가 활력을 잃을 우려가 있다.

12 서술형 **경기적 실업의 발생**
모범 답안 경기가 침체되면 소비 및 생산이 감소되어 고용이 감소하고 이에 따라 실업이 발생한다.

채점 기준	배점
제시어를 모두 사용하여 경기적 실업이 발생하는 까닭을 정확하게 서술함	100%
경기적 실업이 발생하는 까닭을 적절하게 서술하였으나, 제시어를 모두 사용하지 않음	70%
경기가 나빠서 실업이 발생한다고 서술함	30%

13 서술형 **실업의 유형과 대책**
모범 답안 제시된 사례에 나타난 실업은 마찰적 실업이다. 마찰적 실업에는 취업 정보 제공, 취업 박람회 개최 등이 해결책이 될 수 있다.

채점 기준	배점
마찰적 실업을 제시하고, 제시어를 모두 사용하여 마찰적 실업의 대책을 정확하게 서술함	100%
마찰적 실업을 제시하고 마찰적 실업의 대책을 적절하게 제시하였으나, 제시어를 모두 사용하지 않음	70%
마찰적 실업이라고만 제시함	30%



03 국제 거래와 환율

096~097쪽

✔ **간단 체크**
❶ 국제 거래 ❷ 비교 우위 ❸ 반대 ❹ ㄴ

개념 다지기 1단계 097쪽

01 생산비 **02** 세계 무역 기구(WTO) **03** 소득 **04** 환율 **05** 수요 **06** 증가

집중 공략 A 098쪽

| 국제 거래의 필요성 |
01 옷감 **02** 포도주 **03** 나라별로 자연환경, 부존 자원, 기술과 지식 수준에 차이가 있기 때문이다. **04** 옷감, 포도주, 10 **05** 포도주, 옷감, 10 **06** 양국 모두에 무역의 이익이 발생하기 때문이다.

04 A국은 옷감 1단위와 포도주 1단위를 생산하는 데 30명이 필요하다. 그러나 옷감 2단위를 생산하여 1단위를 B국의 포도주와 교환하면 20명의 노동력으로 옷감과 포도주 1단위씩을 얻을 수 있으므로 10명의 노동력이 절감된다.

05 B국은 옷감 1단위와 포도주 1단위를 생산하는 데 30명이 필요하다. 그러나 포도주 2단위를 생산하여 1단위를 A국의 옷감과 교환하면 20명의 노동력으로 옷감과 포도주 1단위씩을 얻을 수 있어 10명의 노동력이 절감된다.

집중 공략 B 099쪽

| 환율의 변동 |
01 수요 **02** 공급 **03** 우리나라 화폐와 외국 화폐의 교환 비율 **04** 상승한다 **05** 하락한다 **06** 하락한다

04 외화의 수요가 증가하면 환율이 상승하고, 외화의 공급이 증가하면 환율이 하락한다.

06 1달러가 1,000원에서 1,200원이 된 경우는 외국 화폐의 가치가 올라가고, 국내 화폐의 가치는 떨어진 것이다.

실력 올리기 2단계 100~101쪽

01 ⑤ **02** ① **03** ③ **04** ② **05** ④ **06** ②
07 해설 참조 **08** ④ **09** ⑤ **10** ④ **11** ② **12** ①
13 해설 참조 **14** 해설 참조

01 **국제 거래의 의미**
국제 거래란 국가 간에 생산물이나 생산 요소 등이 국경을 넘어 거래되는 것을 의미한다.

02 **국제 거래의 발생 원인**
나라마다 기후, 지형 등과 같은 자연환경이 서로 다르며, 보유한 천연자원이나 노동, 자본, 기술 수준 등에도 차이가 있다. 이러한 생산 여건의 차이로 비슷한 상품을 생산하더라도 나라마다 생산비의 차이가 생기게 되며, 이로 인해 국제 거래가 발생한다. ① 국가 간에 화폐가 다른 것은 국제 거래 발생 원인과 관련이 없다.

03 **특화와 비교 우위**
각 나라는 생산에 유리한 품목, 즉 비교 우위에 있는 상품에 특화하여 수출한다. 특화란 가장 효율적으로 생산할 수 있는 산업을 전문적으로 육성하는 것이다.

04 **국제 거래의 특징**
국제 거래는 국내 거래와 달리 나라마다 서로 다른 화폐를 사용하므로 국제 거래 시 화폐의 교환이 필요하며, 재화와 서비스의 수출과 수입 과정에서 관세나 무역 장벽 등 제한이 존재한다. 또한, 나라마다 법과 제도가 다르므로 재화나 서비스의 이동이 자유롭지 않고 제한될 수 있다. ② 국내 거래와 국제 거래 모두 다양한 상품과 서비스가 거래되고 있다.

05 **국제 거래의 확대**
오늘날 교통 및 통신 수단의 발달에 따른 세계화와 개방화 추세에 따라 국제 거래가 늘고 있으며, 세계 무역 기구(WTO)의 출범으로 국제 거래의 대상이 확대되었다.
오답 분석 ㄷ. 나라마다 다른 자연환경은 무역이 발생하는 원인에 해당한다.

06 국제 거래에 따른 대응

중요한 원자재를 무조건 외국으로부터 수입하기보다는 기술력을 동원하여 신소재 개발에 힘써야 한다.

07 서술형 국제 거래의 영향

모범 답안 국제 거래를 통해 생산 규모가 확대되고, 부존 자원과 기술력 부족 문제를 해결할 수 있다.

채점 기준	배점
제시어를 모두 사용하여 국제 거래의 긍정적 영향을 정확하게 서술함	100%
국제 거래의 긍정적 영향을 적절하게 서술하였으나, 제시어를 모두 사용하지 않음	70%
각 국가가 이익을 얻을 수 있다고 서술함	30%

08 환율의 의미

환율이란 우리 화폐와 외국 화폐의 교환 비율 또는 우리 화폐로 표시한 외국 돈의 가치이다. 세계 각국은 각기 다른 화폐를 사용하므로 국제 거래에서는 화폐를 교환하는 과정이 필요하다.

09 환율 상승의 의미와 영향

환율 상승은 외화의 가격이 높아진다는 것을 뜻한다. ⑤ 1달러에 1,200원이었던 환율이 1달러에 1,000원이 되는 것은 환율이 하락한 것이다.

10 외화 수요 증가 요인

수입 증가와 내국인의 외국 여행 증가는 외화에 대한 수요를 증가시키는 요인으로 작용한다.

오답 분석 ㄱ, ㄷ. 차관 도입과 수출 증가는 외화 공급 증가 요인이다.

11 고난도 환율 상승의 영향

[자료 분석]

환율이 1달러에 1,100원에서 1,300원으로 오른 것은 환율이 상승한 것이다.

[선택지 분석]

① 원화 가치가 상승한다.
➡ 외국 화폐 1단위를 얻기 위해 더 많은 원화가 필요하다는 것이므로, 이는 원화 가치의 하락을 뜻한다.

✓ 물가 상승의 원인이 될 수 있다.
➡ 환율이 상승하면 수입 원자재의 가격이 올라 국내 물가가 상승할 수 있다.

③ 해외여행을 가는 것이 쉬워진다.
➡ 해외여행 경비가 늘어나 여행을 가는 것이 어려워진다.

④ 기업의 외채 상환 부담이 낮아진다.
➡ 외화로 빚을 진 경우에는 갚아야 할 빚이 늘어나 외채 상환 부담이 커진다.

⑤ 수출이 감소하고, 수입이 증가한다.
➡ 환율이 상승하면 외화로 표시되는 우리나라 상품의 가격이 하락하여 수출이 증가하고, 상대적으로 수입품의 국내 가격이 상승하여 수입이 감소한다.

12 환율 하락의 영향

제시된 상황은 모두 외화의 공급이 증가하는 상황이다. 외화의 공급이 증가하면 환율은 하락한다. 따라서 외국에서 유학 중인 학생과 해외여행을 떠나려는 부부, 수입 가구를 판매하는 가구점 주인이 유리해진다. 우리나라 선수는 불리해진다.

13 서술형 환율 상승이 수출에 미치는 영향

모범 답안 수출 상품의 달러 표시 가격이 하락하여 수출품의 가격 경쟁력이 강화되고 수출이 증가하게 된다.

채점 기준	배점
제시어를 모두 사용하여 환율 상승이 수출에 미치는 영향을 정확하게 서술함	100%
환율 상승이 수출에 미치는 영향을 적절하게 서술하였으나, 제시어를 모두 사용하지 않음	70%
환율이 상승하면 수출이 증가한다고 서술함	30%

14 서술형 환율 하락의 영향

모범 답안 환율이 하락하면 원화 가치가 상승하면서 갚아야 할 빚이 감소하므로, 이는 외화 채무자인 갑에게 유리하다.

채점 기준	배점
제시어를 모두 사용하여 제시된 상황에서 환율 하락이 미칠 영향을 정확하게 서술함	100%
제시된 상황에서 환율 하락이 미칠 영향을 적절하게 서술하였으나, 제시어를 모두 사용하지 않음	70%
갑에게 유리하다고만 서술함	30%

102~105쪽

대단원 완성하기 3단계

01 ② 02 ⑤ 03 ④ 04 ② 05 ① 06 ④ 07 ④
08 ② 09 ⑤ 10 ① 11 ③ 12 ④ 13 ④ 14 ⑤
15 ③ 16 ② 17 ② 18 ⑤ 19 ④

서술형

20 (가)는 우리나라의 국내 총생산에 포함되고, (나)는 포함되지 않는다. 국내 총생산은 생산자의 국적을 따지지 않고, 그 나라의 영토 안에서 생산된 것을 포함하여 계산하기 때문이다.

21 [모범 답안] 국내 총생산은 시장에서 거래되지 않은 것들을 계산에 포함하지 않는다는 한계점이 있다.

22 (1) 인플레이션 (2) [모범 답안] 과소비를 억제하고 건전하고 합리적인 소비 생활을 하며, 저축을 늘린다.

23 (1) 구조적 실업 (2) [모범 답안] 구조적 실업은 생산 구조의 변화로 인해 발생하는 실업이므로 인력 개발이나 직업 훈련 프로그램을 실시하여 해결할 수 있다.

24 (1) 원화 가치는 상승하였다. (2) [모범 답안] 수출품의 가격 경쟁력이 약화되어 수출이 감소하고, 수입품의 가격 경쟁력이 강화되어 수입이 증가한다.

01 국내 총생산의 의미

국내 총생산은 일정 기간 한 나라 안에서 새롭게 생산한 모든 최종 생산물의 가치를 합한 것으로, 총량을 나타내기 때문에 소득 분배나 빈부 격차에 대한 정확한 정보를 주지 못한다.

02 1인당 국내 총생산의 의미
1인당 국내 총생산은 국내 총생산을 그 나라의 인구수로 나눈 것으로, 한 나라 국민의 평균적인 생활 수준을 파악하는 지표로 활용된다.

03 국내 총생산의 계산
국내 총생산의 계산은 최종 생산물의 시장 가치의 합계 또는 각 생산 단계의 부가 가치의 합계로 표현할 수 있다.

04 경제 성장의 긍정적 영향
경제 성장을 통해 국민 소득이 증가하면 경제적으로 풍요로운 삶을 누릴 수 있게 된다.
오답 분석 ① 한 나라의 국내 총생산을 포함한 국민 경제 규모가 커진다.
③ 경제 성장의 혜택이 골고루 분배되지 않으면 빈부 격차가 심화될 수 있다.
④ 경제 규모가 커지고 이에 따라 국민 소득도 증가한다.
⑤ 대기업 중심으로 경제 정책이 만들어져 중소기업이 후퇴하는 것은 경제 성장의 부정적 영향이다.

05 경제 성장의 요인
경제 성장의 요인으로 생산 기술, 정부 정책, 기업가 정신, 천연 자원의 보유 등을 들 수 있다. ① 영토가 크면 경제 성장에 유리할 수 있지만 영토의 크기가 경제 성장의 직접적인 요인이라고 볼 수 없다.

06 우리나라의 경제 성장
우리나라는 짧은 시간에 높은 경제 성장을 이루었으며, 이를 '한강의 기적'이라고 표현한다.

07 인플레이션 사례
제시된 사례에서 나타난 경제 문제는 물가가 지속적으로 상승하는 인플레이션이다. 1920년대 독일은 통화량이 증가하여 극심한 초인플레이션 상황을 겪었다.

08 인플레이션의 발생 원인
독일 정부가 화폐의 양을 늘리고 국채를 대거 발행하여 통화량이 늘어났기 때문에 인플레이션이 발생하였다.

09 물가 상승의 영향
물가가 상승하면 화폐 가치가 떨어지므로 실물 자산 소유자는 유리해진다.
오답 분석 ①, ②, ③, ④ 인플레이션 상황에서는 화폐 가치가 하락하므로 화폐를 소유한 사람들은 불리해진다.

10 인플레이션에 대한 정부의 대책
물가를 안정시키기 위해 정부는 재정 지출을 줄이고 공공요금의 인상을 억제한다. 또한 세금을 늘려 시중의 통화량을 축소한다.
오답 분석 ㄷ은 경제 주체 중 기업의 대책, ㄹ은 경제 주체 중 가계의 대책이다.

11 실업의 유형과 대책
제시된 사례에서 취업 박람회를 개최하여 구직자들에게 좋은 일자리를 연계하는 것은 더 나은 조건의 일자리를 구하기 위해 일시적으로 실업 상태가 된 마찰적 실업의 대책이 될 수 있다.

12 실업의 영향
실업이 발생하면 개인적 측면에서 생계유지에 어려움을 겪을 수 있고, 사회적으로 일할 능력이 있는 사람이 경제 활동에 참여하지 못하여 인적 자원이 낭비된다.
오답 분석 ㄱ. 실업 인구에 대한 부양 부담이 커져 정부의 재정 부담이 증가한다.
ㄷ. 실업으로 소득이 줄어들면 소비가 위축되고 물가는 하락한다.

13 고용 안정을 위한 노력
고용 안정을 위해 기업은 더 많은 일자리를 창출하는 방안을 모색하고, 근로자는 자기 능력을 계발해야 한다. ④ 마찰적 실업을 해결하기 위해서는 정부가 적절한 구직 정보를 제공하여 기업과 노동자가 탐색 시간과 비용을 줄일 수 있게 해야 한다.

14 국제 거래의 특징
국경을 넘어 이동하는 상품을 거래할 때 관세 또는 수입할당제 등이 존재하는 것은 국제 거래의 경우 상품 거래를 제한하는 여러 가지 무역 장벽이 존재함을 의미한다.

15 국제 거래의 특징
국제 거래의 경우 상품의 거래가 국경의 범위 내에서뿐만 아니라 국경 밖에서도 이루어진다. 세계 각 나라는 국제 거래를 통해 서로 필요한 것을 얻을 수 있다.

16 국제 거래의 원리
국제 거래에서는 상대적으로 생산비가 적게 드는 제품을 생산하는 비교 우위에 의해 각 국가가 이득을 얻을 수 있다.

17 환율 변동
환율$_1$에서 환율$_2$로 변화된 상황은 환율이 상승한 경우로, 환율 상승은 자국 화폐 가치의 하락을 의미한다.

18 환율 변동의 원인
⑤ 외국으로부터 빌린 돈에 대한 이자를 상환하려면 외화가 필요하므로 외화에 대한 수요가 증가하여 환율이 상승한다.
오답 분석 ① 수출 증가는 외화 공급 증가 요인이다.
② 환율 상승은 환율 변동의 원인이 아니라 결과이다.
③ 환율이 하락하면 국내 물가가 안정된다.
④ 외국인의 국내 여행 감소는 외화 공급 감소 요인이다.

19 환율 상승의 영향
환율이 상승하면 원화 가치가 하락하면서 수출품의 가격 경쟁력이 강화되어 수출이 증가하고 자국민의 외국 여행 경비가 증가하게 된다.
오답 분석 ㄱ. 환율이 상승하면 외채 상환 부담이 커진다.
ㄷ. 환율이 상승하면 수입품의 가격이 올라 가격 경쟁력이 약화된다.

20 서술형 국내 총생산의 계산
국내 총생산은 한 나라의 영토 안에서 생산된 것을 포함하므로, 비록 외국인이 생산한 것이라도 우리나라 안에서 생산된 것이면 국내 총생산에 포함한다. 반면 비록 우리나라 사람이 생산한 것이라도 우리나라 밖 외국에서 생산한 것이면 국내 총생산에 포함하지 않는다.

채점 기준	배점
(가)와 (나)가 국내 총생산에 포함되는지 아닌지를 쓰고 그 까닭을 제시어를 모두 사용하여 정확하게 서술함	100%
(가)와 (나)가 국내 총생산에 포함되는지 아닌지를 쓰고 그 까닭을 적절하게 서술하였으나, 제시어를 모두 사용하지 않음	70%
(가)와 (나)가 국내 총생산에 포함되는지 아닌지를 썼으나, 그 까닭을 제시하지 않음	30%

21 서술형 **국내 총생산의 한계**

국내 총생산은 시장에서 거래되지 않은 것들은 계산에 포함하지 않는다. 주부의 가사 활동이나 봉사 활동, 지하 경제 등이 국내 총생산에 포함되지 않아 그 나라의 경제 규모를 정확하게 나타내지 못한다.

채점 기준	배점
제시어를 모두 사용하여 제시된 내용에서 추론한 국내 총생산의 한계를 정확하게 서술함	100%
제시된 내용에서 추론한 국내 총생산의 한계를 적절하게 서술하였으나, 제시어를 모두 사용하지 않음	70%
국내 총생산의 한계를 제시하였으나 제시된 내용과 관련 없는 내용임	30%

22 서술형 **인플레이션의 해결 방안**

경제 전체의 총수요가 증가하여 총공급보다 많을 때 물가가 상승한다. 특히 물가가 지속적으로 오르는 현상을 인플레이션이라고 한다.

채점 기준	배점
제시어를 모두 사용하여 소비자 측면에서 인플레이션의 대책을 정확하게 서술함	100%
소비자 측면에서 인플레이션의 대책을 적절하게 서술하였으나, 제시어를 모두 사용하지 않음	70%
소비를 줄여야 한다고만 서술함	30%

23 서술형 **실업의 유형**

제시된 사례에서처럼 새로운 기술의 도입으로 산업 구조가 변화하면 기존의 기술이나 생산 방법은 밀려나게 되는데, 이에 따른 실업을 구조적 실업이라고 한다.

채점 기준	배점
제시어를 모두 사용하여 구조적 실업의 해결 방안을 정확하게 서술함	100%
구조적 실업의 해결 방안을 적절하게 서술하였으나, 제시어를 모두 사용하지 않음	70%
새로운 직업을 가질 수 있도록 훈련을 해야 한다고 서술함	30%

24 서술형 **환율 변동의 영향**

제시된 표에 따르면 환율이 계속하여 하락하고 있다. 따라서 원화 가치는 하락한다. 환율이 상승하면 외화로 표시되는 우리나라 상품의 가격이 하락하여 수출이 증가하고, 상대적으로 수입품의 국내 가격이 상승하여 수입이 감소한다.

채점 기준	배점
제시어를 모두 사용하여 환율 하락의 영향을 정확하게 서술함	100%
환율 하락의 영향을 적절하게 서술하였으나, 제시어를 모두 사용하지 않음	70%
환율 하락으로 수입이 증가한다고만 서술함	30%

Ⅵ 국제 사회와 국제 정치

01 국제 사회의 특성과 행위 주체

108~109쪽

간단 체크

❶ 힘의 논리가 작용한다. ❷ 자국의 이익을 우선적으로 추구한다. ❸ 국제 비정부 기구 ❹ 정부 간 국제기구 ❺ 구글, 애플, 삼성 등

개념 다지기 1단계

109쪽

01 국제 사회 **02** 자국 **03** 강대국 **04** 존재하지 않는다 **05** 국가 **06** 정부 간 국제기구 **07** 개인과 민간단체 **08** 세계화

실력 올리기 2단계

110~111쪽

01 ② **02** ④ **03** ② **04** ⑤ **05** ④ **06** 해설 참조
07 ④ **08** ④ **09** ④ **10** ① **11** ③ **12** 해설 참조

01 **국제 사회의 의미**

국제 사회란 전 세계 여러 나라가 서로 밀접하게 영향을 주고 받으며, 국제적 공동 생활을 영위하는 사회이다.

02 **국제 사회의 특성**

국제 사회의 기본 단위인 국가는 국제 관계에서 자국의 이익을 우선으로 추구한다. 이 과정에서 국가 간에 갈등과 분쟁이 생기기도 하는데, 실제로 국제 사회에서 강대국이 힘의 논리를 앞세워 많은 영향력을 행사하고 있다. ④ 국제 사회는 강제성을 지닌 중앙 정부가 존재하지 않아 분쟁이나 갈등이 발생했을 때 조정이나 해결이 쉽지 않다.

03 **국제 사회의 특성**

국제 사회에서 이루어지는 정치, 경제 행위는 지구촌 전체에 영향을 미치고, 국제 사회에서는 대부분 자국의 이익을 최우선으로 한다.

오답 분석 ㄴ. 국제 사회는 경쟁과 갈등이 나타나지만, 공동의 문제 해결을 위해 협력하기도 한다.

ㄹ. 국제 사회에는 다국적 기업뿐만 아니라 국가, 국제기구 등 다양한 행위 주체가 존재한다.

04 **국제 사회의 기본 요소**

개인이 모여 사회를 이루듯이 주권을 가진 국가를 기본 요소로 하여 국제 사회가 구성된다.

05 **국제 사회의 특성**

국제 사회에서 각 국가는 이념이나 도덕보다 자국의 이익에 따라 행동한다. 제시된 사례에서 몇몇 선진국은 자국의 경제 발전을 위해 온실가스 감축 합의에 참여하지 않았다.

06 서술형 **국제 사회의 영향**

모범 답안 국제 사회에서 이루어지는 정치, 경제 행위는 한 나라를 넘어서 주변 국가 및 지구촌 전체에 큰 영향을 미친다.

채점 기준	배점
제시어를 모두 사용하여 국제 사회의 영향을 정확하게 서술함	100%
국제 사회의 영향을 적절하게 서술하였으나, 제시어를 모두 사용하지 않음	70%
세계에 큰 영향을 준다고만 서술함	30%

07 **국제 사회와 국제법**

국제법은 국가 간의 합의에 따라 국가 간의 관계를 규칙으로 정해 놓은 법이다. 대표적인 예로 국가 간의 조약을 들 수 있다.

08 고난도 **국제 사회의 특성**

[자료 분석]

제시된 자료는 국제 연합 안전 보장 이사회의 모습이다. 안전 보장 이사회의 상임 이사국은 거부권을 행사할 수 있으며, 이들 중 한 나라만 거부권을 행사해도 그 안건은 부결된다.

[선택지 분석]

① 자국의 이익을 최우선한다.
➡ 자국의 이익을 최우선하는 것은 국제 사회의 특성이지만 제시된 자료에서 유추할 수 없다.

② 중앙 정부가 존재하지 않는다.
➡ 중앙 정부가 존재하지 않는 것은 국제 사회의 특성이지만 제시된 자료에서 유추할 수 없다.

③ 국제법과 상관없이 의사 결정을 한다.
➡ 국제 사회도 법의 적용을 받으며, 국제법이 필요한 경우 적용된다.

④ 강대국은 힘의 논리를 앞세워 영향력을 행사한다.
➡ 상임 이사국이 거부권을 행사할 수 있다는 것은 강대국의 힘의 논리가 작용한다는 의미이다.

⑤ 분쟁이 해결되지 않으면 무조건 전쟁으로 이어진다.
➡ 국제 사회에서 분쟁이 해결되지 않는다고 무조건 전쟁으로 이어지는 것은 아니다.

09 **국제 사회의 행위 주체**

각 나라의 정부를 회원으로 하며 국제 평화를 유지하고 다양한 영역에서 상호 협력하는 국제 사회의 행위 주체는 국제기구이다.

10 **국제 비정부 기구**

개인이나 민간단체가 중심이 되어 만들어진 국제기구를 국제 비정부 기구라고 하며, 국제 사면 위원회, 국경 없는 의사회, 그린피스 등이 있다.

오답 분석 ㄷ. 국제적 규모로 상품을 생산하고 판매하는 것은 다국적 기업이다.
ㄹ. 국제 사회에서 가장 기본이 되는 행위 주체는 국가이다.

11 고난도 **다국적 기업의 특징**

[자료 분석]

다국적 기업은 해외 여러 국가에 자회사, 지점, 제조 공장을 두고 생산과 판매 활동을 한다.

[선택지 분석]

① 국제적 규모로 상품을 생산하고 판매한다.
➡ 다국적 기업은 국내뿐만 아니라 세계를 시장으로 상품을 판매한다.

② 세계화로 인해 그 규모가 점점 커지고 있다.
➡ 세계화, 정보화 등으로 국제 사회에서 다국적 기업의 영향력이 확대되고 있다.

③ 국제 사회에서 가장 기본적이고 전형적인 행위 주체이다.
➡ 국가에 관한 설명이다.

④ 전 세계에 걸쳐 자신들의 경제적 이익을 극대화하고자 한다.
➡ 기업의 목적은 이윤 추구이며, 다국적 기업도 전 세계 시장에 상품을 판매하여 이익을 얻고자 한다.

⑤ 보통 어느 한 나라에 본사를 두고 세계 여러 나라에 자회사와 공장을 설립한다.
➡ 본사는 자국에 두고 연구소는 선진국에, 공장은 노동력이 풍부한 개발 도상국에 위치하는 경우가 많다.

12 서술형 **국제 사회의 행위 주체로서 국가의 역할**

모범 답안 국제 사회에서 국가는 법적 지위를 가지고 외교 활동을 한다.

채점 기준	배점
제시어를 모두 사용하여 국제 사회의 행위 주체로서 국가의 역할을 정확하게 서술함	100%
국제 사회의 행위 주체로서 국가의 역할을 적절하게 서술하였으나, 제시어를 모두 사용하지 않음	70%
국가는 가장 기본적이고 전통적인 행위 주체라고 서술함	30%

02/03 국제 사회의 모습과 공존을 위한 노력 ~ 우리나라의 국가 간 갈등과 해결

간단 체크 112쪽

❶ 갈등 ❷ 영유권

개념 다지기 1단계 113쪽

01 분쟁 및 전쟁 02 상이 03 외교 04 민간 05 일본
06 있다 07 중국 08 존중의

실력 올리기 2단계 114~115쪽

01 ④ 02 ⑤ 03 ③ 04 ④ 05 ② 06 해설 참조
07 ③ 08 ① 09 ④ 10 ③ 11 ⑤ 12 해설 참조

01 국제 사회의 갈등

국제 사회에서 지나친 경쟁은 갈등을 일으키고, 갈등이 심해지면 분쟁이나 전쟁으로 이어진다.

02 고난도 국제 사회의 갈등 원인

[선택지 분석]

① 국제 사회에서 각 국가의 수장이 대립하기 때문이다.
➡ 국제 사회에서 각 국가의 수장은 대립만 하지 않고 서로 협력하기도 한다.

② 국제 사회에서 각 국가가 냉전 체제에 돌입했기 때문이다.
➡ 냉전 체제는 소련이 붕괴되면서 해체되었다.

③ 국제 사회에서 각 국가 간 상호 의존성이 약해지기 때문이다.
➡ 국제 사회에서 각 국가 간 상호 의존성이 강해지고 있다.

④ 국제 사회에서 각 기업이 이윤의 극대화를 추구하기 때문이다.
➡ 이윤 극대화 추구는 다국적 기업의 목적이다.

⑤ 국제 사회에서 각 국가는 자국의 이익을 최우선하기 때문이다.
➡ 국제 사회에서 경쟁과 갈등이 일어나는 주된 원인이다.

03 국제 사회 갈등 유형

국제 사회에서는 석유와 같은 자원 확보를 위한 갈등이 일어난다. 서남아시아와 북부 아프리카 국경 지대에서 일어나고 있는 분쟁이 이에 해당한다.

04 외교의 의미

제시된 글은 외교에 관한 설명이다. 외교란 한 국가가 국제 사회에서 평화적인 방법으로 자국의 이익을 달성하기 위해 행하는 활동이다.

05 우리나라의 외교

실리 외교란 말 그대로 실리를 추구하는 외교를 의미한다. 현재 우리나라는 국가 안전 보장, 평화 통일을 위한 국제적 여건 조성, 경제 발전을 위한 자원·자본 및 기술의 확보와 통상 증대, 국제 사회의 공동 문제 해결을 목적으로 활발한 외교 활동을 펼치고 있다.

06 서술형 오늘날 외교의 특징

모범 답안 세계화, 개방화의 진전으로 민간 외교의 중요성이 커지고 있다.

채점 기준	배점
제시어를 모두 사용하여 오늘날 외교의 특징을 정확하게 서술함	100%
오늘날 외교의 특징을 적절하게 서술하였으나, 제시어를 모두 사용하지 않음	70%
외교가 활발해지고 있다고 서술함	30%

07 독도 영유권 분쟁

독도 문제를 국제 사법 재판소에 회부하여 국제 분쟁 지역으로 만들려고 하는 것은 일본의 의도이다.

08 독도에 관한 역사적 사실

독도는 삼국 시대에 신라의 장군 이사부가 우산국(울릉도)을 정벌한 이후 줄곧 우리나라의 영토였다. 독도가 우리 땅임을 보여 주는 수많은 고지도와 역사책이 있으며, 심지어 과거 일본의 지도나 역사책에서도 독도를 우리의 영토로 표기하고 있다.

09 동해 표기

우리나라와 일본은 동해 표기를 둘러싸고 갈등을 겪고 있다. 동해는 우리나라에서 2천 년 이상 사용해 오고 있는 명칭인데, 일본은 세계 지도에 동해를 일본해로만 표시할 것을 주장하고 있다.

10 우리나라와 중국 간의 갈등

중국은 동북공정으로 역사를 왜곡하며 우리나라와 갈등을 빚고 있다. 동북공정이란 '동북 변경 지역의 역사와 현상에 관한 연구 과제'라는 뜻으로, 중국 동북 3성 지역의 역사 연구이다.

11 국가 간 갈등 해결 방안

주변 국가와는 오랜 역사 속에서 경제적으로나 정치적·문화적으로 긴밀한 관계를 맺고 있으므로 대화나 협상을 통해 평화적이고 합리적으로 문제를 해결해야 한다.

12 서술형 국가 간 갈등의 해결

모범 답안 세계화로 인해 국가 간에 상호 의존성이 확대되었기 때문이다.

채점 기준	배점
제시어를 모두 사용하여 우리나라가 국가 간 갈등을 해결해야 하는 까닭을 정확하게 서술함	100%
우리나라가 국가 간 갈등을 해결해야 하는 까닭을 적절하게 서술하였으나, 제시어를 모두 사용하지 않음	70%
주변 국가와 잘 지내야 하기 때문이라고 서술함	30%

116~119쪽

대단원 완성하기 3단계

01 ③ 02 ② 03 ② 04 ② 05 ① 06 ③ 07 ③
08 ② 09 ④ 10 ③ 11 ④ 12 ④ 13 ③ 14 ⑤
15 ① 16 ⑤ 17 ③ 18 ②

서술형

19 (1) 거부권 (2) [모범 답안] 국제 사회에서는 경제력과 군사력이 큰 강대국이 더 많은 영향력을 행사한다.

20 (1) (가): 국제 비정부 기구, (나): 다국적 기업 (2) [모범 답안] 국제 사회는 여러 나라가 교류하며 공존하는 사회이기 때문에 자유롭게 협력하고 경쟁하기 위해 다양한 행위 주체가 필요하다.

21 (1) 종교 · 영토 분쟁 (2) [모범 답안] 국제 평화를 정착하고 공존하기 위해 외교를 통한 문제 해결이 가장 필요하다.

22 (1) 동북공정 (2) [모범 답안] 상호 존중의 관점에서 합리적 대화를 해야 하며, 문제 해결을 위해 정부뿐만 아니라 시민 단체와 개인의 적극적인 자세도 필요하다.

01 국제 사회의 특성
국제 사회란 여러 국가가 서로 영향을 주고받으며 공존하는 사회를 말한다. 국제 사회에서는 보통 경제력과 군사력이 큰 강대국이 더 많은 영향력을 행사하고 약소국은 이를 인정한다.

02 국제 사회의 특성
우리나라는 자국의 이익을 우선적으로 추구하기 때문에 타이완과 외교 관계를 단절하고 중국과 수교하였다.
오답 분석 ①, ⑤는 오늘날 국제 사회의 특성이지만 제시된 사례에서 유추하기 어렵다.
③ 규범과 힘의 논리가 강대국으로 쏠린다.
④ 분쟁을 해결하는 중앙 정부가 존재하지 않는다.

03 국제 사회의 성립 요건
국제 사회는 주권을 가진 여러 나라가 공존하는 사회이다. 주권이란 국가의 의사를 최종적으로 결정할 수 있는 권력이다. 주권은 국가 안에서는 최고의 힘을 가지며, 국가 밖에서는 독립성을 가진다.

04 정부 간 국제기구의 특징
정부 간 국제기구는 각국 정부를 회원으로 하며, 대표적으로 국제 연합, 경제 협력 개발 기구, 국제 통화 기금 등이 있다. ② 자국의 이익을 추구하기 위해 활동하는 주체는 국가이다.

05 국제 사회 행위 주체
오늘날에는 국가뿐만 아니라 국제기구, 다국적 기업 등 다양한 행위 주체들이 국제 사회에서 활동하고 있다. ① 헌법 재판소는 국내 사회에서 헌법에 대한 분쟁을 해결하는 재판소로, 국제 사회 행위 주체가 아니다.

06 국제 사회 행위 주체
세계 종교 지도자는 국제 사회에 영향력을 끼치는 개인이라고 볼 수 있다.
오답 분석 ②는 국제 비정부 기구, ④는 다국적 기업, ⑤는 정부 간 국제기구이다.

07 국제 사회 경쟁과 갈등의 발생 원인
국제 사회에서 경쟁과 갈등이 발생하는 까닭은 각국이 자국의 이익을 최우선으로 하기 때문이다.

08 국제 사회 경쟁과 갈등 해결 방법
외교는 국제 사회의 문제를 해결하기 위한 가장 평화적인 방법이다. 외교 활동을 통해 자국의 정치적, 경제적 이익을 실현하고 자국의 위상을 높일 수 있기 때문에 외교의 중요성이 더욱 커지고 있다.

09 국제 사회의 갈등 원인
국제 사회에서 갈등이 나타나는 까닭은 결국 각 나라가 자국의 경제적 실리를 추구하기 때문이다.
오답 분석 ① 국제 사회가 다원화되고 있기 때문이다.
② 국가 간에 상호 의존성이 강화되기 때문이다.
③ 국제 사회가 자국의 이익을 최우선으로 여기기 때문이다.
⑤ 국제 사회가 자국의 이익을 먼저 추구하기 때문이다.

10 외교의 특징
외교는 한 국가가 국제 사회에서 평화적인 방법으로 자국의 이익을 달성하려는 활동으로, 오늘날 국가 간의 교류가 활발해지면서 효과적인 외교 정책의 중요성이 더욱 강조되고 있다. ③ 외교는 강대국의 힘의 논리가 아니라 주로 협상을 통해 이루어지는 것이 일반적이다.

11 최근 외교 경향의 특징
과거에는 국가를 대표하는 공식적인 외교가 주를 이루었지만, 최근에는 스포츠나 문화를 활용하는 민간 외교가 점점 증가하고 있다.
오답 분석 ① 민간 외교 형태가 보편화되었다.
② 이념보다는 실리를 추구하는 외교가 증가하고 있다.
③ 강대국의 힘의 논리에 좌우되는 경향이 증가하고 있으나 제시문을 통해 추론할 수 없다.
⑤ 외교는 기본적으로 나라 간에 대화와 타협을 바탕으로 이루어진다.

12 우리나라와 주변국과의 관계
일본과는 역사 교과서 왜곡 문제와 위안부 문제로 인한 갈등이 있고, 중국과는 동북공정으로 인한 갈등이 있다.
오답 분석 ① 역사적으로 주변국과 활발하게 교류하였다.
② 주변국은 우리나라의 주요 외교 대상이다.
③ 일본과는 동해 표기를 둘러싼 갈등을 겪고 있다.
⑤ 중국과는 서해의 배타적 경제 수역 침범 문제로 갈등 중이다.

13 우리나라와 일본의 갈등
역사 교과서 왜곡 문제의 경우 일본의 잘못된 역사 인식으로부터 비롯되었다고 할 수 있다.

14 우리나라와 일본의 갈등
일본의 야스쿠니 신사 참배 논란은 주변국들과 이해관계가 얽힌 문제이다. 이것은 일본 자국 내의 일로만 볼 수 없기 때문에 일본 군국주의로 인해 피해를 당한 당사국들이 비난과 항의를 하는 것이다.

15 국제 갈등 해결의 중요성
세계화의 진전 속에서 서로의 영향력이 더욱 커지고 있기 때문에 국가 간 협력이 필요하다.

16 우리나라와 일본의 갈등
우리나라는 독도 영유권 문제가 국제 사법 재판소에서 해결할 수 있는 법적 분쟁이라고 생각하지 않는다. 제2차 세계 대전 후 연합국 최고 사령부에 의해 독도는 한국으로 반환되었다.

17 우리나라와 중국의 갈등
제시된 자료는 중국 동북공정과 관련된 것으로 중국이 고조선, 고구려, 발해를 중국사로 편입하려고 하는 역사 왜곡 사례이다.

18 국제 갈등의 해결 방법
국가 사이의 갈등은 해결하기 위해 정부와 시민 사회는 논리적이고 객관적인 대응 근거를 마련하고, 이를 바탕으로 상호 존중의 관점에서 접근해야 한다. ② 감정적인 대응보다는 논리적인 접근 자세가 필요하다.

19 서술형 **국제 사회의 특성**

국제 연합 안전 보장 이사회 상임 이사국의 거부권 행사를 통해 국제 사회는 힘의 논리가 작용하고 있음을 알 수 있다.

채점 기준	배점
제시어를 모두 사용하여 제시된 자료를 통해 알 수 있는 국제 사회의 특성을 정확하게 서술함	100%
제시된 자료를 통해 알 수 있는 국제 사회의 특성을 적절하게 서술하였으나, 제시어를 모두 사용하지 않음	70%
강대국에 의해 좌우된다고 서술함	30%

20 서술형 **국제 사회의 행위 주체**

국제 사회는 여러 나라가 교류하며 공존하고 있고, 다양한 행위 주체가 있다.

채점 기준	배점
제시어를 모두 사용하여 국제 사회에 다양한 행위 주체가 필요한 까닭을 정확하게 서술함	100%
국제 사회에 다양한 행위 주체가 필요한 까닭을 적절하게 서술하였으나, 제시어를 모두 사용하지 않음	70%
국제 사회가 조화롭게 운영되기 위해서라고 서술함	30%

21 서술형 **국제 사회의 갈등**

국제 사회에서 나타나는 여러 가지 갈등을 평화적으로 해결하기 위해 외교적인 수단이 필요하다.

채점 기준	배점
제시어를 모두 사용하여 국제 사회의 갈등을 해결하기 위한 가장 합리적인 방법을 정확하게 서술함	100%
국제 사회의 갈등을 해결하기 위한 가장 합리적인 방법을 적절하게 서술하였으나, 제시어를 모두 사용하지 않음	70%
국제 사회의 문제를 평화적으로 해결해야 한다고 서술함	30%

22 서술형 **우리나라와 중국의 갈등**

국가 간의 갈등을 해결하기 위해서 정부 차원의 대책과 더불어 시민 단체나 개인의 참여가 필요하다.

채점 기준	배점
제시어를 모두 사용하여 우리나라와 중국의 갈등 해결 방안을 정확하게 서술함	100%
우리나라와 중국의 갈등 해결 방안을 적절하게 서술하였으나, 제시어를 모두 사용하지 않음	70%
대화와 타협을 통해 해결해야 한다고 서술함	30%

Ⅶ 인구 변화와 인구 문제

01 인구 분포

122~123쪽

간단 체크

❶ 아시아 ❷ 북위 20°~40° ❸ 수도권

개념 다지기 1단계

123쪽

01 북반구 **02** 아시아 **03** 불균등한 **04** 농업 **05** 이촌 향도

실력 올리기 2단계

124~125쪽

01 ④ **02** ④ **03** ① **04** ② **05** ⑤ **06** ④ **07** ④ **08** ⑤ **09** 해설 참조 **10** ⑤ **11** 해설 참조

01 **세계의 인구 분포**

인구 밀도는 일정한 면적당 인구수를 나타낸다. 지역별 환경에 따라 인구 밀도는 큰 차이를 보인다. 중국은 세계에서 인구수가 가장 많지만 영토의 면적이 넓어서 인구 밀도까지 세계 최고 수준은 아니다.

02 **세계의 인구 분포**

중위도 지역은 기후가 온화하여 많은 인구가 밀집한다.

오답 분석 ① 불균등한 인구 분포를 보이고 있다.
② 주로 평야와 해안 지역에 인구가 밀집해 있다.
③ 자연환경도 인구 밀도에 영향을 미치고 있다.
⑤ 인구수와 인구 밀도 모두 아시아가 더 높다.

03 **인구 밀집 지역**

A는 서부 유럽으로 일찍부터 산업이 발달하여 경제적으로 풍요롭게 되면서 인구가 밀집하였다. B는 동아시아 지역으로 벼농사가 발달하기에 좋은 기후 환경의 영향으로 인구가 밀집하게 되었다.

04 **인구 분포에 영향을 미치는 요인**

인구 분포에 영향을 미치는 요인에는 자연적 요인(기후, 지형, 토양 등)과 인문·사회적 요인(산업, 일자리, 경제 발달, 문화 등)이 있다.

05 **인구 희박 지역의 특징**

사하라 사막처럼 건조하여 농업과 같은 식량 생산 활동을 거의 할 수 없거나 캐나다 북부처럼 너무 낮은 기온으로 인해 농업과 생활이 어려운 경우, 그리고 아마존강 유역처럼 빽빽한 밀림으로 인해 농업과 거주가 모두 불리한 지역들은 인구 밀도가 낮게 나타난다. 세 지역 모두 불리한 자연환경으로 인해 인구 희박 지역이 된 것이다. 대체로 인

구 희박 지역들은 인문 환경보다 자연환경에 의한 경우가 많았다. 하지만 시대의 변화로 인문 환경의 중요성이 갈수록 커지고 자연환경의 불리함을 과학 기술이 극복해 내면서 점차 자연환경보다 인문 환경이 중요해지고 있다. 우리나라의 경우에도 농업에 유리한 지형과 기후를 가진 남서부 지역의 인구 밀도가 산업 시설, 일자리 부족 등으로 인해 계속 낮아지고 있다.

06 고난도 **인구 밀집 지역과 인구 희박 지역**

[자료 분석]

이 지도는 대표적인 인구 밀집 지역과 인구 희박 지역을 보여준다. A는 네덜란드, B는 방글라데시로 인구 밀집 지역에 속하고, C는 몽골, D는 캐나다로 인구 희박 지역에 속한다.

[선택지 분석]

① A~D 지역은 모두 인문 환경이 인구 밀도에 영향을 미친 지역들이다.
➡ 보통 선진국의 인구 밀집 지역은 산업, 경제 등의 인문 환경이 영향을 준 반면, 개발 도상국의 경우에는 지형, 기후 등 자연환경이 영향을 주는 경우가 많다. 네덜란드와 방글라데시가 그렇게 구분이 된다. 몽골도 건조 지역으로 농업에 적합하지 않아 유목 생활을 했던 점이 인구 밀도를 낮춘 것이다. 캐나다는 선진국이지만 인구에 비해 워낙 땅이 넓고, 그 중에서도 사람들이 적합한 기후를 갖춘 곳에만 인구가 밀집하다 보니 국토 전체로 봤을 때 인구 밀도가 낮을 수밖에 없다.

② A 지역과 D 지역의 인구 분포 차이는 경제 발달의 차이를 반영한 것이다.
➡ 두 나라 모두 선진국이다. 기후의 차이와 국토 면적의 차이가 인구 밀도를 차이 나게 했다.

③ A 지역과 B 지역 모두 높은 소득이 보장된 일자리가 풍족하다는 점 때문에 인구 밀도가 높아졌다.
➡ A는 해당하지만, B는 그렇지 않다. 방글라데시의 경제 수준은 높은 소득은 물론, 일자리 마련도 쉽지 않은 상황이다. 방글라데시는 벼농사로 인한 인구 집중으로 보고 있다.

④ B 지역과 C 지역은 농작물의 재배와 관련된 환경의 차이로 인해 인구 밀도가 서로 다르게 되었다.
➡ A는 산업 발달로 일자리가 풍부하여, B는 벼농사의 발달로 인구 밀도가 높다. C와 D는 모두 농업에 불리한 환경이라는 점이 인구 밀도에 영향을 주었다.

⑤ C 지역과 D 지역은 경제적으로 낙후된 환경이라는 점이 인구 밀도가 낮아지는 데에 큰 영향을 미쳤다.
➡ C의 경제가 아직 발전 진행 중이라 좋다고 볼 순 없지만 이것 때문에 인구 밀도가 낮다고 말하긴 어렵고 건조 기후의 영향인 것으로 보고 있다. D는 선진국이므로 설명이 적합하지 않다.

07 **인구 밀집 지역의 특징**

제시된 사진에서 보는 것처럼 방글라데시(가)는 벼농사가 발달했고, 독일(나)은 공업이 발달했다. 방글라데시는 계절풍의 영향을 받는 지역으로 여름철 강수량이 많고 기온이 높아 벼농사에 유리하다. 이러한 점이 인구가 밀집하는 데 영향을 끼쳤다. 한편 독일은 공업 발달이 인구 밀집에 영향을 끼친 지역이다.

08 **인구 분포에 영향을 주는 요인**

산업화 이후 인구 분포에 영향을 미치는 요인으로 자연환경보다 인문 환경이 중요해지게 되었다. ㄱ, ㄴ은 자연환경에 속하고 ㄷ, ㄹ은 인문 환경에 속한다.

09 서술형 **인구가 밀집하는 이유**

모범 답안 산업이 발달하여 일자리가 풍부하고 높은 소득을 얻을 기회가 많기 때문이다.

채점 기준	배점
제시어를 모두 사용하여 경제 상황이 좋은 곳임을 정확하게 서술함	100%
모든 제시어를 사용하였지만, 일부 서술이 미흡함	50%

10 고난도 **우리나라 인구 분포의 특징**

[자료 분석]

이 지도는 우리나라의 인구 밀도가 어떻게 변화했는지를 보여준다. 산업화가 본격적으로 진행된 1960년대를 기준으로 그 이전의 인구 밀집 지역인 A(군산, 김제)와 그 이후의 인구 밀집 지역인 B(울산)를 비교해 보면 인구 분포에 영향을 주는 요인이 자연적인 것에서 인문적인 것으로 변화했음을 짐작할 수 있다. 산업화 이전에는 농업이 유리한 평야 지역에 인구가 밀집하였으나 산업화 이후 농업 중심에서 공업과 서비스업 중심으로 변하면서 대도시와 공업 도시가 발달하였다.

[선택지 분석]

✗ 두 지역에 인구가 밀집한 이유는 동일하다.
➡ A는 농업에 유리한 자연환경(넓은 평야, 온화한 기후) 때문에 인구가 밀집한 반면, B는 중공업 산업의 중심 지역으로 성장하면서 일자리가 풍부하여 인구가 밀집한 곳이다.

✗ A 지역은 이촌 향도 현상으로 인해 인구가 증가하였다.
➡ A는 농촌 지역으로 이촌 향도 현상에 의해 인구가 감소하였다.

ㄷ 산업 구조의 변화로 인해 B 지역에 인구가 밀집하게 되었다.
➡ 농업 중심에서 공업과 서비스업 중심으로 산업 구조가 변했기 때문에 B 지역에 인구가 밀집한 것이다.

ㄹ A 지역 인구의 평균 연령은 지속적으로 높아지는 경향을 보일 것이다.
➡ 인구 감소, 특히 청장년층의 인구가 일자리를 찾아 도시 지역으로 떠나면서 노인 인구의 비율이 증가하여 평균 연령도 지속적으로 높아지게 된다.

11 서술형 **우리나라 인구 분포의 변화**

모범 답안 산업화 이전에는 자연환경이, 산업화 이후에는 인문 환경이 인구 분포에 더 큰 영향을 주고 있다.

채점 기준	배점
모든 제시어를 사용하여 인구 분포에 영향을 주는 요인을 정확하게 서술함	100%
인구 분포 변화에 영향을 주는 요인을 설명하였지만, 제시어를 모두 사용하지 않음	50%

02 인구 이동

127쪽

✓ 간단 체크

❶ 이촌 향도 현상 ❷ 경제적 이동

개념 다지기 1단계

127쪽

01 흡인 **02** 범위 **03** 일시적 **04** 강제적 **05** 다양성
06 갈등 **07** 노동력

집중 공략

128쪽

| 인구의 국제 이동 |

01 미국, 일자리를 찾기 위한 경제적 이동 **02** 경제적 이동
03 문화 갈등, 인종 차별 등 **04** 높은 임금, 풍부한 일자리, 정치적 안정 등

01 미국으로 이주한 중남미 사람들을 히스패닉이라고 부른다. 보통 일자리, 높은 소득 등을 목적으로 이동한다. 이 중 불법적인 이주도 많아 이로 인한 미국 사회의 갈등이 매우 크다. 하지만 현재 미국 노동 시장에서 히스패닉의 비율이 매우 높아 이들이 없다면 미국 사회가 붕괴될 수도 있다는 말까지 나오면서 이들에 대한 처우 개선 목소리가 한동안 높아지기도 했다.

03 유럽에서는 종교, 언어 등 이주민과 문화적 갈등을 겪고 있으며, 일자리를 둘러싼 갈등도 발생하고 있다.

실력 올리기 2단계

129쪽

01 ③ **02** ② **03** ④ **04** ⑤ **05** ③
06 해설 참조

01 인구 이동의 흡인 요인

ㄱ, ㄷ과 같은 경제적 이유는 물론, ㄴ과 같은 종교적 이유도 흡인 요인이 된다.

오답 분석 ㄹ. 열악한 주거 환경은 배출 요인에 해당한다.

02 인구 이동 유형

유학, 여행, 파견 등의 목적으로 이동하는 것은 일시적 이동에 해당한다.

오답 분석 ① 정치적 이동, ③ 종교적 이동, ④ 일시적 이동, ⑤ 강제적 이동에 해당한다.

03 세계 인구 이동

최근에는 일자리, 높은 소득, 투자 등의 이유로 이동하는 경제적 이동이 많아지고 있다. 기후 변화로 인한 거주지 상실로 이동하는 기후 난민도 증가하고 있다.

오답 분석 ㄱ. 여행, 유학 등의 일시적 이동이 증가하고 있다.
ㄷ. 대부분 개발 도상국에서 선진국으로 이동한다.

04 고난도 인구의 국제 이동

[자료 분석]

이 지도는 세계의 경제적, 정치적 이동과 이런 이동으로 인해 형성되는 주요 인구 유입 지역과 유출 지역을 보여 주고 있다. 경제적 이동은 개발 도상국에서 선진국으로 일자리를 찾는 이동이, 정치적 이동은 난민들의 이동이 대부분이다. 따라서 인구 유입 지역은 선진국이며, 인구 유출 지역은 개발 도상국 또는 정치적 불안정이 지속되는 지역들이다.

[선택지 분석]

① 아프리카 대륙에는 정치적으로 불안정한 지역이 비교적 적다.
➡ 정치적 이동이 많은 것으로 보아 이 지역에 전쟁, 분쟁 등이 많다는 것을 짐작할 수 있다.

② 멕시코에서 미국으로의 이동은 대부분 자유를 찾기 위한 정치적 이동이다.
➡ 일자리, 높은 소득 등을 목적으로 한 이동이 대부분이다. 이런 이주자들을 히스패닉이라 부른다.

③ 우리나라로 이주하는 중국인들은 대부분 종교적 자유를 찾기 위해 이동한다.
➡ 주로 우리말을 구사할 수 있는 중국인들이 우리나라로 이주하는데 이들은 대부분 일자리나 출신 지역보다 높은 소득을 목적으로 한 경제적 이동을 한다.

④ 흡인 요인보다 배출 요인이 크게 작용하는 지역은 인구 유입 지역이 될 가능성이 크다.
➡ 인구 유출 지역이 될 가능성이 크다.

✓ ⑤ 파키스탄 사람들은 종교적인 이유도 함께 고려하여 서남아시아로 경제적 이동을 한다.
➡ 같은 이슬람교를 믿는 국가로 많이 이동한다.

05 인구 이동에 따른 갈등

이슬람교를 믿는 지역의 사람들이 유입되면서 이로 인한 종교 갈등이 발생할 수 있다. 실제로 프랑스에서 이로 인한 갈등이 많이 발생하고 있다.

06 서술형 인구 이동이 지역에 미치는 영향

모범 답안 노동력이 부족해지고, 성비 불균형 문제를 겪을 수 있다.

채점 기준	배점
모든 제시어를 사용하여 인구 유출 지역의 문제점을 정확하게 서술함	100%
모든 제시어를 사용하였지만, 문제점을 한 가지만 서술함	70%
제시어를 일부만 사용하였으며, 문제점도 한 가지만 서술함	30%

03 인구 문제

131쪽

✓ 간단 체크

❶ 가족계획 사업 ❷ 출산 장려 정책

개념 다지기 1단계 131쪽

01 정체 및 감소 **02** 부족 **03** 장려 **04** 저출산 **05** 감소 **06** 실버

집중 공략 132쪽

| 선진국과 개발 도상국의 인구 피라미드 |

01 결혼 연령 상승, 가치관의 변화 등 **02** 노동력 감소, 노인 문제 등 **03** 출산 장려 정책, 실버산업 육성 등 **04** 생활 수준의 향상, 의학 기술의 발달로 출생률 증가 **05** 급격한 인구 증가로 빈곤, 기아, 실업 등의 문제 발생 **06** 산아 제한 정책, 인구 부양력 향상을 위한 노력 등

01 선진국의 유소년층 인구 비율이 낮은 것은 저출산 문제 때문이다. 여성의 지위 상승과 사회 활동 증가, 결혼 연령의 상승, 육아 비용 증가, 자녀에 대한 가치관의 변화 등으로 출산을 기피하거나 아이를 적게 낳으려는 경향이 증가하였다.

02 선진국은 인구의 감소와 고령화를 함께 고민해야 한다. 인구 감소로 경제 활동을 할 수 있는 청장년층이 줄어드는 반면, 이들이 부양해야 할 노년층은 증가하게 되어 사회 전체적으로 부양 부담이 증가하게 된다. 증가한 노인들 중에는 부양할 사람이 없거나 가족들과 멀어지게 된 독거노인의 비율도 증가하여 사회 전체적으로 노인 문제가 증가할 가능성이 커진다. 이에 대비하기 위해 노인 복지를 늘리고 노인들이 사회생활을 할 수 있도록 정년 연장, 노인 일자리 마련 등의 노력을 해야한다. 그러나 이를 위한 비용 감당은 청장년층의 경제 활동에 바탕을 두고 있어 결국 청장년층의 부담이 커진다. 근본적인 고령화 문제 해결은 저출산 문제 해결과 함께 해야만 한다.

실력 올리기 2단계 133쪽

01 ⑤ **02** ② **03** 해설 참조 **04** ② **05** ⑤ **06** ②

01 세계의 인구 문제

여성의 사회 진출 증가로 선진국에서는 출생률이 낮아지게 되었다. 즉 세계 전체적인 인구 증가와는 반대 흐름을 보이게 된 것이다.

02 선진국의 인구 문제

선진국은 저출산과 고령화 문제를 겪으면서 노동력 부족 문제에 직면하게 되었다.

03 서술형 개발 도상국의 인구 문제

모범 답안 증가한 인구에 비해 인구 부양력이 부족하여 빈곤, 기아, 실업 등의 문제를 겪을 수 있고, 인구가 도시로 집중하면서 각종 도시 문제를 겪을 수 있다.

채점 기준	배점
모든 제시어를 사용하여 개발 도상국의 인구 문제를 정확하게 서술함	100%
모든 제시어를 사용하였지만, 인구 문제 중 일부의 설명이 미흡함	50%

04 고난도 세계의 인구 문제

[자료 분석]

보통 1인당 국내 총생산이 많은 지역일수록 기대 수명이 길고 합계 출산율이 낮다. 이는 고령화와 저출산을 겪고 있는 선진국이라는 의미이다. 반면 기대 수명이 짧고 합계 출산율이 높은 국가들은 1인당 국내 총생산이 낮게 나타나는데, 이는 개발 도상국이 인구 증가에 적합한 부양력을 갖지 못해 발생하는 문제를 짐작하게 해준다.

[선택지 분석]

ㄱ. 핀란드는 적극적인 출산 장려 정책이 필요하다.
➡ 핀란드는 기대 수명이 긴 대신 합계 출산율은 낮다. 이 경우 저출산, 고령화 문제를 겪게 된다.

ㄴ. 경제적 상황이 좋은 국가의 합계 출산율이 더 높다.
➡ 경제 상황이 좋을수록 여성의 사회 진출이 많아지고 개인주의가 강해지면서 결혼과 가족에 대한 가치관이 변하여 아이를 많이 낳지 않거나 안 가지려는 성향을 보여 합계 출산율이 낮다.

ㄷ. 인구 증가율이 높을수록 기대 수명도 길어진다.
➡ 증가한 인구만큼 영유아 사망률도 높기 때문에 기대 수명이 선진국에 비해 짧게 나타난다.

ㄹ. 나이지리아는 인구 부양력 향상을 위한 정책이 필요하다.
➡ 나이지리아는 합계 출산율이 높은 나라로 인구가 급격하게 증가하고 있다. 인구 부양력을 향상시켜야 인구 증가에 따른 인구 문제를 막을 수 있다.

05 우리나라 인구 문제의 변화

제시된 표어는 저출산 문제를 해결하기 위한 출산 장려 정책을 나타내고 있다.

06 고령화 문제의 해결 방안

양육비 지급은 저출산 문제를 해결하기 위한 노력이다.

134~137쪽

대단원 완성하기 3단계

01 ④	02 ③	03 ④	04 ③	05 ④	06 ④	07 ②
08 ④	09 ④	10 ⑤	11 ④	12 ⑤	13 ⑤	14 ①
15 ⑤	16 ②	17 ③	18 ②	19 ⑤	20 ①	21 ③

서술형

22 (1) 경제적 이동 (2) [모범 답안] 문화의 다양성이 증가하고, 노동력 부족 문제가 해결되면서 경제가 활기를 찾을 수 있다.

23 (1) ㉠: 고령화, ㉡: 인구 부양력 (2) [모범 답안] 다양한 노인 복지 제도를 마련하고, 정년을 연장한다. 실버산업을 육성시킨다.

01 세계의 인구 분포

위도 20°~40°의 중위도 지역은 사계절이 뚜렷하고, 기온이 적당해 인구가 가장 많이 밀집되어 있다.

오답 분석 ① 육지가 남반구에 비해 많기 때문이다.
② 오세아니아의 인구 밀도가 가장 낮다.
③ 보통 해안 지역이 어업 발달, 교역 유리, 건조하지 않은 기후 등으로 인해 내륙 지역보다 인구가 더 밀집한다.
⑤ 벼농사의 발달을 가장 큰 이유로 여긴다. 산업 혁명은 영국을 시작으로 유럽 지역에서 진행되었다.

02 인구 분포에 영향을 미치는 요인

산업, 종교, 소득, 일자리 등은 인문 환경에, 지형, 기후, 토양 등은 자연환경에 속한다.

03 세계의 인구 분포

내륙, 산지보다 해안, 평야에 인구가 더 밀집하고 있음을 알 수 있다. ④ 지형도 인구 밀집에 큰 영향을 준다.

04 인구 분포에 영향을 미치는 요인

C는 동남아시아 지역으로, 계절풍으로 인해 벼농사가 유리하여 인구가 밀집한 지역이 되었다.

오답 분석 A: 서유럽 지역으로 산업 발달과 온화한 기후가 영향을 주었다.
B: 사하라 사막으로 건조 기후 지역이다.
D: 미국 북동부로 유럽 사람들의 이주가 주로 이루어졌던 지역이라는 역사적 이유와 더불어 산업 발달, 온화한 기후 등이 영향을 주었다.
E: 아마존강 유역으로 덥고 습한 기후, 그리고 이로 인한 밀림 형성 등으로 인해 인구 희박 지역이 되었다.

05 인구 밀집 지역과 인구 희박 지역의 비교

몽골은 방글라데시에 비해 땅은 넓지만 건조 기후 지역으로, 곡물 농업을 하기가 어렵다. 이로 인해 넓은 땅에 비해 인구수가 적어 인구 밀도가 낮게 나타난다.

06 우리나라 인구 분포의 변화

산업화 이후에는 공업과 서비스업 중심의 산업 구조가 형성되면서 자연환경보다 인문 환경에 의해 인구 분포가 달라지고 있다.

오답 분석 ① 산업화 이전에는 농업이 중시되어 넓은 평야와 기후가 온화한 남서부 지역에 인구가 집중한 반면, 산업화 이후에는 대도시와 공업 도시에 인구가 집중하고 있다.
② 이촌 향도 현상은 산업화가 진행된 이후에 심화되었다.
③ 공업과 서비스업이 더 큰 영향을 주고 있다.
⑤ 이촌 향도 현상으로 인구 밀도가 매우 낮아지게 되었다.

07 수도권과 비수도권의 인구 불균형

ㄱ. 수도권은 풍부한 일자리, 편리한 주거 환경 등으로 인해 인구가 밀집해 있고, ㄷ. 과도한 수도권 집중이 늘 문제시되고 있다.

오답 분석 ㄴ. 수도권의 인구는 증가하는 모습을 보이고 있다.
ㄹ. 일자리, 주거 시설 등과 같은 인문 환경을 보완해야 한다.

08 인구 이동의 흡인 요인

흡인 요인은 인구를 끌어들일 수 있는 요인이어야 한다. 높은 주거 비용은 경제적 부담을 주어 인구를 내보내는 요인이 될 수 있다. 실제로 이러한 점 때문에 서울 인구가 주변 지역으로 유출되면서 서울의 인구는 감소하지만 수도권 전체의 인구는 증가하는 특이한 현상이 발생하게 되었다.

09 인구 이동의 유형

과거 중국의 경제적 상황이 좋지 않았을 때는 많은 중국인들이 주변의 동남아시아 지역으로 일자리를 찾거나 사업을 하기 위해 경제적 이동을 하는 경우가 많았다. 이 당시에만 해도 동남아시아의 경제 상황이 중국에 비해 훨씬 나은 상태였기 때문이다. 이들은 동남아시아에서 경제적 성공을 이룬 후 큰 영향력을 행사하는 존재가 되기도 하였다.

10 인구 이동의 유형

난민은 정치적 이동의 대표적인 사례이다. 종교적 이동은 종교의 자유를 찾아 영국에서 미국으로 이주한 청교도들의 사례가 대표적이다.

11 인구 이동의 유형

노예 무역은 대표적인 강제적 이동의 사례이다. 거주지를 옮기지 않고 일정 기간동안 다른 지역을 다녀오는 것을 일시적 이동이라고 하며 여행, 유학, 파견 등이 대표적이다. 일시적 이동은 교통 및 통신의 발달로 최근 증가하고 있다.

12 미국으로의 인구 이동

대부분 경제적 이동에 해당한다. 특히 멕시코를 비롯한 중남미계 이주자들이 많은데, 이들을 히스패닉이라 부른다. 일자리와 높은 소득을 목적으로 이동한 경우가 많다.

13 인구 유입 지역과 인구 유출 지역

ㄷ.북아프리카에서는 일자리를 찾아 유럽으로 떠나는 사람들이 많다. ㄹ. 국제적 인구 이동이 많아지면서 다문화 사회가 되는 곳들이 급격히 증가하고 있다.

오답 분석 ㄱ. 흡인 요인보다 배출 요인이 강하기 때문에 유출 초과 국가가 된 것이다. 이런 국가들은 대체로 경제적 상황이 안 좋고 정치적으로 매우 불안정한 모습을 보인다.
ㄴ. 유입 초과 국가들은 대부분 선진국인 반면, 유출 초과 국가들은 개발 도상국인 경우가 많다.

14 인구 이동이 국가에 미치는 영향

유입 초과 국가는 인구의 유입으로 인해 노동력이 증가하고 문화가 다양해지는 반면, 문화적 갈등과 일자리 경쟁이 심화되는 상황에 놓일 수 있다. 유출 초과 국가는 노동력

감소로 실업률이 낮아지게 되지만, 특정 성별 인구의 유출 심화로 심각한 성비 불균형을 겪을 수 있다.

15 **우리나라의 인구 이동**
설명에 해당하는 이동을 역도시화 현상(U턴 현상)이라고 한다. 대도시의 높은 집값과 생활비, 열악해진 거주 환경, 교통 체증 등으로 인해 이곳을 떠나 주변의 중소 도시나 자신이 과거 살았던 농촌 지역 등으로 이동하는 현상을 말한다. 이런 현상은 1990년대 이후부터 나타나기 시작하였다.

16 **우리나라의 인구 이동**
(가)는 1960년대 이촌 향도 현상, (나)는 일제 강점기, (다)는 역도시화 현상이 나타나는 1990년대 이후의 모습이다. 순서대로 나열할 경우 (나) – (가) – (다)가 된다.

17 **세계의 인구 변화**
선진국의 인구 증가가 정체 수준으로 완만해지는 반면, 개발 도상국은 급격한 인구 증가를 보이면서 전 세계 인구 증가에서 선진국이 차지하는 비율이 줄어들고 있다.

18 **개발 도상국의 인구 문제**
ㄱ. 개발 도상국의 도시는 인구의 급격한 증가로 주택 부족 문제를 겪고 있다. ㄷ. 인구가 급증하는 반면 이를 부양할 능력이 따르지 못하면서 빈곤, 기아, 실업 등의 문제를 겪고 있다. ㄴ과 ㄹ은 선진국의 인구 문제이다.

19 **선진국의 인구 문제**
외국인 이주자를 통해 노동력 부족을 해결하려는 것은 저출산·고령화 현상이 심화되면서 노동 가능 인구가 줄어든 결과이지 원인은 아니다.

20 **중국 인구 정책의 변화**
ㄱ. 남아 선호 사상이 강한 중국에서 한 자녀 갖기 정책은 남자 아이 하나만 가지려고 하는 부작용을 낳았다. ㄴ. 출생률 감소로 노년층 인구의 비율이 급격히 높아지고 있다.

21 **저출산 문제의 대책**
실버산업 육성은 고령화 문제에 대한 대책이다.

22 서술형 **인구 이동이 지역에 미치는 영향**
인구가 유입되는 지역은 노동력의 증가로 경제가 활성화되고, 문화의 다양성이 증가하는 등의 긍정적 영향을 기대할 수 있다.

채점 기준	배점
제시어를 모두 사용하여, 두 가지 변화를 정확하게 서술함	100%
모든 제시어를 사용하였지만, 한 가지 변화만 정확하게 서술함	50%

23 서술형 **인구 문제의 해결 방안**
고령화 문제에 대한 대책으로 노인 복지 제도 마련, 정년 연장, 실버산업 육성 등이 있다.

채점 기준	배점
고령화 문제에 대한 대책 두 가지를 정확하게 서술함	100%
고령화 문제에 대한 대책을 한 가지만 서술함	50%

Ⅷ 사람이 만든 삶터, 도시

01/02 세계의 매력적인 도시 ~ 도시 내부의 다양한 경관

140~141쪽

✔ 간단 체크
❶ 랜드마크 ❷ 도심 ❸ 지가, 접근성, 주간 인구 밀도 ❹ ㉡

개념 다지기 1단계 141쪽

01 높고 **02** 고산 도시 **03** 인구 공동화 현상
04 개발 제한 구역

집중 공략 142쪽

| 도시 내부의 기능 지역 분화 |
01 도심 **02** 부도심 **03** 인구 공동화 현상 **04** (1) (나) (2) (가) (3) (다) (4) (라)

실력 올리기 2단계 143~145쪽

01 ④ **02** ③ **03** ④ **04** ① **05** ③ **06** ① **07** 해설 참조 **08** ④ **09** ① **10** ⑤ **11** ① **12** ① **13** ⑤ **14** ① **15** ④ **16** ⑤ **17** ① **18** 해설 참조

01 **도시의 특성**
도시는 2, 3차 산업이 발달하여 노년층보다는 청장년층의 인구 비중이 높다.

02 **세계 도시**
쿠리치바는 환경 오염을 극복하고 친환경 도시로 탈바꿈한 대표적인 생태 도시이다.

03 **세계의 생태 환경 도시**
브라질의 쿠리치바, 일본의 고베, 독일의 프라이부르크 등은 생태 환경을 잘 가꾸고 있는 도시로 유명하다.

04 **세계의 랜드마크**
제시된 스카이라인은 에펠탑의 실루엣이 보이는 것으로 보아 프랑스 파리이다.
오답 분석 B는 이집트 카이로, C는 싱가포르, D는 일본 도쿄, E는 미국 뉴욕이다.

05 **세계의 랜드마크**
제시된 설명은 동남아시아의 물류 중심지인 싱가포르에 대한 것이다.

06 세계 도시의 특징

세계 도시는 세계 경제, 문화, 정치의 중심지로 세계적 영향력을 가진 금융 기관, 다국적 기업의 본사, 각종 국제기구의 활동이 활발히 이루어지는 도시이다.

오답 분석 ㄷ. 뉴욕은 역사 유적보다는 현대적인 시설이나 공연 등으로 인한 관광객이 많다.

ㄹ. 자연환경으로 이름난 휴양 도시로는 인도네시아의 발리, 멕시코의 칸쿤 등이 있다.

07 도시의 특징

모범 답안 도시는 많은 인구가 거주하여 인구 밀도가 높고, 토지 이용이 집약적으로 이루어지며, 상업·업무 기능이 발달하여 중심지를 형성한다.

채점 기준	배점
제시어를 모두 사용하여 도시의 특징을 구체적이고 정확하게 서술함	100%
제시어를 모두 사용하여 도시의 특징을 서술하였지만, 일부 내용을 맞지 않게 서술함	70%
제시어 중 일부를 사용하지 않았으며, 한 가지 특징만 서술함	30%

08 도시 내부의 지역 분화

도시 규모가 작을 때는 상업, 주거, 업무 기능이 도시 중심에 섞여 있다. 산업 발달로 도시 인구가 증가하면 접근성과 지가의 영향으로 도시 내에서 이심 현상과 집심 현상이 나타나 지역 분화가 이루어진다.

오답 분석 ㄴ. 도심에 대한 설명이다.

09 도심의 특징

도심은 대체로 도시의 중심부에 위치하며 교통이 편리하기 때문에 접근성과 지가가 가장 높아 고층 빌딩이 많이 분포한다. 따라서 높은 지대를 감당할 수 있는 상업·업무 기능이 강하게 나타나며 중심 업무 지구(CBD)를 형성한다.

오답 분석 ②, ④ 주변 지역, ③ 위성 도시에 대한 설명이다.
⑤ 도시가 커지면 도심이나 부도심의 상업·업무 기능이 확대된다.

10 도시 내부의 지역 분화

도시 내의 지역 분화가 일어나는 이유는 접근성과 지가때문이다. 지가가 높은 중심부는 높은 수익을 낼 수 있는 고급 상점이나 기업의 본사 등이 입지하고, 넓은 부지를 필요로 하거나 높은 지가를 감당할 수 없는 주거 및 공업 기능은 도시 외곽으로 이전한다.

11 도시의 내부 구조

도심은 대체로 도시의 중심에 위치한다. 부도심은 여러 개가 존재하며, 위성 도시는 대도시 주변에 입지한다.

12 도심 경관의 특징

A는 도심이다. 도심은 지대가 높아 토지를 집약적으로 이용한 결과 고층 빌딩이 많이 분포한다.

오답 분석 ②·④·⑤는 주변 지역의 주택가, ③은 개발 제한 구역의 경관이다.

13 개발 제한 구역의 특징

개발 제한 구역(greenbelt)은 도시 내의 녹지 보호와 도시의 무질서한 팽창을 막기 위해 설정한다.

14 도시 내부 구조와 기능

도시에 입지하는 각각의 기능은 도시가 점점 커지면서 유사한 기능들끼리는 모이고, 서로 다른 기능들끼리는 밀어내는 과정을 겪는다. 이러한 과정을 거쳐 성격이 다른 여러 종류의 기능 지역, 즉 도심·부도심·주변 지역 등으로 구분된다. 도심(가)은 도시 내에서 접근성이 가장 높고 땅값 또한 비싸기 때문에 중심 업무 기능이 주로 입지한다. 부도심은(나) 도심의 기능을 분담해 주는 곳으로 상업 기능이 주로 입지한다. 도심에서 떨어진 주변 지역(다)은 저렴한 지가를 이용하여 주택 단지, 공장, 학교 등이 입지한다.

15 고난도 인구 공동화 현상

[자료 분석]

도심에서 나타나는 인구 공동화 현상에 대한 문제이다. 인구 공동화 현상은 도심의 상주 인구 감소가 원인이다. 주간 인구가 도심(A)에서 가장 많고, 주변으로 갈수록 적어지는 데 비해 야간 인구가 도심에서 적고, 주변 지역(B)에 많은 것은 주변 지역에 거주하는 사람들이 업무·상업 기능이 강한 도심으로 출근하거나 쇼핑 등을 위해 낮에 방문하였다가 밤에 집으로 돌아가기 때문이다.

[선택지 분석]

ㄱ. A 지역은 야간에 인구 공동화 현상이 나타난다.
➡ 도심 지역은 주간에 몰려 있던 인구가 빠져 나가면서 인구 공동화 현상이 나타난다.

ㄴ. A 지역은 출퇴근 시간대에 교통 체증이 심하다.
➡ 도심은 업무·상업 기능이 강한 지역으로 출퇴근 시간대에는 교통 체증이 심각하다.

ㄷ. B 지역은 고층 빌딩이 밀집되어 있다.
➡ 주변 지역은 주거 기능이 강하여 주로 주택 단지가 밀집해 있다. 고층 빌딩은 도심 지역에 밀집해 있다.

ㄹ. B 지역은 A 지역에 비해 주거 기능이 뚜렷하다.
➡ 도심 지역은 지가 상승으로 업무·상업 기능이 뚜렷한 반면, 주변 지역은 주거 기능이 뚜렷하다.

16 도심과 주변 지역의 특징

지도의 (가)는 주변 지역인 도봉구이고, (나)는 도심인 중구이다.

오답 분석 ① (나)에 대한 설명이다.
②, ③ 주변 지역인 (가)에 해당한다.
④ 건물의 평균 높이는 도심인 (나)가 더 높다.

17 도시의 지역 분화

(가)는 도심으로 백화점, 기업의 본사 등이 입지한다.

18 서술형 도시의 지역 분화

모범 답안 도심은 접근성이 좋기 때문에 땅값이 비싸 고층 건물이 밀집되어 있다. 또한 상업·업무 기능이 집중되어 중심 업무 지구를 이룬다.

채점 기준	배점
제시어를 모두 사용하여 도심의 특징을 구체적이고 정확하게 서술함	100%
모든 제시어를 사용하였지만, 특징에 대한 서술이 일부 미흡함	70%
일부 제시어를 사용하지 않았으며, 한 가지 특징만 서술함	30%

03/04 선진국과 개발 도상국의 도시화 ~ 살기 좋은 도시

146~147쪽

✔ 간단 체크

❶ 북아메리카 ❷ 개발 도상국 ❸ 밴쿠버 ❹ 멜버른

개념 다지기 1단계

147쪽

01 도시화 **02** 가속화 단계 **03** 종착 단계 **04** 재활용 정책 **05** 그라츠 **06** 도시 재생 사업

집중 공략

148쪽

| 선진국과 개발 도상국의 도시화 |

01 선진국 **02** 개발 도상국 **03** 이촌 향도 현상 **04** 역도시화 **05** 북아메리카 **06** 아프리카 **07** 중국 **08** 종착 단계

실력 올리기 2단계

149쪽

01 ④ **02** ④ **03** 해설 참조 **04** ① **05** ④ **06** ②

01 도시화의 단계

도시화 곡선은 도시화 과정을 나타낸 곡선으로 A는 초기 단계, B는 가속화 단계, C는 종착 단계에 해당한다. 초기 단계는 농업 중심 사회, 가속화 단계는 산업화 사회이며, 종착 단계는 선진국에 해당하는 단계이다.

오답 분석 ① 가속화 단계(B)에 대한 설명이다.
②, ③ 초기 단계(A)에 대한 설명이다.
⑤ 경제 수준은 C–B–A 순으로 높게 나타난다.

02 선진국과 개발 도상국의 도시화 과정

A는 선진국, B는 개발 도상국의 도시화 곡선이다. 선진국은 산업 혁명 이후 오랜 기간 동안 서서히 도시화가 진행된 데 비해 개발 도상국은 제2차 세계 대전(20세기 중반)에 도시화가 시작되어 빠른 속도로 진행되고 있다.

03 서술형 선진국과 개발 도상국의 도시화 특징

모범 답안 선진국은 산업 혁명 이후 천천히 도시화가 이루어진 데 비해 개발 도상국은 제2차 세계 대전 이후에 도시화가 급속히 진행되었다.

채점 기준	배점
제시어를 모두 사용하여 선진국과 개발 도상국 도시화의 특징을 정확하게 서술함	100%
모든 제시어를 사용하였지만, 두 가지 중 한 가지 내용을 맞지 않게 서술함	70%
일부 제시어를 사용하지 않았으며, 한 가지 특징만 서술함	30%

04 도시 문제

도시 문제는 좁은 지역에 너무 많은 사람들이 거주하면서 발생한다. 도시 시설이 인구를 수용할 수 있는 한계를 넘어선 인구 증가는 도시 기반 시설 부족, 환경 오염, 교통 혼잡 등의 문제를 발생시킨다.

05 도시 문제의 해결 방안

제시된 글에서는 실업, 주택 문제가 나타나고 있다.

오답 분석 ㄱ은 도시의 환경 문제를 해결하는 방안, ㄷ은 교통 문제를 해결하는 방안이다.

06 살기 좋은 도시를 만들기 위한 노력

오스트리아의 그라츠는 무어강 동서 지역의 빈부 격차를 해소하기 위해 다리를 건설하고 강에 인공 섬을 만들어 주민들이 소통할 수 있는 장소를 만들었다. 에스파냐의 빌바오는 제철 공업 쇠퇴로 인한 지역 침체를 문화와 예술을 활용한 관광 산업 육성으로 극복한 도시이다.

150~153쪽

대단원 완성하기 3단계

01 ② **02** ① **03** ② **04** ④ **05** ① **06** ① **07** ④
08 ① **09** ⑤ **10** ③ **11** ③ **12** ① **13** ③ **14** ②
15 ③ **16** ② **17** ① **18** ② **19** ④ **20** ⑤

서술형

21 (1) 인구 공동화 현상 (2) [모범 답안] 도심은 접근성과 지가가 높고, 고층 빌딩이 많으며, 업무 · 상업 기능이 집중되어 중심 업무 지구가 형성된다.

22 [모범 답안] A 단계(가속화 단계)에서는 촌락에서 도시로 인구가 이동하는 이촌 향도 현상이 뚜렷하고, B 단계(종착 단계)에서는 과밀한 도시를 떠나 촌락으로 이동하는 역도시화 현상이 나타나기도 한다.

01 도시의 토지 이용

도시는 좁은 지역에 많은 인구가 거주하기 때문에 한정된 공간을 효율적으로 이용하기 위해 토지 이용이 집약적이다.

02 바르셀로나의 랜드마크

사그라다 파밀리아 성당과 구엘 공원은 건축가 가우디의 대표작으로 에스파냐 바르셀로나의 랜드마크이기도 하다. 지도의 A는 바르셀로나, B는 이스탄불, C는 도쿄, D는 로스엔젤레스, E는 상파울루이다.

03 이스탄불의 특징

유럽과 아시아에 걸쳐 있는 터키의 이스탄불은 동서양의 역사 · 종교 · 문화 등이 어우러져 독특한 경관이 나타난다.

04 고산 도시 키토의 특징

높은 산지는 농업이나 교류에도 불리하기 때문에 인구가 희박하나 열대 지방의 고산 지대는 해발 고도가 높아짐에 따라 기온이 낮아져 연중 봄과 같은 온화한 기후가 나타나 일찍부터 사람들이 모여 살았다. 대표적인 지역은 안데스 산지의 잉카 문명 발생 지역이다.

05 세계의 생태 도시

제시된 도시들은 자연과 인간이 공존하는 방법을 찾기 위해 친환경 에너지 사용 확대, 자전거 타기 장려 등 다양한 정책에 성공한 생태 도시이다.

06 세계 도시의 경관 특징

(가)는 오로라를 볼 수 있는 극지방, (나)는 피라미드와 스핑크스로 유명한 이집트의 카이로(B)이다. 오로라를 활용하여 관광 산업을 발달시킨 대표 도시는 아이슬란드의 레이캬비크(A)와 캐나다의 옐로나이프이다.

오답 분석 C는 싱가포르, D는 미국 뉴욕, E는 페루 쿠스코이다.

07 두바이의 도시 경관

스카이라인에서 왼쪽에 따로 떨어져 있는 건축물은 두바이의 랜드마크 중 하나인 버즈 알 아랍 호텔이다.

08 도시의 지역별 지가

그래프의 A는 도심, B는 중간 지역, C는 부도심, D는 주변 지역이다.

오답 분석 ㄷ. C(부도심)는 도심의 상업·업무 기능을 분담한다.

ㄹ. D(주변 지역)는 학교나 공장, 주거 기능이 주로 분포한다.

09 주변 지역의 특징

사진은 대규모 아파트 단지이므로 주변 지역의 경관을 찍은 것이다.

오답 분석 ① 부도심에 해당한다.

②, ③ 도심에 대한 설명이다.

④ 개발 제한 구역에 대한 설명이다.

10 도시의 내부 구조

(가)는 도심에서 주변 지역으로 이동하는 것이므로 (가) 방향으로 이동하면서 접근성, 지가, 상가 건물의 평균 높이, 주간 인구 수 등이 낮아진다.

오답 분석 ㄹ. 야간에는 주거 지역이 분포하는 주변 지역의 인구 밀도가 더 높다.

11 도시의 내부 구조

도심에서 주변 지역으로 갈수록 지가가 낮아지기 때문에 넓은 부지를 필요로 하는 주택, 공장, 학교 등이 분포한다.

오답 분석 ③ 고급 상가는 유동 인구가 많은 도심에 주로 분포한다.

12 도심과 주변 지역의 특징

(가)는 역 주변에 빌딩과 은행, 서울 시청이 입지해 있는 것으로 보아 도심이고, (나)는 역 주변에 아파트, 학교 등이 많이 분포하는 것으로 보아 주변 지역이다.

오답 분석 ㄷ. (가) 도심이 업무·상업 기능이 강하다.

ㄹ. 직장이 모여 있는 도심에서 먼 (나) 지역에 사는 사람들의 통근 거리가 더 멀다.

13 도시의 내부 구조

중간 지역은 도시화 초기에 도시 중심부에 혼재되어 있었던 업무 기능과 공장, 주택이 도시가 성장한 후에도 남아 있는 곳으로 도심(A)과 주변 지역(C) 사이에 나타난다.

오답 분석 ③ C는 주거 지역이 주로 분포하는 주변 지역이다.

14 도시화의 특징

도시화의 가장 큰 원인은 산업화로 인한 도시로의 인구 집중이다. 좀 더 나은 일자리를 찾아 촌락에서 도시로 인구가 이동하는 것을 이촌 향도라고 한다.

15 도시화의 단계

A 단계는 농업 중심 사회로 도시화율이 낮고 대부분의 인구가 촌락에 거주하는 시기이고, B 단계는 산업화의 진행으로 이촌 향도 현상이 뚜렷한 시기, C 단계는 대부분의 인구가 도시에 거주하며 역도시화 현상이 나타나기도 하는 시기이다.

오답 분석 ㄱ, ㄹ은 가속화(B) 단계에 해당하는 설명이다.

16 국가별 도시화율의 변화

(가)는 도시화율이 높은 선진국이고, (나)는 급속하게 도시화가 진행되고 있는 지역으로 개발 도상국에 해당하며, (다)는 여전히 많은 인구가 촌락에 거주하는 농업 중심의 사회의 도시화 곡선이다.

오답 분석 A는 영국, B는 니제르, C는 중국이다.

17 역도시화 현상

제시된 그림은 도시를 떠나 촌락으로 인구가 이동하는 역도시화 현상으로 대체로 도시화율이 높은 선진국에서 나타난다.

오답 분석 ㄷ, ㄹ은 산업이 발달하지 않은 상태에서 도시로 인구가 집중하여 실업과 도시 기반 시설 부족 문제가 심각한 개발 도상국의 도시 문제이다.

18 도시 문제의 해결

제시된 글에서는 선진국과 개발 도상국의 도시에서 나타나는 불량 주택 지구에 대한 것이다. 열악한 주거 환경을 개선하기 위해서는 신도시를 건설하여 인구를 분산하거나 도시 재개발 사업을 통해 도심 주변의 낡은 주택 지구를 개발하여야 한다.

19 살기 좋은 도시

제시된 도시들은 녹지가 많아 환경이 깨끗하며, 문화 및 의료 시설 등 각종 도시 기반 시설이 잘 갖추어져 살기 좋은 도시로 손꼽히는 곳이다.

20 인도 벵갈루루의 도시 특성

벵갈루루는 인도 남서부의 휴양 도시로, 과거에 일자리 부족과 빈곤 문제가 심각하였다. 그러나 1980년대 중반 인도 정부는 소프트웨어 산업 육성 정책을 시행하여 글로벌 기업을 유치하고 정보 통신 산업 인재 양성을 위해 노력하였다. 그 결과 벵갈루루는 인도는 물론 세계 정보 통신 산업의 중심 도시가 되었다.

21 서술형 **인구 공동화 현상**

도시는 성장 과정에서 접근성과 지가의 차이에 의해 기능에 따라 분화된다. 도심은 도시의 중심으로 접근성과 지가가 가장 높으며, 고층 빌딩이 많고, 업무·상업 기능이 집중되는 지역이다.

채점 기준	배점
제시어를 모두 사용하여 도심의 특징을 정확하게 서술함	100%
제시어를 모두 사용하였지만, 도심의 특징에 대한 설명 일부가 미흡함	70%
제시어 중 일부를 사용하지 않았으며, 한 가지 특징만 서술함	30%

23 서술형 **도시화 단계**

도시화의 과정은 초기 단계 – 가속화 단계 – 종착 단계로 나눌 수 있다. 초기 단계에서는 도시화의 속도가 느리다가 가속화 단계에서는 진행 속도가 빨라져 도시 인구가 급증한다. 종착 단계에서는 도시화의 속도가 느려지고, 역도시화 현상이 나타나기도 한다.

채점 기준	배점
A, B 단계의 명칭과 각각의 단계에서 나타나는 인구 현상을 정확하게 서술함	100%
A, B 단계의 명칭을 제시하였지만, 각각의 단계에서 나타나는 인구 현상 중 일부를 미흡하게 서술함	70%
A, B 단계의 명칭을 제시하지 못하고, 두 가지 단계 중 한 가지 단계에 대한 내용만 서술함	30%

Ⅸ 글로벌 경제 활동과 지역 변화

01 농업의 세계화와 지역의 변화

간단 체크 156~157쪽

❶ 농업의 세계화 ❷ 플랜테이션 ❸ 감소한다. ❹ 쌀

개념 다지기 1단계 157쪽

01 세계화 **02** 플랜테이션 **03** 기업화 **04** 기업농
05 로컬 푸드 운동 **06** 자급률

집중 공략 158쪽

| 농업 생산의 세계화와 기업화의 영향 |

01 자영농이 감소하고 기업농이 증가했다.
02 지역 경제 활성화, 일자리 제공 등
03 팜유 생산을 위한 경작지
04 식량 확보에 어려움이 발생할 수 있다.

01 팜유의 세계적인 수요 증가로 인도네시아는 대규모로 팜유를 생산하고 있다. 이 과정에서 기존 자영농 중심의 소규모 농업에서 기업농 중심의 대규모 농업으로 농업 방식이 변화하였다.

02 인도네시아는 세계 1위의 팜유 생산국으로 팜유 생산이 국가 경제에 중요한 부분을 차지한다. 세계적 농업 기업들이 인도네시아에 투자를 시작하면서 팜유는 인도네시아의 경제 성장을 이끌고 있다.

03 인도네시아는 팜유 생산을 위한 경작지 확보를 위해 열대우림에 불을 질렀고 이 과정에서 다량의 이산화 탄소와 수질 및 토양 오염이 발생하였다.

04 인도네시아 전체 농지의 약 40%가 팜유 생산을 위한 경작지로 이용되고 있다. 팜유의 수출을 통해 벌어들인 수익으로 식량을 구입한다고 생각하면 팜유의 가격이 하락하고 세계 곡물 가격이 상승하는 경우 식량을 확보하는 데 어려움이 발생할 수 있다.

실력 올리기 2단계 159쪽

01 ④ **02** ④ **03** 해설 참조 **04** ④ **05** ① **06** 해설 참조

01 **농업의 세계화**

정보 통신을 활용한 최첨단 농업은 자본과 기술을 투입하여 효율적으로 농업을 경영하기 위한 것으로 농업의 기업화 현상과 관련된다.

고난도 **농업의 세계화와 푸드 마일**

02

[자료 분석]

지도는 세계 농산물의 생산지와 소비지인 영국까지의 푸드 마일을 나타내고 있다. 세계 시장을 대상으로 판매를 목적으로 하는 상업적 농업이 발달하면서 일상생활에서 소비하는 먹거리가 변화하였다. 이처럼 우리가 먹는 음식이 세계 각지에서 재배되어 유통되는 것을 농업의 세계화라고 한다. 따라서 이 자료는 농업의 세계화와 관련된다.

[선택지 분석]

㉠ 교통과 통신의 발달
➡ 교통과 통신의 발달로 농업의 세계화가 진전되었다.

㉡ 다국적 농업 기업의 등장
➡ 다국적 농업 기업은 세계 각지를 무대로 농업의 생산, 유통, 판매를 담당한다.

✕ 기후 변화로 인한 농업 생산력 감소
➡ 농업 생산력이 감소하게 되면 지역의 자급을 위해 농산물이 소비될 것이므로 농산물의 이동이 감소한다.

㉢ 세계 무역 기구(WTO) 출범 및 자유 무역 협정(FTA) 체결
➡ 무역 장벽이 사라지면서 농산물의 수출입이 자유로워진다.

03 서술형 **상업적 농업의 특성**

모범 답안 상업적 농업은 자급적 농업보다 자본과 기술의 투입 비중이 높으며 농업의 경영 규모가 크다.

채점 기준	배점
제시어를 모두 사용하여 상업적 농업의 특성을 정확하게 서술함	100%
모든 제시어를 사용하였지만, 자본과 기술의 투입 비중과 농경의 경영 규모 중 한 가지 내용만 바르게 서술함	70%
제시어를 일부 사용하지 않았으며, 한 가지 특성만 서술함	30%

04 **농업의 세계화와 생산 지역의 변화**

농업의 세계화는 생산 지역 농업의 기업화를 가져오게 되고, 이윤을 극대화하기 위해 특정한 단일 작물을 재배 하는 비중이 높아지게 되므로 재배되는 작물의 다양성은 감소한다.

05 **전통적 농업과 상업적 농업의 특성**

자급적 농업은 가족 노동력을 활용하는 소규모의 농업이며, 상업적 농업은 판매를 목적으로 상품 작물을 재배하는 농업이다. 플랜테이션 농업은 주로 열대 기후 지역의 아시아, 아프리카와 같은 개발 도상국에서 이루어진다.

06 서술형 **농업의 세계화와 생산 지역의 변화**

모범 답안 식량 자급률이 낮아져 안정적인 식량 확보에 어려움을 겪을 것이다.

채점 기준	배점
제시어를 모두 사용하여 필리핀이 겪을 수 있는 문제점을 서술함	100%
제시어를 모두 사용하였으나 식량 자급률과 식량 확보 중 한 가지 내용만 바르게 서술함	70%
제시어를 일부 사용하지 않았으며, 한 가지 문제만 서술함	30%

02 다국적 기업과 생산 지역의 변화

160~161쪽

간단 체크

❶ 다국적 기업 ❷ 공간적 분업 ❸ 산업 공동화 ❹ 북아메리카 자유 무역 협정(NAFTA)

개념 다지기 1단계

161쪽

01 다국적 기업 **02** 공간적 분업 **03** 개발 도상국 **04** 무역 장벽 **05** 일자리 증가 **06** 침체

집중 공략 A

162쪽

| **다국적 기업의 성장 과정과 공간적 분업** |

01 (1) (나) → (라) → (다) → (가) (2) (라) **02** 중국, 멕시코, 브라질 등 **03** 영국, 독일, 미국 등 **04** 무역 장벽을 피하고 판매 시장을 확대하기 위해서

01 다국적 기업의 성장 과정은 국내 대도시에 본사와 공장 설립 → 국내 지방 도시에 영업 지점과 생산 공장 확충 → 해외 대도시에 지사 및 영업 지점 설치 → 해외 지방 도시에 생산 공장 건설 순이다.

02 다국적 기업의 생산 공장은 지가가 낮고 저렴한 노동력이 풍부한 개발 도상국에 주로 위치한다.

03 다국적 기업의 연구소는 기업의 핵심 기술과 디자인 등을 개발하는 기능을 담당하며 고급 기술 인력의 확보가 쉬운 선진국에 주로 위치한다.

04 무역 장벽은 수입되는 제품에 관세를 매기거나 수입되는 양을 제한하는 등의 조치다. 선진국에 공장을 세우면 제품에 대한 관세를 피할 수 있고, 판매량의 제한을 받지 않기 때문에 더 많은 물건을 판매할 수 있다.

집중 공략 B

163쪽

| **다국적 기업의 생산 활동과 영향** |

01 저렴한 노동력을 구하기 위해서 **02** 산업 공동화 **03** 실업률이 증가하고 인구는 감소한다. **04** 베트남 **05** 베트남이 중국에 비해 인건비가 저렴하기 때문이다. **06** 일자리 증가, 관련 산업 발달, 경제 활성화 등

02 공장의 이전에 따른 산업 공동화는 선진국뿐만 아니라 개발 도상국에서도 나타날 수 있는 문제이다.

05 다국적 기업의 생산 공장이 중국에서 베트남으로 이동하고 있다. 중국의 인건비가 상승하여 상대적으로 베트남의 인건비가 저렴하기 때문이다.

실력 올리기 2단계

164~165쪽

01 ③ 02 ② 03 ③ 04 ④ 05 ① 06 해설 참조
07 ④ 08 ⑤ 09 해설 참조 10 ① 11 해설 참조

01 다국적 기업

최근 다국적 기업은 공산품의 생산 및 판매뿐만 아니라 농산물 및 서비스 상품에 이르기까지 그 역할과 범위를 확대하고 있다.

02 다국적 기업의 영향

세계 각지에서 제품을 생산, 판매하는 다국적 기업의 성장으로 제품을 생산하는 지역과 제품이 판매되는 지역의 범위는 확대된다.

오답 분석 ① 교역의 증가로 국가 간 교역을 둘러싼 갈등이 더 빈번해진다.
③ 이익 추구를 위한 기업 간 경쟁이 증가한다.
④ 재화, 서비스, 자본 등의 이동량이 증가한다.
⑤ 한 국가가 다른 국가에 미치는 영향이 커진다.

03 다국적 기업의 성장 과정

국내 기업이 성장하면서 해외로 진출하여 다국적 기업이 되는 과정은 다음과 같다. 먼저 국내 대도시에 본사와 공장을 세운 후, 지방 도시에 생산 공장을 세우며 공간적 분업을 시작한다. 이후 해외에 지사 및 영업 지점을 설치하여 제품을 해외에서 판매하고 마지막으로 생산 공장을 해외에 건설한다.

04 고난도 다국적 기업의 공간적 분업

[자료 분석]

지도는 우리나라에 본사가 위치한 다국적 기업으로 A는 본사, B는 연구소, C는 생산 공장이다. 본사는 기업을 경영하고 관리하는 기능을 담당하며, 연구소는 기업의 핵심 기술과 디자인을 개발한다. 생산 공장은 인건비가 저렴한 개발 도상국에 위치하며 제품을 생산한다.

[선택지 분석]

① A는 핵심 기술과 디자인을 개발한다.
➡ 핵심 기술과 디자인은 연구소에서 개발한다.
② B는 기업의 경영 및 관리 기능을 담당한다.
➡ 기업의 경영 및 관리는 본사에서 담당한다.
③ C는 고급 기술 인력의 확보가 중요하다.
➡ 생산 공장은 저렴한 노동력 확보가 중요하다.
④ A는 C에 비해 기업 경영에 대한 권한이 크다.
⑤ B는 C에 비해 근로자 1인당 평균 임금이 적다.
➡ 연구소 근로자는 전문 기술 인력이므로 생산 공장에 비해 근로자 1인당 평균 임금이 많다.

05 다국적 기업의 입지 조건

다국적 기업의 본사는 정보 수집, 자본 확보가 중요하며 연구소는 우수한 교육 시설, 전문 기술 인력 확보가 중요하다.

06 서술형 다국적 기업 생산 공장의 선진국 입지

모범 답안 무역 장벽을 피하고 새로운 판매 시장 개척을 위하여 생산 공장이 선진국에 위치한다.

채점 기준	배점
모든 제시어를 이용하여 생산 공장이 선진국에 위치한 이유를 정확하게 서술함	100%
모든 제시어를 사용하였지만, 무역 장벽과 판매 시장 중 한 가지 내용을 틀리게 서술함	70%
제시어를 일부 사용하지 않았으며, 한 가지 이유만 서술함	30%

07 다국적 기업의 생산 공장 이전

다국적 기업이 기존의 생산 공장을 폐쇄하고 다른 지역에 생산 공장을 설립하는 경우 다국적 기업이 철수하는 지역은 산업 공동화 현상에 따른 문제점이 나타난다.

08 다국적 기업의 생산 공장 이전과 지역 변화

연구소, 생산 공장, 판매 지사 등은 세계 각지로 새롭게 진출할 수 있으나 본사는 이전되지 않는다.

09 서술형 다국적 기업의 생산 공장 이전과 지역 변화

모범 답안 생산 공장이 유출된 지역은 산업 공동화로 지역 경제가 침체되며, 생산 공장이 유입된 지역은 일자리가 확대되어 지역 경제가 활성화된다.

채점 기준	배점
모든 제시어를 이용하여 생산 공장이 유출된 지역과 유입된 지역의 변화를 잘 서술함	100%
모든 제시어를 사용하였지만, 생산 공장이 유출된 지역과 유입된 지역의 변화를 일부 틀리게 서술함	70%
제시어를 일부 사용하지 않았으며, 한 가지 변화만 서술함	30%

10 고난도 다국적 기업의 생산 공장 이전

[자료 분석]

지도는 미국을 본사로 하는 다국적 기업의 생산 공장 이전 과정을 나타낸 것이다. 생산 공장은 일본 → 우리나라, 타이완 → 중국 → 동남아시아로 이동하고 있는데 이는 생산비 중 인건비를 절약하기 위한 것이다.

[선택지 분석]

① 1960년대에 다국적 기업으로 성장했다.
➡ 1960년대에 일본에 생산 공장이 만들어졌다.
② 생산 공장의 이전은 판매 시장 확보 때문이다.
➡ 생산 공장 이전은 인건비 절감 때문이다.
③ 해외 지사의 수는 아시아보다 아메리카에 많다.
➡ 아메리카의 해외 지사는 지도에서 한 개뿐이다.
④ 현재 일본, 대한민국에는 생산 공장이 위치한다.
➡ 일본, 대한민국의 생산 공장은 이미 이전했다.
⑤ 생산 공장이 입지한 곳은 모두 해외 지사가 있다.
➡ 멕시코, 인도의 경우에는 생산 공장만 존재한다.

11 서술형 다국적 기업의 생산 지역 변화

모범 답안 다국적 기업의 생산 지역이 중국을 떠나 베트남으로 집중하고 있다. 베트남은 중국에 비해 저렴한 노동력이 풍부하기 때문이다.

채점 기준	배점
제시어를 모두 사용하여 다국적 기업의 생산 지역 변화와 그 이유를 정확하게 서술함	100%
제시어를 모두 사용하였지만, 변화와 이유 중 일부를 틀리게 서술함	50%

03 서비스업의 변화와 주민 생활

166~167쪽

✓ 간단 체크

❶ 서비스업 ❷ 경제 수준이 높은 지역 ❸ 유럽 ❹ 지속 가능한 관광

개념 다지기 1단계 167쪽

01 생산자 02 교통 03 탈공업화 04 감소하여 05 직접 06 공정

집중 공략 A 168쪽

| 해외 직접 구매 증가의 영향 |

01 해외 직접 구매 02 국내에서 제품을 구입하는 것보다 저렴하다. 03 배송 기간은 길고, 배송비는 비싸다. 04 화물 운송(택배)업, 구매(배송) 대행업 05 비슷한 상품을 파는 국내 기업, 해외 수입 업체 등 06 역직구

02 해외 직접 구매를 하는 이유로는 세계의 다양한 제품을 구매할 수 있고, 국내에서 구입하는 것보다 저렴하며, 국내에서 구하기 어려운 제품을 구매할 수 있기 때문이다.

03 해외 직접 구매의 단점으로는 배송이 느리고 배송비가 비싸며, 구매 제품에 문제가 생겨도 사후 서비스를 받기 어렵다.

집중 공략 B 163쪽

| 기존 상거래와 전자 상거래 유통 구조 |

01 기존 02 전자 03 기존 04 전자 05 기존 06 전자

02 전자 상거래는 온라인에서 주문과 결제를 할 수 있고 원하는 곳에서 상품을 받을 수 있어 기존 상거래와 달리 시간과 공간에 대한 제약이 적다.

실력 올리기 2단계 170~171쪽

01 ⑤ 02 ① 03 ⑤ 04 ③ 05 ① 06 ④ 07 해설 참조 08 ⑤ 09 ④ 10 ③ 11 ② 12 해설 참조

01 서비스업의 특징

경제 활동이 세계화되면서 서비스업의 활동 범위도 국경을 넘어 세계 여러 지역으로 확대되고 있다.

02 생산자 서비스업의 종류

기업 활동에 도움을 주는 서비스업을 생산자 서비스업이라고 하며 금융, 법률, 광고, 시장 조사 등이 생산자 서비스업에 해당한다.

오답 분석 ㄷ, ㄹ. 음식업, 소매업은 소비자 서비스업이다.

03 서비스업의 세계화

교통과 통신의 발달로 경제 활동의 시간적·공간적 제약이 감소하여 서비스 산업이 세계 여러 지역으로 확대되었다.

04 서비스업의 세계화

서비스업의 세계화를 파악하기 위한 자료로 적절한 것은 국가의 경계를 넘어 서비스 활동이 이루어진 사례가 적절하다.

05 콜센터의 해외 이전

콜센터는 기업의 활동을 도와주는 생산자 서비스로 저렴한 인건비와 영어 회화 능력을 갖춘 곳이 사업 지역으로 선호된다.

06 최근 서비스업의 변화

서비스업은 제조업과 달리 소비자에 따라 원하는 서비스의 형태가 다르므로 자동화가 어렵다. 따라서 수요가 많아질수록 서비스업은 복잡하고 다양해진다.

07 서술형 서비스업 세계화의 요인

모범 답안 교통·통신의 발달로 국가 간 교류가 활성화되었고, 탈공업화로 서비스업 종사자 비중이 증가하였으며, 소득 수준 향상으로 서비스 수요가 증가하였다.

채점 기준	배점
모든 제시어를 이용하여 서비스업의 세계화에 영향을 준 요인을 정확하게 서술함	100%
모든 제시어를 사용하였지만, 서비스업의 세계화에 영향을 준 요인을 일부 틀리게 서술함	70%
제시어를 일부 사용하지 않았으며, 한 가지 요인만 서술함	30%

08 전자 상거래의 특징

(가)는 기존 상거래, (나)는 전자 상거래이다. 기존 상거래는 소매상에 진열된 상품만을 구매할 수 있으나 전자 상거래는 전세계의 다양한 상품을 비교·선택하여 구매할 수 있다.

09 고난도 해외 직접 구매

[자료 분석]

우리나라의 해외 직접 구매 건수와 금액이 지속적으로 증가하고 있다. 이와 같은 변화는 관련 산업에 큰 영향을 미친다.

[선택지 분석]

① 택배 산업이 지속적으로 성장했을 것이다.
➡ 해외에서 도달한 상품을 주소지까지 배송해야 하기 때문에 택배 산업의 동반 성장이 예상된다.

② 해외 배송 업체의 매출이 증가했을 것이다.
➡ 해외에서 상품을 수령하여 국내로 배송하는 업체를 말하며 해외 직접 구매 증가로 매출이 증가했을 것이다.

③ 구매자들의 상품 선택의 폭이 넓어졌을 것이다.
➡ 세계의 다양한 온라인 쇼핑몰에 접속하여 상품을 구매할 수 있으므로 상품 선택의 폭이 넓어질 것이다.

④ 국내 수입 업체의 가격 경쟁력이 강화되었을 것이다.
➡ 국내 수입 업체들은 국내에서의 유통망과 사후 관리 등에 필요한 비용이 소모되므로 해외 직접 구매 제품에 비하여 가격 경쟁력이 낮다.

⑤ 온라인 결제를 통한 해외 송금액이 증가했을 것이다.
➡ 해외 직접 구매의 상품 대금은 온라인 결제의 형태로 이루어지며 해외 송금액이 증가할 것이다.

10 **관광의 세계화와 지역 변화**
관광 산업 발달은 주민 소득이 증가하고 숙박, 음식점 등 관련 산업이 발달하는 등의 긍정적 측면이 있으나 쇼핑 공간 및 각종 편의 시설 건설, 도로 확장 등으로 자연환경이 파괴되고 지나친 상업화로 지역 고유문화가 상실되는 등 문제점도 발생한다.

11 **관광의 세계화**
세계의 관광객 수는 꾸준히 증가하고 있고, 유럽 중심의 관광에서 점차적으로 관광 지역이 다변화되고 있다.
오답 분석 ② 유럽을 방문하는 관광객 수는 증가하였으나 그 비율은 감소했다.

12 서술형 **해외 직접 구매**
모범 답안 해외 직접 구매가 대중화 된 원인으로는 교통·통신 발달로 온라인 구매가 편리해졌기 때문이다. 그 결과 해외 배송업체의 매출은 증가하였으나 수입 업체의 매출은 감소하였다.

채점 기준	배점
모든 제시어를 이용하여 해외 직접 구매의 대중화 원인과 그 영향을 정확하게 서술함	100%
모든 제시어를 사용하였지만, 해외 직접 구매의 대중화 원인과 영향을 일부 틀리게 서술함	70%
제시어를 일부 사용하지 않았으며, 원인과 영향 중 한 가지 서술함	30%

172~175쪽

대단원 완성하기 3단계

01 ② **02** ③ **03** ④ **04** ④ **05** ④ **06** ④ **07** ①
08 ⑤ **09** ② **10** ② **11** ⑤ **12** ② **13** ⑤ **14** ③
15 ② **16** ④

서술형

17 (1) [모범 답안] 일자리 증가, 지역 경제 활성화 등 (2) [모범 답안] 근로자의 임금이 낮고, 최대 소비 시장인 미국과 인접하였으며, 북아메리카 자유 무역 협정(NAFTA)으로 관세를 면제 받을 수 있었기 때문이다.

18 (1) 해외 직접 구매 (2) 인터넷과 같은 정보 통신의 발달로 전자 상거래가 활성화되었고 국제 물류 서비스가 발달하여 상품 배송이 편리해졌기 때문이다.

01 **농업의 세계화**
농산물의 생산지에서 소비지까지 이동한 거리를 푸드 마일이라고 한다. 세계 여러 지역에서 농산물의 생산 및 판매가 이루어지고 있으므로 농업 생산의 세계화가 이루어졌음을 알 수 있다.

02 **농업의 세계화**
푸드 마일은 식료품의 무게에 이동 거리를 곱해서 계산한다. 식료품 수입 비중이 높은 나라일수록 푸드 마일이 높다. 영국은 우리나라보다 푸드 마일이 낮지만 식료품 소비량과는 무관하다.

03 **농업의 세계화와 지역 변화**
농업의 세계화로 우리 식탁에서 수입 농산물의 비중이 늘어나고 있다.
오답 분석 ④ 농산물 가격 안정은 농업 생산의 세계화로 인한 긍정적 측면에 해당한다.

04 **농업의 세계화와 지역 변화**
그래프는 필리핀이 단일 상품 작물 의존도가 높음을 의미하며, 향후 식량의 안정적 확보에 어려움이 예상된다.

05 **농업의 세계화와 지역 변화**
플랜테이션 농장 및 팜유를 가공·생산하는 농업 기업의 매출은 증가하고, 열대 우림 파괴로 인해 원주민의 거주지가 줄어들며 오랑우탄의 서식지도 파괴되어 개체 수가 감소한다.

06 **다국적 기업의 형성 과정**
(나)는 해외로 진출하기 이전 단계에 해당한다. (가)는 해외에 영업 대리점이 진출한 단계이며, (다)는 생산 공장이 해외로 진출하여 다국적 기업으로 통합된 조직이 형성된 단계이다.

07 **다국적 기업의 공간적 분업**
㉠은 본사, ㉡은 연구소, ㉢은 생산 공장연구소이다. 지도에서 본사는 한 개로 우리나라에 위치해 있는 A, 연구소는 B, 생산 공장은 동남아시아, 멕시코 등의 개발 도상국에 위치해 있는 C이다.

08 **다국적 기업의 공간적 분업**
A는 본사, B는 생산 공장, C는 연구소이다.
오답 분석 ⑤ 생산 공장이 선진국에 위치하는 경우는 무역 장벽을 피하고 시장을 개척하기 위해서이다.

09 **다국적 기업의 생산 공장 이전과 지역 변화**
유출 지역은 생산 공장 해외 이전으로 실업률이 증가하고, 산업 공동화 현상이 발생하여 경기가 침체한다. 반면 유입 지역은 다국적 기업에 대한 경제 의존도가 심화되어 향후 다국적 기업이 생산 공장을 폐쇄하는 경우 지역 경제가 침체될 수 있다.
오답 분석 ㉠ 실업률이 높아져 경기가 침체된다.
㉢ 다국적 기업에 대한 경제 의존도가 증가한다.

10 **다국적 기업의 생산 공장 이전과 지역 변화**
생산 공장의 폐쇄로 일자리의 감소 및 지역 경제 침체가 나타난다. ㄷ은 생산 공장 철수의 원인에 해당한다.

11 **다국적 기업의 부정적 영향**
⑤의 내용은 다국적 기업이 산업화나 경제 발전에 필요한 자본이나 기술을 제공하는 긍정적 역할에 해당한다.
오답 분석 ①~④는 다국적 기업 유입의 부정적 영향에 해당한다.

12 **기존 상거래와 전자 상거래의 비교**
기존 상거래 방식은 매장에 진열된 상품에 한해 판매가 이루어지지만 전자 상거래는 온라인 공간에 소개된 세계의 다양한 상품을 구매할 수 있다.
오답 분석 ① 상품의 유통 단계 수가 적다.
③ 온라인 결제는 주로 신용 카드를 사용한다.
④ 직원의 근무 시간에 제약 받지 않는다.
⑤ 판매자가 없어도 온라인상에서 구매가 가능하다.

13 **전자 상거래 활성화의 배경**
소매상이 온라인 쇼핑몰에 대해서 가격 경쟁력을 확보할 수 있다면 직접 제품을 살펴보고 구매하는 소비자가 증가할 것이다. 따라서 온라인 쇼핑몰을 이용하는 소비자는 오히려 감소하게 된다.

14 **서비스업의 세계화**
원격에서 이루어지는 교육 서비스가 가능하게 된 것은 정보 통신 기술의 발달 때문이다.

15 **관광의 세계화와 지역 변화**
해외 관광객의 유입은 지역의 고용을 창출하고 주민의 소득을 증가시키나, 상업화를 위해 지역의 고유문화가 상실되기도 한다.

16 **관광의 세계화와 지역 변화**
자료는 해외 온라인 이용액 비중이 높아지고 있으며 그 중에서도 온라인 쇼핑 이용 비중이 높은 것으로 보아 해외 직접 구매의 증가와 관련이 있다. 해외 직접 구매의 경우 제품이 해외에서 배송되므로 국내에서 구매한 제품에 비해 배송 기간이 길다.

17 서술형 **다국적 기업의 진출에 따른 지역 변화**
멕시코는 지리적으로 미국과 인접해 있고, 값싼 노동력이 풍부하며, 미국·캐나다 등과 자유 무역 협정을 맺는 등 다국적 기업이 진출하기에 유리한 조건을 갖추고 있었다.

채점 기준	배점
제시어를 모두 사용하여 멕시코에서 자동차 산업이 발달한 이유를 정확하게 서술함	100%
제시어를 모두 사용하였지만, 멕시코 자동차 산업 발달의 이유 중 일부 내용을 틀리게 서술함	50%

18 서술형 **서비스업의 세계화**
해외 직접 구매는 전 세계의 온라인 쇼핑몰에 직접 접속하여 상품을 구매하는 것으로, 정보 통신 기술과 국제 물류 서비스의 발달이 가장 큰 영향을 끼쳤다.

채점 기준	배점
제시어를 모두 사용하여 대중화의 원인을 정확하게 서술함	100%
제시어를 모두 사용하였지만, 대중화의 원인 중 일부를 틀리게 서술함	50%

X 환경 문제와 지속 가능한 환경

01 전 지구적 차원의 기후 변화

179쪽

✔ 간단 체크
❶ 지구 온난화 ❷ 이산화 탄소

개념 다지기 1단계 179쪽
01 높아지는 **02** 인위적 **03** 상승 **04** 전 지구적 **05** 온실가스 **06** 파리

집중 공략 A 180쪽
| **기후 변화의 영향** |
01 지구 온난화 **02** 화석 연료의 사용, 삼림 벌채 등 **03** 해수면 상승 **04** 산호초의 백화 현상, 태풍의 대형화와 발생 빈도 증가 등 **05** 식물 개화 시기의 변화, 동식물의 서식지 변화 등 **06** 북극해

02 기후 변화의 인위적 요인에는 화석 연료의 사용 증가, 산업화와 도시화로 인한 삼림 벌채 증가, 가축 사육 수의 증가, 농경지의 증가 등을 들 수 있다.

04 해수 온도가 상승하게 되면 조류가 감소하게 되고 조류의 공생 관계에 있는 산호초가 죽어서 하얗게 변하는 백화 현상이 나타나게 된다. 또한 태풍에 공급되는 에너지가 커지면서 그 위력이 강해지고 발생 빈도도 증가하게 된다.

집중 공략 B 181쪽
| **기후 변화에 대응하기 위한 국제 사회의 노력** |
01 교토 의정서 **02** 파리 협정 **03** 온실가스 배출량 감축 **04** 이산화 탄소

03 기후 변화를 해결하기 위한 노력은 근본적으로 온실가스 배출량 감축에 초점이 맞춰져 있다.

실력 올리기 2단계 182~183쪽
01 ④ **02** ④ **03** ④ **04** ② **05** ⑤ **06** ④ **07** ②
08 해설 참조 **09** ④ **10** ③ **11** 해설 참조

01 **기후 변화**
기후는 지구의 역사가 시작된 이래 끊임없이 변화하고 있지만, 최근 인위적 요인에 의한 기후 변화가 심각해지고 있다.

02 온실 효과

온실 효과는 지구의 기온을 유지하기 위해 반드시 필요한 현상이다. (가)는 바로 이러한 온실 효과의 정상적인 모습을 보여 준다. 하지만 이산화 탄소, 메탄 등 온실가스의 급격한 증가로 인해 과도한 온실 효과가 나타나면서 지구 온난화 문제가 발생하게 된 것이다.

03 지구 온난화

(나)와 같이 과도한 온실 효과가 지속되면서 지구의 기온이 급격히 상승하여 각종 환경 문제가 발생하는 것을 지구 온난화라고 한다.

04 기후 변화의 인위적 요인

ㄱ. 삼림이 파괴되면 이산화 탄소를 산소로 전환하는 중요한 매개체가 사라지게 된다. 그리고 삼림이 파괴된 후 형성된 건물, 공장, 도로, 농경지 등은 모두 온실가스를 더 많이 생성하게 된다. ㄷ. 화석 연료는 석유, 석탄, 천연가스 등을 말한다. 이것은 연소 과정에서 이산화 탄소, 메탄 등의 온실가스를 발생시킨다.

오답 분석 ㄴ, ㄹ은 모두 기후 변화를 일으키는 자연적 요인에 해당한다.

05 고난도 기후 변화 그래프 읽기

[자료 분석]

이 자료는 온실가스 증가가 현재 지구의 기온 상승과 관련 있다는 증거로 자주 제시되는 그래프이다. 인간의 활동으로 이산화 탄소의 배출이 증가하면서 본격적으로 지구 온난화가 시작된 것으로 보고 있다.

[선택지 분석]

① 메탄, 아산화 질소 등도 이와 유사한 변화를 만들어낼 수 있다.
➡ 온실 효과를 오히려 더 많이 일으킬 수 있지만 그 양 자체가 이산화 탄소에 비해 매우 적어서 부각되지 않는다. 그러나 온실가스에 해당하는 것은 분명하다.

② 석유, 석탄 등의 사용 증가는 이 현상의 원인으로 지목되고 있다.
➡ 화석 연료가 연소될 때 온실가스가 많이 발생하기 때문이다.

③ 도시화와 산업화가 진행될수록 이 현상은 더욱 심화될 것으로 보인다.
➡ 도시화와 산업화 과정에서 삼림이 파괴되어 이산화 탄소를 제거할 수 있는 매개체가 사라지는 것은 물론, 그곳에 생기는 공장, 건물, 도로 등은 온실가스를 더 발생시켜서 온실 효과를 심화시킬 수 있다.

④ 최근 세계적으로 여름철 고온 현상이 심해지는 것도 이 현상의 영향을 받은 것이다.
➡ 지구 온난화에 의한 이상 기후 현상 때문이다. 앞으로 이런 고온 현상이 더욱 심해질 것으로 예상되고 있다.

✓⑤ 이산화 탄소는 온실가스 중에서 배출량이 가장 적지만, 이 현상에 가장 큰 영향을 미치고 있다.
➡ 이산화 탄소는 온실가스 중 가장 큰 비중을 차지할 정도로 배출량이 많고, 인류에 의한 배출량의 급격한 증가가 명확히 드러난다.

06 기후 변화의 영향

지구의 기온 상승으로 눈이 사라지면서 인공 눈으로만 겨우 운영하거나 폐장하는 스키장들도 생기고 있다. 이상 기후 현상으로 폭설이 내리기도 하지만 이것은 스키장을 운영할 정도로 꾸준하게 나타나는 것은 아니다.

07 북극 항로

북극해는 빙하가 많아 쇄빙선이 있어야 지나갈 수 있는 바다였다. 하지만 지구 온난화로 해수면의 온도가 상승하면서 빙하가 급격히 감소해 이동이 훨씬 유리해졌다. 이로 인해 유라시아 대륙의 동쪽 끝에 있는 우리나라가 유라시아 대륙의 서쪽에 있는 유럽 지역으로 이동할 수 있는 항로가 하나 더 확보될 수 있게 된 것이다. 또한 이 북극 항로는 인도양을 이용하던 기존 항로보다 무려 10일을 아낄 수 있어 경제적으로 매우 유용할 것으로 예상되고 있다.

08 서술형 기후 변화가 지역에 미치는 영향

모범 답안 지구 온난화로 빙하가 녹으면서 해수면이 상승하여 국토 전체가 침수 위기에 놓였기 때문이다.

채점 기준	배점
제시어를 모두 사용하여 투발루가 침수할 위기에 처한 이유를 정확하게 서술함	100%
투발루가 침수할 위기에 처한 이유를 적절하게 서술하였으나, 모든 제시어를 사용하지 않음	70%
투발루가 침수되었다는 내용만 서술함	30%

09 기후 변화에 대응하기 위한 노력

기후 변화에 대응하기 위한 개인 차원의 노력에는 친환경 제품 사용, 대중교통 이용, 걷기 또는 자전거 타기, 자원 재활용, 에너지 절약 운동 참여 등이 있다.

오답 분석 ㄱ은 국제 사회 차원, ㄷ은 국가적 차원의 노력에 해당한다.

10 기후 변화에 대응하는 국제 사회의 노력

교토 의정서는 주로 선진국에게 감축 의무를 부여한 반면, 파리 협정은 개발 도상국까지 포함하고 있다.

11 서술형 기후 변화에 대응하기 위한 노력

모범 답안 온실가스 배출량과 상관없이 전 세계 모든 지역에서 지구 온난화의 피해가 발생하기 때문이다.

채점 기준	배점
제시어를 모두 사용하여 전 지구적 대응의 필요성을 정확하게 서술함	100%
전 지구적 대응의 필요성을 적절하게 서술하였으나, 모든 제시어를 사용하지 않음	70%
지구 온난화의 피해가 발생하기 때문이라는 내용만 서술함	30%

02 환경 문제 유발 산업의 이전

✓ 간단 체크 185쪽

❶ 전자 쓰레기 ❷ 개발 도상국

개념 다지기 1단계

185쪽

01 개발 도상국 02 케냐 03 빨라지면서 04 선진국
05 환경 문제 06 전자 쓰레기

실력 올리기 2단계

186~187쪽

01 ⑤ 02 ⑤ 03 ④ 04 ④ 05 ① 06 ④
07 해설 참조 08 ③ 09 ③ 10 ① 11 ⑤

01 환경 문제가 심화되고 있는 이유

산업화를 일찍 겪은 선진국들도 과거에는 환경 보호보다는 경제 성장에 더 집중하였다. 그로 인해 산성비, 국제 하천 오염 등의 환경 문제를 겪게 되면서 환경 규제를 서서히 강화시키게 된 것이다. 현재는 그런 규제를 강화한 결과 유럽의 환경 상태가 매우 좋아진 것은 사실이지만, 이로 인해 조금이라도 유해 물질이 발생되는 산업은 모두 개발 도상국이 떠맡게 만드는 부작용도 발생하게 되었다. 생산 과정에서의 유해성은 개발 도상국으로 모두 보내고 유럽은 그 결과물인 상품만을 취하는 모습이 모순적으로 보인다는 지적도 있다.

02 세계화가 환경 문제 유발 산업의 이동에 미친 영향

교통과 통신의 발달, WTO로 인한 각국의 무역 규제 완화 등으로 다국적 기업들의 판매망과 생산 시설이 자유롭게 세계 이곳저곳에 들어설 수 있게 되었다. 특히 공장은 임금이 저렴하고 환경 관련 부담이 적은 지역에 입지시켜 전체적인 생산비를 절감시키고 있다. 이로 인해 개발 도상국에는 저임금, 노동자의 인권 탄압, 환경 오염 등의 문제가 발생하고 있다.

오답 분석 ① 선진국은 높아졌지만 개발 도상국에서는 아직도 환경에 대한 인식이 낮은 경우가 많다. 선진국은 바로 이점을 이용하고 있는 것이다.

②, ③ 개발 도상국에 해당하는 설명으로, 해당 문제와 직접적인 관련성이 적다.

④ 교통과 통신의 발달로 인해 가능해졌다.

03 전자 쓰레기의 국제적 이동

선진국에서 전자 쓰레기를 처리하려면 여러 환경 규제의 제약을 받기 때문에 절차가 복잡해지고 비용이 올라가게 된다. 이점 때문에 선진국에서는 전자 쓰레기를 개발 도상국으로 보내 버리려 한다. 하지만 유해 폐기물의 국제 거래에 대한 제약이 있기 때문에 이를 피하기 위해 '기부'의 형태로 보내고 있는 것이다.

04 석면 산업의 국제적 이동

석면은 그 유해성이 밝혀지면서 선진국에서 대부분의 공장들이 사라지게 되었다. 이 공장들은 환경에 대한 인식이 낮아 관련 규제가 거의 없는 지역으로 이동하였다.

오답 분석 ① 주로 환경 규제가 느슨하고 경제 발전이 시급한 개발 도상국으로 이동하고 있다.

② 석면은 단기적 효율성만으로 본다면 오히려 가격 대비 성능이 좋다고 볼 수 있다. 문제는 이것이 유발하는 환경 피해, 인체에 미치는 피해 등이 장기적으로 더 큰 손실을 유발할 수 있다는 점 때문에 선진국에서 폐기하기 시작한 것이다.

③ 개발 도상국에서 석면 사용을 금지하지 않기 때문에 석면 공장이 개발 도상국으로 이동하고 있다.

⑤ 환경 문제에 대한 규제가 약한 곳으로 이동하고 있다.

05 고난도 화훼 산업의 국제적 이동

[자료 분석]

네덜란드를 비롯한 유럽 지역에서는 탄소 배출 감소와 환경 문제 해결에 대한 사회적 요구가 커졌고 환경 규제가 상당히 강화되었다. 이로 인해 네덜란드의 대표적 산업이라고 할 수 있는 화훼 산업이 생산비 상승과 더불어 환경적 부담까지 더해지게 되어 환경 규제가 약하고 임금이 저렴하며 기후가 좋아 시설 비용이 많이 감소하게 되는 케냐로 이동하게 되었다.

[선택지 분석]

① 환경 문제의 공간적 불평등이 점차 약화되고 있다.
➡ 환경 문제를 유럽 지역이 아프리카로 떠넘긴 모양새를 보이고 있다. 유럽 전체의 환경 규제 강화와 인건비 상승이 아프리카를 새로운 재배지로 선정하게 만들었다. 케냐의 장미 재배 증가는 케냐에 경제적 혜택을 주고 있지만 이를 위해 호수의 물을 마구 끌어다 쓰면서 물 부족과 수질 오염 문제가 생기게 되었다.

② 케냐는 이로 인해 물 부족 문제를 겪고 있을 것이다.
➡ 인근 호수의 물을 장미 재배에 집중시키면서 물 부족은 물론, 농약과 비료 등으로 인해 물 오염까지 발생하면서 이곳의 생태계가 파괴되고 있으며, 이곳에서 어업에 종사하는 사람들에게도 피해를 주고 있다.

③ 환경 문제에 대한 인식 차이가 이런 변화에 영향을 주었다.
➡ 유럽은 환경 문제의 심각성을 깨닫고 환경 규제를 강화하면서 탄소 배출과 수질 및 토양 오염의 우려가 큰 화훼 산업이 케냐로 이동하게 된 것이다.

④ 생산비를 절감하기 위한 화훼 산업의 이동이 잘 나타나 있다.
➡ 인건비, 시설비 등을 줄일 수 있게 되어 아프리카 지역으로 이동하게 된 것이다.

⑤ 앞으로 케냐에서는 경제와 환경을 두고 많은 갈등이 생길 것이다.
➡ 케냐의 경제 성장을 위해 화훼 산업을 적극 육성하고 있지만 결국 환경 문제가 누적되면서 주민들의 생존에 큰 위협을 주게 되면서 이로 인한 갈등이 갈수록 심화될 것이다.

06 전자 쓰레기의 증가

스마트폰의 교체 주기가 빨라지면서 많은 양의 스마트폰들이 전자 쓰레기가 되는 경우가 증가하고 있다. 이것은 기술의 발달에 따라 더 뛰어난 신제품이 빨리 나오게 되기 때문이다. 환경 규제가 강한 선진국에서는 결국 이런 전자 쓰레기를 규제가 약한 개발 도상국으로 이동하게 하여 개발 도상국의 환경 문제를 악화시키게 된다.

07 서술형 **전자 쓰레기의 이동이 지역에 미치는 영향**

모범 답안 전자 쓰레기를 수입하는 개발 도상국은 이를 처리하는 과정에서 일자리가 증가하고 경제 성장이 이루어질 수 있다. 하지만 이로 인해 환경 오염이 발생하고 주민들의 건강이 악화될 수 있다.

채점 기준	배점
제시어를 모두 사용하여 전자 쓰레기 유입으로 인한 긍정적 · 부정적 변화를 정확하게 서술함	100%
전자 쓰레기 유입으로 인한 긍정적 · 부정적 변화를 적절하게 서술하였으나, 모든 제시어를 사용하지 않음	70%
전자 쓰레기 유입으로 인한 긍정적 · 부정적 변화 중 한 가지만 서술함	30%

08 **환경 문제 유발 산업의 국제적 이동**

유해 물질이 발생하는 산업임에도 불구하고 지역에서 경제적 이득만을 고려하여 해당 공장을 짓도록 했고, 해당 기업도 경제적 이득을 늘리기 위해 작업 환경의 안전성을 신경 쓰지 않아 발생하게 된 안타까운 사건이다.

오답 분석 ① 이와 유사한 사건은 주로 방글라데시, 인도, 에티오피아 등 아시아, 아프리카의 개발 도상국 또는 저개발국에서 발생한다.

② 이 사건에 대해 선진국에게 가장 큰 책임이 있다. 이는 단지 생산자들뿐만 아니라 소비자들에게도 해당한다.

④ 환경 규제가 약한 지역에서 발생할 수 있는 사고이다.

⑤ 이 분석에 따르면 인구 증가가 이루어진 곳은 모두 환경 문제 유발 산업을 받아들여야 하지만 반드시 그런 것은 아니다.

09 **환경 문제 유발 산업의 이동**

일찍 산업화를 겪은 선진국들은 환경 문제 유발 산업에 부과하는 규제가 강화되면서 관련 비용이 상승하여 이러한 산업을 개발 도상국으로 이전하고 있다.

10 **유해 물질의 이동을 막으려는 국제 사회의 노력**

바젤 협약은 유해 폐기물의 부적절한 국제 이동을 막기 위한 국제 협약이다.

11 **기후 변화에 대응하기 위한 국제 사회의 협약**

환경 문제는 전 지구적 차원에서 발생하는 경우가 많고, 지구상의 대부분 지역에 동시에 영향을 미칠 수 있기 때문에 이를 해결하기 위해 국제 사회의 광범위한 협력과 공동 노력이 필요하다.

오답 분석 ① 환경 문제는 전 지구적인 범위에서 일어나는 경우가 많은데, 특히 기후 변화로 인한 지구 온난화는 전 세계에 많은 문제를 일으키고 있다.

② 환경은 자정 능력을 갖추고 있는 것은 사실이나, 환경 관련 협약을 맺는 것과는 관련이 없다.

③ 환경 문제는 단기간에 회복되기 어려운 문제이다.

④ 환경 문제는 해당 국가뿐만 아니라 주변국과 멀리 떨어진 국가에도 영향을 미칠 수 있다.

03 생활 속의 환경 이슈

189쪽

간단 체크

❶ 푸드 마일리지 ❷ 로컬 푸드 운동

개념 다지기 1단계

189쪽

01 다르며 **02** 증가 **03** 인위적 **04** 유전자 재조합 식품(GMO) **05** 푸드 마일리지 **06** 로컬 푸드

실력 올리기 2단계

190~191쪽

01 ③ **02** ⑤ **03** ③ **04** ② **05** ⑤ **06** ⑤
07 해설 참조 **08** ④ **09** ⑤ **10** ③ **11** 해설 참조

01 **다양한 환경 문제**

ㄱ. 인구 증가는 자원의 소비 증가와 폐기물 증가로 이어지게 되었다. ㄴ. 일회용품의 사용으로 쓰레기 배출량이 증가하게 되었다. ㄷ. 산업화로 인해 자원 소비가 증가하고 오염 물질 배출 또한 증가하였다. 도시화로 인해 이런 오염이 집중되고 확대되어 환경 오염이 더 심화되었다.

오답 분석 ㄹ. 쓰레기 분리배출은 이런 환경 문제를 해결하기 위한 노력 중 하나이다.

02 **환경 이슈**

환경 이슈는 환경 문제 중 원인과 해결 방안에 대해 서로 다른 의견이 제시되는 것을 말한다. 환경 이슈는 시대별로 다르고, 규모면에서도 지역적인 것에서 세계적인 것으로 다양하게 나타난다.

오답 분석 ① 환경 문제 중 의견 일치가 어렵고 이로 인해 각종 논쟁과 갈등이 발생하는 것들을 말한다.

② 원인에 대한 의견이 서로 다르기 때문에 갈등이 발생한 것이고 이에 대해 서로 대안을 모색하는 과정이 필요하다.

③ 환경 문제에 대한 해결책이 서로 다르기 때문에 발생한 문제이다.

④ 환경 이슈는 지역적인 것에서 세계적인 것까지 다양한 규모로 나타나게 된다.

03 **쓰레기 문제**

쓰레기 문제는 한 나라 안에서만 문제가 되는 경우도 있지만, 쓰레기로 인한 바다의 오염이 여러 나라에 심각한 피해를 줄 수 있으므로, 제도 개선과 법률 개정을 통해서 해결할 수 없는 것도 있다.

04 고난도 **미세 먼지**

[자료 분석]

지름이 10μm 보다 작은 먼지를 미세 먼지라고 한다. 미세 먼지는 공장이나 건설 현장 등에서 고체 상태로 배출되기도 하고(1차적 발생), 가스 상태로 배출된 물질과 화학 반응을 일으켜 생성되기도 한다(2차적 발생).

[선택지 분석]

① 화력 발전소의 영향을 분석해 볼 필요가 있다.

➡ 화력 발전소에서 발생하는 미세 먼지의 양이 상당한 것으로 알려져 있다. 그래서 화력 발전소를 줄이자는 주장도 나타나게 되었다.

✓ 주로 자연적 요인의 영향이 크다는 것을 알 수 있다.

➡ 자연적 요인에 의해 발생할 수도 있지만 최근 문제가 되는 것은 공장, 화력 발전소, 교통량 증가 등과 같은 인위적 요인에 의해 주로 발생하며 많은 오염 물질을 포함하고 있다는 점이다.

③ 여름철에만 비가 많이 오는 것도 영향을 주었을 것이다.

➡ 비로 인해 미세 먼지 농도가 낮아질 수 있다. 실제로 미세 먼지 문제가 커지는 시기도 비가 적은 겨울~봄에 집중되어 있다.

④ 도시의 심각한 교통 체증과 경유 차 운행 비율을 따져 본다.

➡ 우리나라에서 미세 먼지를 발생시키는 원인 중 자동차를 무시할 수 없다. 특히 경유는 미세 먼지 발생량이 휘발유나 가스에 비해 훨씬 많은 것으로 나타나면서 사용을 줄이자는 사회적 요구가 높아졌다.

⑤ 중국 공장에서 발생한 미세 먼지를 원인으로 생각해 볼 수 있다.

➡ 편서풍의 영향으로 중국에서 발생한 황사의 피해를 오랫동안 겪어 왔기 때문에 경험적으로 미세 먼지의 출처로 중국을 지목할 수 있고, 실제로 그 영향이 적지 않은 것으로 보고 있다.

05 **미세 먼지를 줄이기 위한 노력**

경유 차에서 미세 먼지가 많이 발생하는 것으로 알려지면서 경유 차의 이용을 줄이자는 주장이 이어지고 있다.

06 **로컬 푸드 운동**

ㄷ. 이동 시간을 줄이면 이동 수단에 의한 이산화 탄소 배출을 줄일 수 있다. ㄹ. 운송 과정에서 이용되는 이동 수단의 화석 연료의 사용을 줄일 수 있다.

오답 분석 ㄱ. 로컬 푸드 운동은 푸드 마일리지가 낮은 음식을 먹자는 운동이기 때문에 운송 과정이 줄어들어 택배 산업의 발전을 저해할 수 있다.

ㄴ. 로컬 푸드 운동은 지역의 음식을 주로 먹자는 것이므로 다양한 음식 문화가 발전하는 데 영향을 주지는 못할 것으로 예상된다.

07 서술형 **환경 이슈가 생기는 이유**

모범 답안 환경 문제에 대해 개인이나 단체들의 이해관계와 가치관이 서로 다르기 때문이다.

채점 기준	배점
제시어를 모두 사용하여 갈등이 발생하는 이유를 정확하게 서술함	100%
갈등이 발생하는 이유를 적절하게 서술하였으나, 모든 제시어를 사용하지 않음	70%
환경 문제에 대한 생각이 다르기 때문이라는 내용만 서술함	30%

08 **환경 이슈를 대하는 태도**

현지 주민들의 생활을 무시하면서 환경 보호만을 내세우는 것은 갈등을 심화시킬 수 있다. 서로가 합의에 이를 수 있도록 실현 가능한 대안을 제시하고 의견을 나누어야 한다.

09 **유전자 재조합 식품(GMO)**

안전성에 대한 검증은 아직 완벽하게 이루어지지 않았다.

10 **유전자 재조합 식품(GMO)에 대한 논쟁**

유전자 재조합 식품(GMO)은 생산량 증가, 영양소 증가 등으로 통해 식량 문제 해결에 큰 도움이 될 수 있다. 하지만 아직까지 안전성이 검증되지 못했고, 기존의 생태계를 교란시킬 수 있으며, GMO 기술을 가진 일부 다국적 기업들에 의해 여러 지역들의 식량 문제가 좌지우지될 수 있다는 우려도 있다.

오답 분석 ㄷ. GMO 작물은 주로 국가 간 농산물의 원거리 이동으로 소비자에게 전달되기 때문에 농산물의 이동 거리가 늘어나게 된다. 이 과정에서 배출하는 온실가스는 지구 온난화 문제를 악화시킬 수 있다.

11 서술형 **쓰레기 문제 해결 방안에 대한 논쟁**

모범 답안 인권 침해와 개인 정보 유출 등의 문제가 발생할 수 있다.

채점 기준	배점
제시어를 모두 사용하여 제도에 대한 반대 입장을 정확하게 서술함	100%
제도에 대한 반대 입장을 적절하게 서술하였으나, 모든 제시어를 사용하지 않음	50%

192~195쪽

대단원 완성하기 3단계

01 ② 02 ② 03 ① 04 ⑤ 05 ② 06 ① 07 ③
08 ⑤ 09 ⑤ 10 ④ 11 ④ 12 ② 13 ② 14 ⑤
15 ⑤ 16 ④ 17 ① 18 ② 19 ④ 20 ⑤ 21 ⑤
22 ③

서술형

23 (1) ㉠: 교토 의정서, ㉡: 파리 협정 (2) [모범 답안] ㉠은 주로 선진국에게 온실가스 감축 의무를 부과한 반면, ㉡은 개발 도상국의 의무까지 규정하고 있다.

24 (1) 유전자 재조합 식품(GMO) (2) [모범 답안] 안전성이 검증되지 않았고 생태계를 교란시킬 수 있다.

01 **온실 효과**

(가)는 적당한 온실 효과, (나)는 과도한 온실 효과를 보여 준다. (나)와 같이 심화되는 것은 화석 연료의 사용 증가가 큰 원인이다.

02 **과도한 온실가스 배출의 요인**

과도한 온실 효과를 일으키는 인위적 요인들이 나타나 있다. 이로 인해 온실가스의 발생량이 증가하면서 지구 온난화가 나타나 여러 환경 문제가 발생하게 된다.

03 **지구 온난화**

ㄱ. 이산화 탄소는 대표적인 온실가스로, 산업화에 따른 이산화 탄소 배출량의 급격한 증가가 온실 효과를 지나치게 심화시켰다. ㄴ. 지구 온난화는 전체적인 강수량의 변화에 영향을 준다. 어떤 지역은 예상 수준을 벗어나는 폭

우로 피해를 주는가 하면, 어떤 지역은 지나치게 긴 기간 동안 가뭄을 유발하거나 사막 주변 지역까지 사막이 급속도로 확장되도록 만들어버린 것이다. 이를 이상 기후 현상이라고 한다.

오답 분석 ㄷ. 북극해의 빙하가 감소하면서 북극 항로의 활용 가치가 높아지고 있다.

ㄹ. 꽃의 개화 시기가 빨라지고 있다.

04 **기후 변화의 원인**

㉠에는 기후 변화가 들어간다. 기후 변화를 일으키는 자연적 요인은 화산재의 분출, 태양 활동 변화 등이 있다. 인위적 요인에는 화석 연료의 사용 증가, 산업화와 도시화로 인한 삼림 파괴, 농경지 증가와 가축 수의 증가 등이 있다. 최근에 인위적 요인의 영향이 더 커지고 있다.

05 **기후 변화의 영향**

해수 온도 상승으로 태풍에 공급되는 에너지가 커지면서 그 위력이 강해지고 발생 빈도도 증가하게 된다.

오답 분석 ① 해수 온도 상승으로 산호초와 공생 관계인 조류가 사라지면서 산호초가 하얗게 변하며 죽게 되는 백화 현상이 일어나고 있다.

③ 명태와 같은 한류성 어류의 생존 환경은 좁아지고, 난류성 어류의 생존 환경이 넓어지게 된다.

④ 지구 온난화로 인해 나타나는 현상이기는 하지만 해수 온도 상승과 직접적으로 연관되지는 않는다.

⑤ 가뭄 역시 증가하면서 사막화 현상이 나타나는 지역도 늘어나게 된다.

06 **기후 변화로 인한 해수면의 상승**

빙하가 녹으면서 해수면이 상승하는 현상이 나타나고 있다. 이로 인해 해안 저지대는 물론, 투발루와 같이 해발 고도가 낮은 섬들이 침수 위험에 처하게 되었다.

07 **기후 변화가 지역에 미친 영향**

투발루는 지구 온난화로 인해 국토가 침수하고 있는 국가로 자주 언급된다. 크고 작은 산호초 섬으로 이루어진 투발루는 바닷물이 점점 차올라 국토 전체가 물에 잠길 위기에 놓여 있다.

오답 분석 ② 몰디브도 투발루와 같이 해수면 상승에 의해 국토 전체가 침수될 위기에 있으나, 남태평양이 아니라 인도양에 위치한 섬이다.

08 **기후 변화에 대한 대응 방안**

탄소 배출을 줄일 수 있도록 ㄷ. 친환경 제품 사용, 자전거 타기를 생활화하고, ㄹ. 지구촌 불 끄기 행사 등을 통해 기후 변화에 관한 인식을 확산시킨다.

오답 분석 ㄱ. 신·재생 에너지 사용을 통해 화석 연료의 사용을 줄여야 한다.

ㄴ. 다른 나라에서 농산물이 수입되면 이동 거리가 길어져서 탄소 배출량이 많아지게 된다.

09 **기후 변화에 대한 대응 방안**

지구 온난화로 인한 피해는 온실가스 배출량에 비례하지 않는다. 실제로 개발 도상국에 피해가 더 큰 경우가 많다. 결국 전 지구적인 피해가 발생하기 때문에 전 세계가 함께 노력하지 않으면 이 문제를 해결할 수가 없게 되는 것이다.

10 **기후 변화에 대한 대응 방안**

기후 변화 협약 체결은 국제 사회에서 진행한 대응 노력 중 하나이다.

11 **환경 문제의 증가 원인**

환경 문제의 상당수는 산업화에 따른 경제 발전, 그리고 이로 인한 인구 증가가 전체적인 소비 증가로 이어지면서 자원 소비와 폐기물 발생을 증가시켜 나타나게 된 것이다. 도시화는 특정 지역에 인구와 자원 소비를 집중시켜 환경 문제를 더욱 심화시켰다.

오답 분석 ㄱ. 인구 증가로 인한 자원 소비의 증가가 환경 문제의 원인이다.

ㄷ. 환경 문제는 자연의 자정 능력을 벗어나는 환경 오염을 말한다.

12 **환경 문제 유발 산업의 국제 이동**

ㄱ. 석면이 유해 물질로 밝혀진 이후 이에 대한 규제가 생기면서 아직 규제가 없는 개발 도상국으로 이전하는 경우가 증가하고 있다. ㄷ. 결국 오염 물질을 수출하는 것이기 때문에 이를 '공해 수출'이라 부른다.

오답 분석 ㄴ. 일반적으로 선진국에서 개발 도상국으로 이동하는 경우가 많다.

ㄹ. 환경 규제가 강한 지역에서 느슨하거나 거의 없는 지역으로 이동한다.

13 **석면 산업이 국제적으로 이동한 이유**

선진국에서 환경에 대한 인식이 높아지면서 석면과 같은 유해 물질에 대한 규제가 강화되었다. 이로 인해 해당 공장들이 상대적으로 규제가 느슨한 지역으로 이동하게 된 것이다.

14 **전자 쓰레기의 국제 이동**

기술 발전이 빨라지면서 전자 제품의 교체 주기가 빨라졌다. 이를 처분하는 과정에서 유해 물질이 나오다 보니 환경 규제가 강한 선진국에서는 이것을 환경 규제가 약한 개발 도상국에 수출하여 처리하고자 한다. 개발 도상국은 환경 오염의 우려에도 불구하고 일자리 창출, 경제 성장 등의 이유로 이를 허락하고 있는 상황이다.

15 **환경 문제의 공간적 불평등**

전자 쓰레기 재활용을 통해 일자리를 창출하고 경제 성장을 이루려는 개발 도상국의 입장을 이해해야 한다. 그들 입장에서는 환경보다 당장 먹고사는 문제가 더 중요할 수 밖에 없다. 그래서 이것을 악용하는 사례가 많아진 것이다.

16 **화훼 산업의 국제 이동**

유럽의 환경 규제 강화, 케냐의 저렴한 인건비 등이 고려되어 화훼 산업이 이동하게 된 것이다.

17 **바젤 협약**

세베소 사건, 코코항 사건 등을 계기로 유해 폐기물의 국가 간 이동에 대한 관심이 높아졌고, 1989년 스위스 바젤에서 유해 폐기물의 국제적 이동을 규제하는 바젤 협약이 체결되었다.

18 **환경 이슈의 특징**

환경 이슈는 지역적인 것부터 세계적인 것까지 다양하게 나타난다.

19 환경 문제의 발생과 원인

환경 문제는 산업화와 도시화, 인구 증가, 일회용품 사용 등으로 인한 자원 소비와 폐기물 배출의 증가 때문이다. 자원 재활용은 이런 환경 문제를 해결하기 위한 노력이다.

20 황사와 미세 먼지

미세 먼지의 경우 공장, 화력 발전소, 자동차 등에서 발생하기 때문에 황사에 비해 중금속, 유해 화학 물질 등이 더 많이 포함되어 있다.

오답 분석 ① 황사는 봄철에 주로 나타난다.

② 황사는 건조 지역에서 만들어진 흙먼지이지만, 미세 먼지는 인간의 활동에 의해 만들어진 것이 대부분이다.

③ 미세 먼지는 입자가 작기 때문에 폐뿐만 아니라 심장, 피부, 안구 등에 광범위하게 피해를 줄 수 있다.

④ 미세 먼지 중에는 외국에서 온 것도 있지만 국내에서 발생한 것도 많이 포함되어 있다.

21 유전자 재조합 식품(GMO)에 대한 의견

찬웅, 재은, 인서, 지현은 유전자 재조합 식품(GMO)에 대해 찬성 의견을 제시하고 있고, 재혁만이 반대 의견을 제시하고 있다.

22 푸드 마일리지

ㄴ. 푸드 마일리지는 농산물의 이동 거리를 잘 보여 주는 지표로, 이것이 클수록 이동 거리가 길어지면서 살충제와 방부제가 사용될 가능성이 커져 식품의 안전성이 낮아진다. ㄷ. 이동 거리의 증가는 온실가스 배출량의 증가를 의미하기도 하므로 지구 온난화를 심화시킨다.

오답 분석 ㄱ. 푸드 마일리지가 높을수록 장거리 이동에 따른 살충제, 방부제 등의 양이 증가할 가능성이 크기 때문에 식품의 안전성을 떨어뜨리게 된다.

ㄹ. 우리나라는 GMO를 생산하지 않고 수입하는 나라이다. 즉 우리나라의 GMO는 외국에서 먼 거리를 이동해 온 것들이기 때문에 푸드 마일리지가 많이 쌓였다는 의미이다.

23 서술형 기후 변화에 대한 대응 노력

교토 의정서는 주로 선진국에게 온실가스 감축 의무를 부과한 반면, 파리 협약은 개발 도상국의 의무까지 규정하고 있다.

채점 기준	배점
제시어를 모두 사용하여 교토 의정서와 파리 협약의 차이점을 정확하게 서술함	100%
교토 의정서와 파리 협약의 차이점을 적절하게 서술하였으나, 모든 제시어를 사용하지 않음	70%
교토 의정서와 파리 협약 중 한 가지의 내용만 정확하게 서술함	30%

24 서술형 유전자 재조합 식품(GMO)에 대한 논쟁

유전자 재조합 식품은 안전성이 검증되지 않았고, 생태계를 교란시킬 수 있다.

채점 기준	배점
제시어를 모두 사용하여 유전자 재조합 식품(GMO)의 문제점을 정확하게 서술함	100%
유전자 재조합 식품(GMO)의 문제점을 적절하게 서술하였으나, 모든 제시어를 사용하지 않음	70%
안전성과 생태계 교란 중 한 가지에 대해서만 서술함	30%

XI 세계 속의 우리나라

01 우리나라의 영역과 독도

198~199쪽

✓ 간단 체크

❶ 대한 해협 ❷ 동해, 제주도, 울릉도, 독도 ❸ 독도 ❹ 메탄하이드레이트

개념 다지기 1단계 199쪽

01 영역 02 통상, 직선 03 최동단 04 메탄하이드레이트

집중 공략 A 200쪽

| 우리나라의 영역 |

01 (가) 영토, (나) 영해, (다) 영공 02 최저 조위선 03 배타적 경제 수역 04 직선 기선 05 3해리 06 통상 기선

집중 공략 B 201쪽

| 독도의 가치와 중요성 |

01 최동단 02 화산섬 03 조경 수역 04 메탄하이드레이트 05 배타적 경제 수역 06 천연 보호 구역

실력 올리기 2단계 202~203쪽

01 ① 02 ③ 03 ③ 04 ① 05 ④ 06 ③ 07 해설 참조 08 ① 09 ⑤ 10 ③

01 영역

영역은 한 국가의 주권이 미치는 범위로 영토, 영해, 영공으로 구성된다. 영공은 영토와 영해의 수직 상공이다.

02 우리나라의 영역

모식도의 A는 영토, B는 영해, C는 배타적 경제 수역이다. 일반적으로 영해는 썰물이 빠져나갔을 때의 해안선인 최저 조위선으로부터 12해리까지의 바다이다.

오답 분석 ㄱ. 우리나라의 영토는 한반도와 그 부속 섬으로 규정되어 있다.

ㄹ. 배타적 경제 수역은 영해 기선으로부터 200해리까지의 수역 중 영해를 제외한 범위이다.

03 영역의 구성

B 영해는 주권이 미치는 수역이고, C 배타적 경제 수역은 연안국의 경제적 권리만을 보장하는 수역이다.

오답 분석 ① 영해에 대한 주권은 협약과 그 밖의 국제법 규칙에 따라 행사된다.

② 영역에 대한 설명으로 영해만 해당된다.

④, ⑤ 배타적 경제 수역에 대한 설명이다.

04 우리나라의 영해 설정

영해 설정 시 통상 기선을 적용하는 영해는 동해와 독도, 울릉도, 제주도이고, 직선 기선을 적용하는 영해는 황해와 남해, 대한 해협이다.

고난도 **05** 우리나라의 영해 설정

[자료 분석]

우리나라의 영해별 설정 기준을 물어보는 문제이다.

- 황·남해: 섬이 많고 해안선이 복잡하여 통상 기선을 적용하기에 부적절하여 직선 기선을 기준으로 한다.
- 동해, 울릉도, 독도, 제주도: 일반적인 최저 조위선을 기선으로 한다.
- 대한 해협: 섬이 많아 직선 기선을 기준으로 하지만, 일본과 가까워 일본과의 사이에 공해를 규정하고 기선으로부터 3해리만을 영해로 정한다.

[선택지 분석]

✗ (가)는 영해선, (나)는 직선 기선이다.
➡ (가)는 직선 기선, (나)는 영해선이다.

○ ㄴ. 울릉도, 독도는 통상 기선이 적용된다.
➡ 일반적으로 최저 조위선인 통상 기선이 적용된다.

✗ ㄷ. 모든 해역에서 기선으로부터 12해리를 적용하고 있다.
➡ 대한 해협은 일본과 가까워 기선으로부터 3해리만 영해이다.

○ ㄹ. 황·남해는 영해 설정 시 가장 외곽의 섬을 직선으로 연결한 직선 기선이 적용된다.
➡ 황·남해는 직선 기선, 동해는 통상 기선이 적용된다.

06 배타적 경제 수역

A는 우리나라의 영해선, B는 우리나라의 배타적 경제 수역, C는 한·일 중간 수역, D는 한·중 잠정 조치 수역이다. 한·중·일은 지리적으로 인접해 있어 배타적 경제 수역이 겹치기 때문에 어업 협정을 맺어 공동 관리하는 수역을 정하였다. 한·일 중간 수역은 우리나라와 일본 간의 어업 협정으로 만들어졌다.

서술형 **07** 영해의 설정

모범 답안 동해는 해안선이 단조로워 통상 기선을 적용하고, 황·남해는 해안선이 복잡하고 섬이 많아 직선 기선을 적용한다.

채점 기준	배점
제시어를 모두 사용하여 우리나라의 동해와 황·남해의 영해 설정 기준을 정확하게 서술함	100%
우리나라 동해와 황·남해의 영해 설정 기준을 적절하게 서술하였으나, 모든 제시어를 사용하지 않음	70%
우리나라 동해와 황·남해 중 한 곳의 영해 설정 기준만 정확하게 서술함	30%

08 독도

독도는 우리나라 최동단에 위치한 화산섬으로 소중한 우리 국토이다.

09 독도의 지리적 특성

독도는 우리나라에서 가장 오래전에 형성된 화산섬으로 다양한 동식물이 서식하고 있어 섬 전체가 천연 보호 구역으로 지정되었다. ㄱ은 이어도에 대한 설명이다.

10 독도가 우리 영토인 근거

제시된 자료를 통해 알 수 있는 지역은 독도이다. 독도는 우리나라 동쪽 끝에 위치하여 일출 시간과 일몰 시간이 가장 이르다. 우리나라에서 세계 자연 유산으로 지정된 섬은 제주도로 한라산과 성산 일출봉, 거문오름 용암동굴계가 지정되었다.

02 우리나라 여러 지역의 경쟁력

204~205쪽

✓ 간단 체크

❶ 제주도 ❷ 수원 ❸ 보령시 ❹ 평창군

개념 다지기 1단계 205쪽

01 지역성 02 지역화 03 평창군 04 장소 마케팅

실력 올리기 2단계 206~207쪽

01 ④ 02 ② 03 해설 참조 04 ③ 05 ③ 06 ③
07 ③ 08 ⑤ 09 ② 10 ④ 11 ④ 12 해설 참조

01 지역과 지역성

지역성이란 지역의 자연환경과 오랫동안 거주해 온 주민들의 상호 작용에 의해 만들어지기 때문에 비슷한 자연환경이라 하더라도 달라질 수 있다. 우리나라의 동해안에는 모래사장과 암석 해안이 주로 나타난다.

고난도 **02** 우리나라의 세계 문화유산

[자료 분석]

우리나라의 세계 문화유산이 위치하는 지역을 묻는 문제이다. 우리나라에서 유네스코 세계 문화유산으로 지정된 문화재는 서울 종묘, 수원 화성, 경주 문화 유적 지구, 해인사 장경판전, 서울 창덕궁, 고창·화순·강화도 고인돌 유적 등이다.

[선택지 분석]

○ A 수원 화성
➡ 세계 문화유산이다.

✗ B 보령 갯벌
➡ 세계 문화유산이 아니다.

✗ C 전주 한옥 마을
➡ 세계 문화유산이 아니다.

✗ D 단양 석회동굴
➡ 세계 문화유산이 아니다.

○ E 경주 불국사
➡ 세계 문화유산이다.

03 서술형 **지역화의 의미**

모범 답안 지역화란 특정 지역이 국가를 넘어 세계 정치·경제·사회·문화의 주체로 등장하는 현상을 말한다.

채점 기준	배점
제시어를 모두 사용하여 지역화의 의미를 정확하게 서술함	100%
지역화의 의미를 적절하게 서술하였으나, 모든 제시어를 사용하지 않음	70%
지역화의 의미를 특정 지역이 주체가 된다는 내용만 서술함	30%

04 **세계화 시대의 지역화**

세계화 시대가 열리고 물자와 사람들의 교류가 늘면서 지역 간 경쟁이 치열해지자 지역의 특성을 발굴하여 세계 무대에서 경쟁력을 높이고자 노력하고 있다. 지역화 전략은 그 지역의 고유한 특성을 바탕으로 하기 때문에 문화 자산을 가진 지역은 그 문화를 더욱 발전시키려 노력한다.

05 **성공적인 지역화 전략**

지역화 전략은 지방 자치 단체와 지역 주민들이 앞장서 진행하며 지역의 특성을 반영한 지역 브랜드 개발이나 지역 축제 등의 행사를 기획·진행하기도 한다.

06 **지역 브랜드**

지역 브랜드란 지역 그 자체 또는 지역의 상품과 서비스 등을 소비자에게 특별한 브랜드로 인식시켜 지역의 이미지를 높이고 지역 경제를 활성화하는 모든 것을 말한다.

07 **평창군의 브랜드**

'HAPPY 700'은 강원도 평창군의 지역 브랜드이다. 평창군은 태백산맥에 위치하며 지대가 높아 여름에 기온이 서늘하여 고랭지 농업을 주로 한다.

오답 분석 ㄱ. 우리나라의 평야는 주로 남서부 지역에 위치한다.

ㄹ. 경기도 광명시의 지역화 전략이다.

08 **다양한 지역화 전략**

지역화 전략에는 지역 로고, 슬로건, 캐릭터 등을 결합하여 소비자가 지역을 특별한 이미지로 인식하게 만드는 지역 브랜드, 랜드마크, 지역 축제 등을 활용한 장소 마케팅, 지역의 상품을 인증하는 지리적 표시 등이 있다.

09 **지역 축제**

넓은 갯벌을 이용해 매년 머드 축제를 여는 지역은 충청남도의 보령이다. 한적한 농촌 지역이었으나 아름답고 깨끗한 자연 경관을 상징하는 나비를 활용해 성공적인 지역 축제로 명성을 얻은 지역은 전라남도 함평이다.

10 **지역화 전략의 사례**

문경은 과거 무연탄을 채굴하는 광산이었으나 석탄 소비 감소로 지역 경제가 쇠퇴하였다. 그러나 최근 폐광 시설을 석탄 박물관으로 만들어 새로운 이미지를 갖게 되었다. 김제는 우리나라에서 유일하게 지평선을 볼 수 있는 곡창 지대로 벼농사의 중심지라는 이미지를 이용해 농촌 축제인 지평선 축제를 연다.

11 **지리적 표시**

지리적 표시는 특정 상품의 품질과 특성이 생산지의 지리적 특성에서 비롯되고 그 우수성이 인정될 때, 국가가 해당 지역의 이름을 상표권으로 인정해 주는 제도이다. 지리적 표시 인증을 받은 상표는 다른 곳에서 이를 함부로 사용하지 못하게 하는 법적 권리를 가진다. 지리적 표시는 농산물뿐만 아니라 가공품에도 적용되며, 대표적인 상품이 순창 고추장이다.

12 서술형 **장소 마케팅의 의미**

모범 답안 장소 마케팅은 특정 장소가 가지고 있는 자연환경이나 역사적·문화적 특성을 드러내며 장소를 매력적인 상품으로 만들어 이를 판매하는 활동이다.

채점 기준	배점
제시어를 모두 사용하여 장소 마케팅의 의미를 정확하게 서술함	100%
장소 마케팅의 의미를 적절하게 서술하였으나, 모든 제시어를 사용하지 않음	70%
장소 마케팅의 의미를 특정 장소를 상품으로 만들어 판매한다는 내용만 서술함	30%

03 통일 이후 국토 공간

208~209쪽

✓ 간단 체크

❶ 대륙과 해양 진출에 유리 ❷ 남한 ❸ 북한 ❹ 아시안 하이웨이 ❺ 유라시아 횡단 철도

개념 다지기 1단계

209쪽

01 태평양 **02** 동아시아 **03** 심화, 증가 **04** 남한, 북한 **05** 생태계 **06** 동서

집중 공략 A

210쪽

01 (1) > (2) > (3) < (4) < (5) > (6) > **02** 분단 비용 **03** 65세 이상(노년층) **04** 0~14세(유소년층), 15~64세(청장년층) **05** 철강 기술 – 남한, 철광석 – 북한

집중 공략 B

211쪽

01 시베리아 횡단 철도 **02** 아시안 하이웨이 **03** (다) 경의선, (라) 경원선 **04** 백두산 **05** 금강산 **06** 비무장 지대(DMZ)

01 시베리아 횡단 철도는 러시아 블라디보스토크에서 모스크바까지 이어지는 세계에서 가장 긴 철도 노선이다. 유럽 철도와 만나 폴란드의 바르샤바, 독일의 베를린 등으로 이어진다.

실력 올리기 2단계

212~213쪽

01 ④ 02 ④ 03 ③ 04 ② 05 ⑤ 06 해설 참조
07 ① 08 ⑤ 09 ⑤ 10 ③ 11 ①

01 우리나라 위치
우리나라는 유라시아 대륙의 동안에 위치하며, 태평양과 인접한 곳에 자리한 반도국이다. 북쪽으로는 대륙과 남쪽으로는 바다를 통해 세계 여러 나라와 교류하기에 유리한 지리적 장점을 가지고 있다.

02 국토 통일의 필요성
제2차 세계 대전 이후 우리나라는 남북으로 분단되었고, 그 결과 대륙으로의 진출 통로가 단절되었다.

03 분단으로 인한 문제
남북 분단으로 인해 발생하는 막대한 군사비 지출, 외교 경쟁에 들어가는 비용, 이산가족과 실향민의 아픔 등 경제적·비경제적 비용을 분단 비용이라고 한다.

04 남북 분단의 영향
제시된 자료는 남북한 간에 달라진 언어를 비교한 것이다. 언어뿐만 아니라 가치관이나 생활 양식 등의 문화적 이질화가 심화되고 있다.

05 국토 통일의 장점
통일은 반도국의 이점과 국토 공간의 균형을 회복할 수 있게 한다. 또한 군사적 긴장감을 해소함으로써 정치적 발전, 경제적 이익을 극대화할 수 있다.

06 서술형 우리나라 위치의 지리적 이점
모범 답안 우리나라는 유라시아 대륙과 태평양을 연결하는 반도국으로 대륙과 해양으로 진출하기에 모두 유리하다.

채점 기준	배점
제시어를 모두 사용하여 우리나라 위치와 지리적 이점을 정확하게 서술함	100%
우리나라 위치와 지리적 이점을 적절하게 서술하였으나, 모든 제시어를 사용하지 않음	70%
반도국에 대한 내용만 서술함	30%

07 통일 이후 생활 모습의 변화
통일은 이산가족과 실향민의 아픔을 해소시킨다.

08 통일의 이점
통일이 이루어지면 남한의 기술과 북한의 지하자원 및 노동력을 결합할 수 있다. 이로 인해 남한은 제품의 생산비가 감소하여 상품의 경쟁력이 커지게 된다.

09 통일 국토의 미래
북한은 남한에 비해 철광석, 무연탄, 석회석 등의 자원이 풍부하다. 통일이 되어 북한의 자원을 이용할 수 있게 되면 우리나라는 일부라도 자원의 해외 의존도를 낮출 수 있다.

10 고난도 통일 이후 인구 구조의 변화
[자료 분석]
남북한이 통일되면 우리나라의 총인구는 증가한다. 또한 유소년층과 청장년층 비중이 높은 북한의 인구가 합쳐져 남한의 고령화 현상과 노동력 부족 문제를 해결하는 데 도움이 된다.

[선택지 분석]
✗ ㄱ. 노동력 부족 문제가 심화될 것이다.
➡ 총인구가 늘어나기 때문에 노동력 부족 문제가 해결될 것이다.
○ ㄴ. 생산 가능 인구가 증가하게 될 것이다.
➡ 청장년층의 수가 증가하여 생산 가능 인구도 증가하게 될 것이다.
○ ㄷ. 남한의 고령화 현상이 완화될 것이다.
➡ 노년층 인구 비중이 통일 이전보다 줄어들어 고령화 현상이 완화될 것이다.
✗ ㄹ. 저출산 현상으로 인구 증가율이 감소할 것이다.
➡ 통일 이후의 유소년층 비중을 보면 남한의 유소년층 비중보다 늘어난 것을 알 수 있다.

11 비무장 지대
지도의 (가)는 비무장 지대이다. 비무장 지대는 남한과 북한 간의 군사적 충돌을 방지하기 위해 군사 분계선에서 남북으로 2km를 규정하며 일반인의 출입이 엄격히 통제되기 때문에 자연 생태계가 잘 보존되어 있다.
오답 분석 ㄷ. 북한의 개방 지역은 두만강 일대의 나진-선봉 지구와 신의주, 개성 금강산 일대이다.
ㄹ. 남한과 북한 간의 경제 협력으로 조성된 공업 단지는 현재(2018년) 가동이 중단된 개성 공단이다.

214~217쪽

대단원 완성하기 3단계

01 ④ 02 ③ 03 ④ 04 ④ 05 ① 06 ② 07 ⑤
08 ④ 09 ① 10 ③ 11 ④ 12 ③ 13 ④ 14 ③
15 ③ 16 ① 17 ② 18 ③

서술형

19 (1) 통상 기선, 직선 기선 (2) [모범 답안] 섬이 많고 해안선이 복잡한 황해는 육지에서 가장 먼 섬을 직선으로 연결한 직선 기선으로 영해를 설정하고, 섬이 적고 해안선이 단조로운 동해는 통상 기선을 기선으로 영해를 설정한다.

20 (1) 갯벌 (2) [모범 답안] 보령은 넓은 갯벌을 이용해 지역 캐릭터인 '머돌이'와 '머순이'를 만들고 매년 머드 축제를 개최하며, 머드를 이용한 상품을 개발하는 등 경쟁력 있는 지역 브랜드를 구축하였다.

01 우리나라의 영토
독도는 우리나라 동쪽 끝에 위치한 섬이고, (나)는 우리나라 최남단에 위치한 섬이다.
오답 분석 ㄱ. (가)는 독도, (나)는 마라도이다.
ㄷ. 마안도는 우리나라의 극서지이다.

02 영역의 구성
A는 영공, B는 영토, C는 영해, D는 배타적 경제 수역, E는 공해이다. 황해는 육지에서 가장 먼 섬을 직선으로 연결한 직선 기선을 영해의 기준으로 삼기 때문에 영토가 넓어진다고 해서 영해 범위가 확대되지는 않는다.

03 **우리나라 영해 설정의 기준**
(가)는 최저 조위선이다. 최저 조위선은 썰물이 나갔을 때의 해안선으로 대부분의 국가에서 이 선을 기선으로 하기 때문에 통상 기선이라고 한다.
오답 분석 ㄴ. 황해는 섬이 많고 해안선이 복잡해 직선 기선을 기준으로 영해를 설정한다.

04 **대한 해협의 영해 설정**
대한 해협은 일본의 쓰시마섬과 인접하여 12해리의 영해를 고수할 수 없다. 따라서 직선 기선으로부터 3해리까지의 해역을 영해로 정하였다.

05 **배타적 경제 수역**
배타적 경제 수역은 연안국의 어업 활동, 자원 탐사 등 경제적 권리를 보장하는 수역으로 경제적 권리만을 인정하기 때문에 외국 선박이나 항공기의 통행이 자유롭다. 배타적 경제 수역은 영해 기선으로부터 200해리까지의 수역 중 영해를 제외한 수역이다.

06 **독도**
독도는 우리나라 최동단에 위치한 화산섬으로 해가 가장 먼저 뜨고 가장 먼저 진다. 난류의 영향으로 연중 기온이 온화하고 강수량이 많은 해양성 기후가 나타난다.
오답 분석 ㄴ. 우리나라에서 해가 가장 늦게 지는 곳은 극서지인 평안북도 마안도이다.
ㄷ. 해양성 기후는 연교차가 작다.

07 **독도**
독도는 섬 자체가 천연 보호 구역으로 지정되어 있을 정도로 다양한 동식물이 서식하고 있다.

08 **지역화의 발생 원인**
지역화란 특정 지역이 세계적인 정치·경제·문화 등의 중심지가 되는 현상으로 세계화로 인해 지역 간의 교류가 확대되면서 지역 경쟁력을 강화시키기 위한 방안으로 대두되었다.
오답 분석 ㄱ, ㄷ. 지역화는 각 지역의 특성을 살려 다른 지역과 차별화하는 것이다.

09 **우리나라 여러 지역의 특징**
제시된 사진은 갯벌에서 촬영한 것이다. 우리나라의 서해안에는 세계 5대 갯벌에 해당되는 넓은 갯벌이 분포하고 있어 이를 이용한 체험 활동이나 관광지 개발이 활발하다. 지도의 A는 보령, B는 다도해, C는 제주, D는 경주, E는 강릉이다.

10 **제주도**
성산 일출봉과 한라산, 거문오름 용암동굴계 등이 분포하는 지역은 제주도이다.

11 **지역 브랜드**
지역 브랜드는 해당 지역을 잘 나타내는 독특한 이름, 기호, 상징물 등을 의미한다. 지역 브랜드의 가치가 높아지면 지역 브랜드가 기재된 제품 판매로 수익을 얻을 수 있고, 지역을 찾는 사람들이 늘면서 관광 산업이 발전하게 된다.

12 **지역 축제**
전주는 한옥 밀집 지역이라는 특징에 인류 무형 문화유산으로 지정된 판소리와 오랜 세월 이어져 온 한지, 비빔밥과 한식 등을 상품화하여 국내외 관광객이 찾는 명소로 자리 잡게 되었다.

13 **지역 브랜드**
경남 남해군은 아름다운 자연환경을 소재로 삼고 있으며, 경주는 유구한 신라의 역사 유적을 바탕으로 지역 브랜드를 개발하였다.

14 **우리나라의 위치적 특성**
우리나라는 동아시아의 동쪽 끝에 위치한 반도국으로 대륙 및 해양으로 진출하기에 유리한 지리적 장점을 가지고 있다.

15 **통일의 필요성**
남북 종단 교통로가 대륙의 철도 및 도로와 연결되면 우리는 육로를 이용해 아시아 내륙과 유럽으로 갈 수 있게 된다. 이로 인해 물류비용이 절감되고 운송비가 저렴해져 우리나라는 동아시아의 물류 중심지로 성장할 가능성이 높아지게 된다.

16 **분단으로 인한 문제**
남북 분단 이후 남한과 북한의 문화적 이질화와 경제적 격차는 계속 커지고 있다.

17 **통일로 인한 변화**
남북 간의 경제 협력은 주로 남한의 풍부한 자본과 기술, 북한의 지하자원과 노동력의 결합으로 이루어질 것이다.
오답 분석 ㄴ. 통일 이후 북한 개발로 인한 건설업계의 호황이 나타날 수 있다.
ㄷ. 북한의 풍부한 철광석과 석회석 등 자원의 활용으로 인해 나타날 수 있다.

18 **통일 국토의 미래 모습**
통일이 되면 우리나라는 반도국으로서의 이점이 회복되어 육로와 해로 운송을 연결하는 물류의 중심지로 성장할 수 있다.

19 **서술형** **우리나라의 영해**
황해는 육지에서 가장 먼 섬을 직선으로 연결한 직선 기선으로 영해를 설정하고, 동해는 통상 기선으로 영해를 설정하기 때문이다.

채점 기준	배점
제시어를 모두 사용하여 황해와 동해의 지형을 비교하여 영해 설정 방법을 정확하게 서술함	100%
황해와 동해의 영해 설정 방법을 적절하게 설명하였으나, 모든 제시어를 사용하지 않음	70%
황해와 동해의 영해 설정 방법을 기선의 이름만 사용하여 서술함	30%

20 **서술형** **보령의 지역화 전략**
보령은 넓은 갯벌을 이용해 지역 캐릭터를 만들고 매년 머드 축제를 개최하며, 머드를 이용한 상품을 개발하는 등 경쟁력 있는 지역 브랜드를 구축하였다.

채점 기준	배점
제시어를 모두 사용하여 보령의 지역화 전략을 정확하게 서술함	100%
보령의 지역화 전략을 적절하게 설명하였으나, 모든 제시어를 사용하지 않음	50%
보령의 지역화 전략을 머드 축제에 대한 내용만 서술함	30%

XII 더불어 사는 세계

01 지구상의 다양한 지리적 문제

220~221쪽

간단 체크

❶ 일본 ❷ 아프리카 ❸ 열대 우림 지역 ❹ 남아메리카

개념 다지기 1단계 221쪽

01 영역 **02** 러시아 **03** 국경선 **04** 저개발 **05** 식량
06 인위적 **07** 감소, 낮아질 **08** 생물 다양성

집중 공략 222쪽

| 영역 분쟁과 생물 다양성의 감소 |

01 카스피해, 센카쿠 열도(댜오위다오), 난사(스프래틀리) 군도
02 센카쿠 열도(댜오위다오), 난사(스프래틀리) 군도 **03** 중국
04 인도네시아, 브라질

01 카스피해, 센카쿠 열도(댜오위다오), 난사(스프래틀리) 군도 등은 해당 지역을 차지하여 자원을 확보하려는 국가들 간의 분쟁 지역이다.

02 센카쿠 열도(댜오위다오)는 일본과 중국이 영유권 주장을 하고 있고, 난사 군도(스프래틀리 군도)는 남중국해에 접해 있는 많은 국가들(중국, 필리핀, 브루나이, 말레이시아, 베트남 등)이 영역 분쟁에 연관되어 있다.

04 삼림의 순감소가 가장 크게 나타나는 국가는 인도네시아와 브라질이다. 인도네시아는 팜유 생산, 브라질은 콩 재배를 위한 경작지 확대를 위해 열대 우림이 빠르게 파괴되고 있다. 열대 우림의 감소는 생물 다양성 감소의 주요 원인으로 생물 다양성이 감소하면 인간이 이용 가능한 생물 자원의 수가 감소하고 생태계가 빠르게 파괴된다.

실력 올리기 2단계 223쪽

01 ① **02** ⑤ **03** 해설 참조 **04** ② **05** 해설 참조
06 ③

01 영역 분쟁의 원인
영역 분쟁의 원인으로는 역사적 배경, 민족, 종교 등의 차이, 자원을 둘러싼 이권 다툼을 들 수 있다. 무분별한 열대 우림의 파괴는 적도 부근에 위치한 국가들의 경제 개발을 위해 이루어지는 것이므로 국가 간 분쟁과 직접적인 관계가 없다.

02 고난도 센카쿠 열도(댜오위다오)와 난사 군도(스프래틀리 군도)

[자료 분석]
동아시아 지역에서 발생하는 영역 분쟁을 물어보는 문제이다. (가)는 일본과 중국의 분쟁 지역인 센카쿠 열도, (나)는 남중국해에 인접한 국가들의 영역 분쟁 지역인 난사 군도이다. 최근에는 이러한 섬과 섬 주변의 바다를 둘러싼 분쟁이 늘어나고 있는데, 이는 배타적 경제 수역의 확보와 경제 및 군사적 해상 거점 확보와 관련이 깊다.

[지도 분석]
① (가)는 현재 중국이 실효적 지배를 하고 있다.
➡ 현재 일본이 실효적 지배를 하고 있다.
② (가)는 국가 간 종교의 차이가 분쟁의 원인이다.
➡ (가)의 분쟁은 자원 확보가 주요 원인이다.
③ (나)의 분쟁은 당사국 간 협상을 통해 해결되고 있다.
➡ 난사 군도의 영역 분쟁은 여전히 진행 중이다.
④ (가)는 (나)보다 분쟁 당사국의 수가 많다.
➡ (가)의 분쟁 당사국은 중국과 일본이며, (나)의 분쟁 당사국은 중국, 베트남, 브루나이, 말레이시아, 필리핀 등이다.
⑤ (가), (나) 모두 분쟁 당사국에 중국이 포함되어 있다.
➡ (가)는 일본과 중국, (나)는 중국, 베트남, 브루나이 등의 국가와 관련된 분쟁 지역이므로 모두 중국이 포함되어 있다.

03 서술형 센카쿠 열도(댜오위다오) 분쟁의 원인
모범 답안 센카쿠 열도(댜오위다오)는 지리적 이점과 자원 개발을 둘러싸고 중국과 일본 간에 일어난 영유권 분쟁이다.

채점 기준	배점
제시어를 모두 사용하여 분쟁 원인을 정확하게 서술함	100%
분쟁의 원인을 적절하게 서술하였으나, 모든 제시어를 사용하지 않음	70%
자원 개발 때문이라고만 서술함	30%

04 세계 기아 문제의 원인
곡물 운송비가 감소하면 식량이 이전보다 더욱 원활히 분배될 수 있으므로 기아 문제 해결에 도움이 될 것이다.

05 서술형 기아 문제의 발생 지역과 원인
모범 답안 주로 아프리카 대륙에서 나타나며 아프리카의 경제 수준이 다른 대륙에 비해 낮기 때문이다.

채점 기준	배점
대륙의 이름을 쓰고, 해당 제시어를 모두 사용하여 기아 발생 원인을 정확하게 서술함	100%
대륙의 이름만 정확하게 씀	30%

06 열대 우림의 파괴
열대 우림의 파괴는 농경지 확대, 도시 건설 등으로 인해 발생하며, 생물 다양성을 감소시킨다.

02/03 발전 수준의 지역차 ~ 지역 간 불평등 완화를 위한 노력

224~225쪽

✓ 간단 체크

❶ 유럽, 앵글로아메리카 ❷ 유럽, 북아메리카 ❸ 한국 국제 협력단(KOICA)

개념 다지기 1단계

225쪽

01 높다 **02** 높다 **03** 사회 간접 자본 **04** 공적 개발 원조 **05** 비정부 **06** 공정

집중 공략 A

226쪽

| 지역별 발전 수준 지표 |

01 아프리카, 아시아

02 인터넷 이용자 비율, 기대 교육 연한 등

03 문맹률, 교사 1인당 학생 수 등

04 (1) ↓, ↑ (2) ↑, ↓ (3) ↑, ↓ (4) ↓, ↑ (5) ↓, ↑ (6) ↑, ↓ (7) ↑, ↓ (8) ↓, ↑ (9) ↑, ↓ (10) ↓, ↑

03 지역별 발전 수준을 보여 주는 지표에는 여러 가지가 있다. 1인당 국내 총생산(GDP), 인간 개발 지수(HDI), 성인 문자 해독률, 기대 수명, 행복 지수 등은 선진국이 높게 나타나고 영 · 유아 사망률, 교사 1인당 학생 수 등은 경제 수준이 낮은 개발 도상국, 저개발국에서 높게 나타난다.

집중 공략 B

227쪽

| 지역 간 불평등 완화를 위한 노력 |

01 아프리카 **02** 유럽, 북아메리카 **03** 수여국 **04** 공정 무역 **05** (1) 예, 아니요 (2) 아니요, 예

04 공정 무역은 생산자의 건강한 노동 환경과 경제적 독립, 환경 보전 등을 중시하며 소비자에게 어떤 환경에서 생산한 제품인지 안내하여 생산자와 소비자는 물론 환경에도 이로운 지속 가능한 발전을 추구한다.

실력 올리기 2단계

228~229쪽

01 ① **02** ④ **03** ③ **04** ④ **05** 해설 참조 **06** ② **07** ② **08** 해설 참조 **09** ⑤ **10** ② **11** 해설 참조

01 발전 수준을 파악할 수 있는 지표

인구 밀도는 단위 면적당 인구수를 의미한다. 인구 밀도가 높은 국가라고 하더라도 발전 수준이 낮은 국가의 사례가 많으므로 인구 밀도는 발전 수준을 파악하는 지표로 적절하지 않다.

02 고난도 선진국과 개발 도상국의 상대적 특성 비교

[자료 분석]

발전 수준의 차이를 보여 주는 지표를 통해 선진국과 개발 도상국의 특성을 묻는 문제이다. 기대 교육 연한은 어린이들이 교육 받을 것으로 예상되는 기간으로 짧을수록 개발 도상국에 해당한다. 따라서 (가)는 개발 도상국, (나)는 선진국이다.

[지도 분석]

① 기대 수명이 짧다.
➡ 선진국은 개발 도상국에 비해 기대 수명이 길다.

② 영아 사망률이 높다.
➡ 선진국은 개발 도상국에 비해 영아 사망률이 낮다.

③ 성 불평등 지수가 높다.
➡ 선진국은 개발 도상국에 비해 성 불평등 지수가 낮다.

④ 1인당 국내 총생산이 많다.
➡ 선진국은 개발 도상국보다 1인당 국내 총생산이 많다.

⑤ 인터넷 이용자 비율이 낮다.
➡ 선진국은 개발 도상국에 비해 인터넷 이용자 비율이 높다.

03 선진국과 개발 도상국의 상대적 특성 비교

㉠은 선진국, ㉡은 개발 도상국 또는 저개발국이다. 여성의 사회 참여율은 남녀 불평등 지수가 낮은 선진국이 높게 나타난다.

04 선진국과 개발 도상국 비교

(가)는 유럽, (나)는 중남부 아메리카이다. 유럽은 선진국, 중남부 아메리카는 개발 도상국 또는 저개발국에 해당한다. 개발 도상국은 선진국에 비해 문맹률이 높게 나타난다.

05 서술형 개발 도상국의 특성

모범 답안 개발 도상국은 주로 아프리카, 남부 아시아 등에 위치한다. 개발 도상국은 소득 수준이 낮으며 학교나 의료 시설 등이 부족하여 삶의 질이 낮다.

채점 기준	배점
대륙의 이름을 쓰고, 제시어를 모두 사용하여 저개발국의 특징을 정확하게 서술함	100%
대륙의 이름을 쓰고, 한 가지 제시어만 사용하여 서술함	70%
대륙의 이름만 정확하게 씀	30%

06 빈곤 문제 해결을 위한 저개발국의 노력

저개발국은 과거에는 빈곤 문제를 해결하기 위해 선진국의 원조에 의존하는 경향이 강했으나 최근에는 자체적인 경제 개혁을 통해 빈곤 문제를 해결하려는 노력이 활발히 이루어지고 있다. 특히 농업과 교육 부문, 도로 · 항만 · 전력망 구축 등에 국가의 공공 지출을 꾸준히 늘려가고 있으며 식량 생산량을 늘리기 위해 관개 시설을 확충하고 수확량이 많은 품종을 개발하고 있다.

07 빈곤 문제 해결을 위한 저개발국의 노력

저개발국의 발전을 위해서는 그들 국가가 가진 정치적 후진성을 극복하고 부정부패 문제를 해결해야 한다. 아울러 선진국의 원조에 의존하지 않고 스스로 빈곤 문제를 해결하려는 노력이 필요하다.

오답 분석 준호 – 일당 독재 체제는 부정부패를 유발하고 정치적 불안정을 가져와 국민들의 삶이 더 어려워진다.
민아 – 저개발국은 선진국의 공적 개발 원조 의존도를 줄이고 스스로 빈곤 문제를 해결하려는 노력이 필요하다.

08 서술형 **저개발국의 지속 가능한 발전을 위한 정책**

모범 답안 인적 자원 확보를 위한 정책으로는 교육 기회 확대 등이 있으며, 사회 정의 실현의 측면에서는 민주화를 통한 정치 개혁과 부정부패의 척결 등이 필요하다.

채점 기준	배점
제시어를 모두 사용하여 필요한 정책을 인적 자원 확보와 사회 정의 실현의 측면에서 정확하게 서술함	100%
필요한 정책을 인적 자원 확보와 사회 정의 실현의 측면에서 적절하게 서술하였으나, 모든 제시어를 사용하지 않음	50%
필요한 정책을 인적 자원 확보와 사회 정의 실현의 측면 중 한 가지만 정확하게 서술함	30%

09 **공적 개발 원조와 비정부 기구**

(가)는 공적 개발 원조(ODA), (나)는 비정부 기구(NGO)에 대한 설명이다.

오답 분석 ①, ②, ④ (가)의 주체는 경제 협력 개발 기구(OECD) 산하 개발 원조 위원회(DAC)이며, (나)의 주체는 비정부 기구(NGO)이다.
③ 정부 간의 조직인 (가)가 비정부 조직인 (나)에 비해 원조 규모가 크다.

10 **공정 무역**

공정 무역은 생산자들에게 무역의 혜택이 돌아갈 수 있도록 가급적 중간 유통 과정을 거치지 않는다.

11 서술형 **바람직한 국제 원조 방법**

모범 답안 (가)는 물품 제공에 그치는 일회성 원조임에 비해 (나)는 기술 이전으로 이후의 유지 관리가 이루어지고 있다. (나)와 같은 지속 가능한 원조가 더욱 바람직하다.

채점 기준	배점
제시어를 모두 사용하여 (가), (나) 원조 방법을 비교하고 바람직한 원조 방법을 정확하게 서술함	100%
(가), (나)의 원조 방법을 비교하고 바람직한 원조 방법을 적절하게 서술하였으나, 모든 제시어를 포함하지 않음	70%
(가), (나)의 원조 방법 중 한 가지에 대해서만 정확하게 서술함	30%

230~232쪽

대단원 완성하기 3단계

01 ⑤ **02** ④ **03** ② **04** ③ **05** ③ **06** ② **07** ⑤
08 ③ **09** ① **10** ① **11** ③ **12** ①

서술형

13 (1) (가): 센카쿠 열도(댜오위다오) (나): 난사 군도(스프래틀리 군도) (2) [모범 답안] (가), (나) 영역 분쟁에 공통적으로 해당하는 국가는 중국이며, 자원 확보와 관련된 분쟁이다.

14 (1) (나), 농민의 수익이 (가)에 비해 많기 때문이다.
(2) [모범 답안] 생산자는 이익이 보장되어 삶의 질이 향상되며 소비자는 믿을 수 있는 제품을 소비할 수 있다.

01 **아프리카 분쟁의 원인**

현재 아프리카의 국경선은 직선으로 구성된 곳이 많은데 이는 국경선이 산, 강과 같은 지리적 요소에 의해 설정된 것이 아니라 유럽 열강에 의해 인위적으로 설정되었음을 알 수 있다. 이와 같은 인위적 국경선은 부족 경계와 일치하지 않으므로 많은 분쟁의 원인이 되고 있다.

02 **동아시아의 영역 분쟁**

각 지역의 명칭은 실효적 지배 국가의 언어를 따르므로 쿠릴(Кури́льские)은 러시아, 센카쿠(尖閣, せんかく)는 일본, 시사 군도(西沙群岛)는 중국이 실효 지배하고 있다고 파악할 수 있다.

03 **기아 문제의 원인**

제시된 자료는 『굶주리는 세계』라는 책의 내용이다. 이 책에서 저자는 굶주림의 원인을 인구 증가, 토지 감소와 같은 수요, 공급의 측면으로 접근하기보다는 굶주리는 사람들에 게 발생하는 식량의 불균등한 분배 측면에서 접근하고 있다.

04 **기아 문제의 해결 방법**

식량 과잉으로 골머리를 앓는 부국과 식량 부족으로 시름에 잠긴 빈곤국이라는 부조리한 현실은 전 세계의 식량 분배가 불공평하기 때문에 발생한다. 따라서 더 많은 식량 생산으로는 굶주림의 문제를 해결할 수 없다.

05 **열대 우림 파괴와 생물 다양성의 감소**

지도는 열대 우림이 파괴되고 있는 지역을 나타낸 것이다. 열대 우림 파괴는 농경지 확보, 목축, 벌목 등으로 인해 나타난다. 열대 우림이 존재하는 지역은 사막화가 진행되는 지역과 관련이 적다.

06 **열대 우림 분포 지역의 지리적 문제**

열대 우림의 감소는 생물 다양성 감소의 주요 원인으로 생물 다양성이 감소하면 인간이 이용 가능한 생물 자원의 수가 감소하게 되고 생태계가 빠르게 파괴된다.

오답 분석 ㄴ. 가뭄 피해가 주로 나타나는 지역은 사막 주변의 지역이다.
ㄹ. 오존층 파괴는 주로 남극 주변에서 일어나므로 이 지도에 표시된 지역과는 관계가 적다.

07 **발전 수준을 구분할 수 있는 지표**

인구 밀도는 발전 수준을 파악하는 지표로 적당하지 않으며, 성인의 문맹률, 성 불평등 지수, 영·유아 사망률은 선진국에서 낮게 나타난다.

08 **발전 수준을 구분할 수 있는 지표 파악**

1인당 국내 총생산이 높은 곳은 선진국이고, 낮은 곳은 저개발국이다. 저개발국은 성 평등 지수, 기대 교육 연한, 성인 문자 해독률, 인터넷 이용자 비율이 더 낮게 나타난다.

오답 분석 ① 성 평등 지수가 낮을 것이다.
② 기대 교육 연한이 짧을 것이다.
④ 성인 문자 해독률이 낮을 것이다.
⑤ 인터넷 이용자 비율이 낮을 것이다.

09 **선진국과 개발 도상국의 상대적 차이**

㉠은 도시화가 먼저 시작된 선진국이며 ㉡은 선진국에 비해 뒤늦게 도시화가 시작된 개발 도상국이다. 선진국은 개발 도상국에 비해 성 평등 지수가 높다.

10 **저개발국의 빈곤 해결을 위한 노력**

보츠와나와 볼리비아의 사례는 저개발국이 스스로 빈곤 해결을 위해 노력하여 성공한 사례에 해당한다.

11 **공적 개발 원조**

㉠은 공적 개발 원조이다. 공적 개발 원조는 경제 협력 개발 기구 산하의 개발 원조 위원회에서 주관한다. 현재 우리나라도 참여하고 있다.

12 **공정 무역**

공정 무역은 선진국과 저개발국 사이의 불공정한 무역을 개선하여 저개발국 생산자에게 정당한 가격을 지급하는 무역으로 생산 지역 빈곤 완화에 도움을 준다. 공정 무역은 주로 커피, 카카오, 과일 등 농산물이 거래되고 있다.

13 서술형 **동아시아의 주요 영역 분쟁 지역**

일본과 중국의 분쟁 지역인 센카쿠 열도(댜오위다오)와 중국, 베트남, 브루나이, 말레이시아, 필리핀의 분쟁 지역인 난사 군도(스프래틀리 군도)이다. 영역 분쟁에 중국이 관련되어 있으며, 두 지역은 모두 자원 확보와 관련된 분쟁이다.

채점 기준	배점
해당 국가를 쓰고, 영역 분쟁의 원인을 정확하게 서술함	100%
해당 국가만 정확하게 씀	30%

14 서술형 **공정 무역**

공정 무역은 저개발국의 생산자에게 정당한 가격을 지급할 수 있도록 하며, 생산 지역의 빈곤 완화에 도움을 줄 수 있다.

채점 기준	배점
제시어를 모두 사용하여 공정 무역의 긍정적인 측면을 정확하게 서술함	100%
공정 무역의 긍정적인 측면을 적절하게 서술하였으나, 모든 제시어를 사용하지 않음	70%
생산자에게 도움이 된다는 내용만 서술함	30%



복습책 정답과 해설

I 인권과 헌법

01 인권 보장과 기본권

개념으로 복습하기 02쪽

❶ 천부 인권 ❷ 자연권 ❸ 시민 혁명 ❹ 헌법
❺ 행복 추구권 ❻ 참정권 ❼ 청구권 ❽ 질서 유지
❾ 법률 ❿ 본질적 내용

문제로 복습하기 02쪽 ~ 03쪽

01 ③ 02 ⑤ 03 ② 04 ③ 05 ③ 06 ③ 07 ②
08 ③ 09 해설 참조

01 인권은 국가의 법이나 제도로 보장되기 전부터 인간에게 자연적으로 부여된 권리이다.

02 인권은 인간이 태어나면서부터 당연히 가지는 권리로, 하늘이 준 권리라는 천부 인권으로서의 특징을 갖고 있다.

03 인권은 인간이 태어나면서부터 당연히 가지는 권리이다. 시민 혁명을 거치거나 문서로 작성해야 보장받을 수 있는 것이 아니다.

04 참정권은 국가 기관의 형성과 국가의 정치적 의사 결정에 참여할 수 있는 권리이다.

05 제시된 그림에 나타난 권리는 사회권이다. 사회권은 국민이 국가에 인간다운 생활의 보장을 요구할 수 있는 적극적 권리이다.
오답 분석 ㄱ. 자유권에 대한 설명이다. ㄹ. 평등권에 대한 설명이다.

06 참정권은 국가 기관의 형성과 국가의 정치적 의사 결정 과정에 참여할 수 있는 권리로 선거권, 공무 담임권, 국민 투표권을 예로 들 수 있다.

07 제시된 사례에 나타난 개발 제한 구역은 환경 보호라는 공공복리를 위해 자유권을 제한한 것이다.

08 ㉠은 참정권, ㉡은 청구권으로 모두 적극적 권리이다. 청구권의 내용으로는 청원권, 재판 청구권, 국가 배상 청구권 등이 있다.

09 **모범 답안** 기본권의 제한은 국회가 제정한 법률에 의해서만 가능하다.

채점 기준	배점
기본권의 제한 형식을 정확하게 서술함	100%
기본권의 제한 형식을 서술하였으나, 법률에 의한 제한이라는 내용을 서술하지 못함	50%

02 인권 침해와 구제 방법 ~ 03 근로자의 권리와 노동권 침해의 구제

개념으로 복습하기 04쪽

❶ 헌법 재판소 ❷ 국가 인권 위원회 ❸ 근로자
❹ 근로 기준법 ❺ 단결권 ❻ 단체 교섭권 ❼ 단체 행동권 ❽ 부당 해고 ❾ 노동 위원회

문제로 복습하기 04쪽 ~ 05쪽

01 ④ 02 ⑤ 03 ④ 04 ③ 05 ② 06 ⑤ 07 ②
08 ① 09 해설 참조

01 인권 침해는 국가 기관에 의한 침해, 개인이나 단체에 의한 침해 등이 있다. ④ 민주 국가에서도 국가 기관에 의한 인권 침해가 발생할 수 있다.

02 인권 침해란 인간으로서 가지는 권리나 법으로 보장되는 기본권을 존중받지 못하는 것이다.
오답 분석 ①, ②, ③ 제시된 두 가지 사례 모두 인권 침해에 해당된다.
④ 인권 침해에 대한 구제 방법은 한 가지만 있는 것이 아니다. 법원을 통한 구제, 헌법 재판소를 통한 구제, 국가 인권 위원회를 통한 구제가 있다.

03 헌법 재판소는 위헌 법률 심판, 헌법 소원 심판을 통해 인권 침해를 구제한다.

04 근로 조건은 근로자가 노동력을 제공하는 조건으로 임금, 근로 시간, 휴가 등이 포함된다.

05 단결권은 노동조합과 같은 단체를 만들고 그에 가입하여 활동할 수 있는 권리이고, 단체 행동권은 단체 교섭이 이루어지지 않을 경우 쟁의 행위를 할 수 있는 권리이다.

06 단체 교섭이 원만하게 이루어지지 않을 경우 쟁의 행위를 할 수 있는 권리는 단체 행동권이다.

07 ㉠은 부당 해고이며, 부당 해고를 당한 근로자는 노동 위원회에 구제 신청을 하거나 법원에 재판을 신청해서 구제받을 수 있다. 정당 해고의 요건을 갖추려면 반드시 문서를 통해 해고 사유와 시기를 알려야 한다.

08 갑 사장은 노동조합 활동을 방해했으므로 부당 노동 행위를 하였고, 근로자들은 노동조합을 만들고 그에 가입하여 활동할 수 있는 권리인 단결권을 침해당하였다.
오답 분석 ㄷ. 부당 해고를 한 것은 아니다.
ㄹ. 노동권 침해가 발생하면 노동 위원회에 구제를 신청하거나 법원에 재판을 신청하여 구제받을 수 있다.

09 **모범 답안** 노동조합을 통해 사용자와 근로 조건을 협의할 수 있는 권리이다.

채점 기준	배점
단체 교섭권의 의미를 정확하게 서술함	100%
단체 교섭권의 의미를 서술하였으나, 노동조합을 통한 협의라는 내용을 서술하지 못함	50%

Ⅱ 헌법과 국가 기관

01 국회의 위상과 역할

개념으로 복습하기 06쪽

❶ 4년 ❷ 비례 대표 ❸ 입법 기관 ❹ 본회의 ❺ 위원회 ❻ 재정 ❼ 국정 통제 ❽ 동의권 ❾ 탄핵 소추권

문제로 복습하기 06쪽 ~ 07쪽

01 ④ 02 ② 03 ① 04 ③ 05 ⑤ 06 ⑤ 07 ② 08 ③ 09 해설 참조

01 국회 의원은 국민들의 직접 선거로 선출되며, 임기는 4년이고 연임이 가능하다.

02 비례 대표 의원은 각 정당의 득표율에 비례하여 선출한다. 본회의에 앞서 관련된 안건이나 법률안을 심사하는 기관은 위원회(상임 위원회, 특별 위원회)이다.

03 교섭 단체는 국회 의사 진행에 필요한 중요 안건을 협의하는데, 20인 이상의 국회 의원이 모여 하나의 교섭 단체를 구성할 수 있다.

04 예산 결산 특별 위원회는 교섭 단체가 아니라 국회 조직인 위원회 중 특별 위원회에 해당한다.

05 국회는 대통령의 대법원장 임명에 대한 동의권을 행사하였는데, 이는 국가 기관 구성 기능에 해당한다.

06 국회의 국정 통제 기능으로는 국정 감사권 및 국정 조사권, 대통령의 권한 행사에 대한 동의권 등이 있다.

07 국정 조사는 국회의 국정 통제 기능이고, 입법은 국회가 가지는 가장 대표적인 기능이다.
오답 분석 ㄴ. 국정 감사는 국회가 매년 정기적으로 국정 전반을 감사하는 권한이고, 국정 조사는 필요한 경우에 특정한 사안을 조사할 수 있는 권한이다.
ㄹ. 국회 본회의를 통과한 법률안은 정부로 이송된 후 대통령이 공포해야 법률로 확정된다.

08 상임 위원회를 통과한 법률안은 본회의를 거쳐 재적 의원 과반수 출석과 출석 의원 과반수 찬성으로 의결된다.

09 **모범 답안** 국회의 입법 기능으로는 법률의 제정 및 개정권, 헌법 개정안 제출, 조약의 체결에 관한 동의권이 있다.

채점 기준	배점
국회의 입법 기능을 세 가지 서술함	100%
국회의 입법 기능을 두 가지 서술함	70%
국회의 입법 기능을 한 가지만 서술함	30%

02 대통령과 행정부의 역할

개념으로 복습하기 08쪽

❶ 국가 원수 ❷ 대법원장 ❸ 행정부 수반 ❹ 국군 통수권 ❺ 대통령령 발포권 ❻ 법률안 거부권 ❼ 국무총리 ❽ 심의 기관 ❾ 감사원

문제로 복습하기 08쪽 ~ 09쪽

01 ③ 02 ⑤ 03 ① 04 ④ 05 ② 06 ③ 07 ② 08 해설 참조

01 국회에서 만든 법률을 집행하고 여러 가지 정책을 만들어 실행하는 것을 행정이라고 하며, 행정을 담당하는 국가 기관은 행정부이다.

02 ㉠은 대통령이며, 임기는 5년 단임제이므로 중임이 금지된다. 국민의 직접 선거로 선출되는 대통령은 대외적으로 국민을 대표한다.

03 대통령이 신임 헌법 재판소장을 지명한 것은 국가 원수로서 헌법 기관 구성 권한을 행사한 것이다. 국회가 대통령의 헌법 재판소장 임명 동의안을 처리한 것은 입법부인 국회가 행정부를 견제할 수 있는 권한이 있음을 보여 주는 사례이다.

04 국무 회의는 행정부 최고 심의 기관이며, 행정부의 주요 정책에 대한 최종적인 결정권은 대통령이 행사한다.

05 대통령의 권한 중 행정부 수반으로서의 권한은 국정 조정권, 행정부 구성 및 지휘·감독권, 국군 통수권, 행정부의 공무원 임면권, 대통령령 발포권 등이다. ② 계엄 선포권은 국가 원수로서의 권한 중 하나이다.

06 국회가 제정한 법률과 관련한 정책을 실행하기 위해 국무위원들이 모여 회의를 하고 있으므로 이 회의는 행정부 국무 회의이다.
오답 분석 ㄱ. 법률을 만드는 것은 국회의 권한이다.
ㄹ. 국무 회의는 국회의 동의와 상관없이 필요시 언제든지 개최할 수 있다.

07 ㉠은 대통령 직속의 헌법 기관인 감사원 국가의 모든 수입과 지출을 검사한다. 또한 행정 기관과 공무원의 직무를 감찰한다.
오답 분석 ㄴ. 구체적인 행정 사무의 집행은 행정 각부에서 시행한다.
ㄹ. 예산안 심의·의결은 국회의 권한이다.

08 **모범 답안** 행정부의 주요 정책을 심의하는 행정부 최고의 심의 기관이다.

채점 기준	배점
국무 회의의 기능을 정확하게 서술함	100%
국무 회의의 기능을 서술하였으나, 표현이 미흡함	50%

03 법원과 헌법 재판소의 역할

개념으로 복습하기 10쪽

❶ 공정한 재판 ❷ 대법원 ❸ 고등 법원 ❹ 지방 법원 ❺ 기본권 보장 ❻ 위헌 법률 ❼ 헌법 소원 ❽ 국회 ❾ 권한 쟁의 ❿ 정당 해산

문제로 복습하기 10쪽 ~ 11쪽

01 ① 02 ② 03 ① 04 ⑤ 05 ④ 06 ③ 07 ③ 08 해설 참조

01 제시된 헌법 조항에 따라 공정한 재판을 하기 위한 사법권의 독립이 보장된다.

오답 분석 ㄷ. 법관도 탄핵 소추 대상이 될 수 있다.
ㄹ. 법률 제정은 국회의 권한이다.

02 ㉠은 고등 법원, ㉡은 지방 법원이다. 지방 법원은 1심 사건과 지방 법원 단독 판사의 판결에 대한 항소 사건(2심)을 재판한다.

오답 분석 ㄴ. 2심 판결에 불복하여 3심 재판을 청구하는 상고 사건 재판은 최종심이므로 대법원이 담당한다.
ㄹ. 가사 사건과 소년 보호 사건은 가정 법원이 담당한다.

03 명령·규칙 또는 처분이 헌법이나 법률에 위반되는지를 최종적으로 심사하는 곳은 대법원이다. 대법원은 사법부의 최고 법원으로, 최종심(3심)을 담당한다.

04 이혼 소송은 가사 사건이다. 가정 법원은 가사 사건과 소년 보호 사건을 담당한다.

05 헌법 재판소는 헌법 재판을 담당하는 기관으로서 재판을 통해 헌법 질서를 보호하고 국민의 기본권을 보장한다. 법률이 헌법에 위배되는지를 결정하는 위헌 법률 심판은 헌법 재판소의 권한이다.

06 탄핵 소추안 가결은 국회의 권한에 해당한다. 국회가 탄핵 소추하면 헌법 재판소가 탄핵 심판을 한다.

오답 분석 ㄱ. A는 국회, B는 헌법 재판소이다.
ㄹ. ㉡은 헌법 재판관으로 국회의 동의를 얻어 대통령이 임명한다.

07 공권력에 의해 국민의 기본권이 침해된 경우, 당사자인 국민이 직접 헌법 재판소에 헌법 소원을 요청할 수 있다. 헌법 소원을 통해 위헌 결정이 내려지면 해당 법률은 효력을 상실하게 된다.

오답 분석 ㄱ. A는 헌법 소원 심판이며, 기본권이 침해된 국민이 직접 헌법 재판소에 청구한다.
ㄹ. ㉡에 해당하는 기본권은 자유권이다.

08 **모범 답안** 국가 기관이나 지방 자치 단체 간의 권한 분쟁을 해결하는 심판이다.

채점 기준	배점
권한 쟁의 심판의 의미를 정확하게 서술함	100%
단순하게 권한 분쟁을 해결한다는 의미만을 서술함	50%

Ⅲ 경제생활과 선택

01 합리적 선택과 경제 체제

개념으로 복습하기 12쪽

❶ 생산 ❷ 생산 요소 ❸ 희소성 ❹ 기회비용 ❺ 편익 ❻ 생산 방법 ❼ 시장 경제 체제 ❽ 혼합 경제 체제

문제로 복습하기 12쪽 ~ 13쪽

01 ④ 02 ② 03 ③ 04 ② 05 ③ 06 ④ 07 ② 08 해설 참조

01 소비 활동은 생활에 필요한 재화나 서비스를 구매하여 사용하는 활동이다. ㄴ, ㄹ은 소비 활동에 포함된다.

오답 분석 ㄱ. 의사의 환자 진료 활동은 생산, ㄷ. 배당금을 받는 것은 분배 활동이다.

02 (가)는 생산 활동, (나)는 분배 활동이다.

03 사례의 에어컨과 같이 욕구에 비해 이를 충족할 수 있는 자원이 부족한 상태를 희소성이 있다고 한다.

04 희소성은 시대와 장소가 달라지면서 변하는 인간의 필요와 욕구에 따라 달라질 수 있다.

05 (가)는 자원의 희소성, (나)는 생산물의 종류와 수량, (다)는 생산 방법, (라)는 분배의 문제이다.

오답 분석 ① 희소성은 자원이 인간의 욕구에 비해 부족한 상태이다.
② (나)는 생산 품목과 수량을 결정하는 문제이다.
④ 사업 품목 결정은 (나)와 관련된다.
⑤ 모든 경제 문제는 효율성을 고려하여 해결한다.

06 기회비용은 어떤 것을 선택함으로써 포기하게 되는 여러 대안이 갖는 가치 중 가장 큰 것이다.

07 A는 계획 경제 체제, B는 시장 경제 체제이다. 시장 경제 체제는 계획 경제 체제보다 자원 배분의 효율성이 높고 시장 기구의 역할을 중시하지만 개인 간 소득 불평등 문제, 환경 오염, 실업 문제가 발생할 가능성이 더 크다.

08 **모범 답안** 오늘날은 대부분 국가들이 시장 경제 체제와 계획 경제 체제를 혼합한 혼합 경제 체제를 채택하고 있다.

채점 기준	배점
시장 경제 체제, 계획 경제 체제, 혼합 경제 체제를 사용하여 매끄러운 문장으로 표현함	100%
시장 경제 체제, 계획 경제 체제, 혼합 경제 체제를 사용하였지만 의미가 정확하게 전달되지 않음	70%
혼합 경제 체제만 언급하였고, 경제 체제에 대한 설명이 없음	30%

02 기업의 역할과 사회적 책임

개념으로 복습하기 14쪽

❶ 생산 ❷ 이윤 ❸ 소득 ❹ 윤리적 ❺ 환경
❻ 노동자 ❼ 혁신

문제로 복습하기 14쪽 ~ 15쪽

01 ⑤ 02 ② 03 ① 04 ④ 05 ② 06 ③ 07 ①
08 ⑤ 09 해설 참조

01 기업은 생산 활동의 주체로, 기술 혁신을 위한 연구 개발에 투자함으로써 경제 성장을 촉진하며, 근로자를 고용하고 일한 대가로 임금을 지급한다.
오답 분석 ⑤ 세금으로 재화를 공급하는 주체는 정부이다.

02 임금, 이자, 지대가 ㉡에서 ㉠으로 흘러가는 것으로 보아 ㉠은 가계, ㉡은 기업이다. 가계는 재화와 서비스를 소비하는 경제 주체이다.
오답 분석 ① 이윤 극대화를 추구하는 것은 ㉡ 기업이다.
③ 가계와 기업 모두 효율성을 고려한다.
④ 기업이 가계에 일자리를 제공하고 임금을 지급하여 소득을 창출한다.
⑤ 가계와 기업 모두 희소성 때문에 선택의 문제에 직면하게 된다.

03 A는 가계에서 기업에 제공하는 것이므로, 노동, 토지, 자본이 들어갈 수 있고, B는 기업에서 가계로 제공되는 것이므로, 재화와 서비스가 해당된다.

04 기업의 사회적 책임을 설명하고 있다. 기업의 사회적 책임은 기업이 기업 관련 이해 관계자와 사회 전반에 걸쳐 져야 할 법적·윤리적·자선적 책임을 말한다.

05 제시문은 △△사의 현지 공장이 들어선 지역에는 고용 창출이 이루어져 지역 경제가 활성화되었다는 내용이다. 고용과 소득을 창출하는 기업의 역할이 강조되고 있다.

06 '이것'은 혁신을 말하며 혁신은 새로운 제품의 개발, 비용을 절감하는 새로운 생산 방식의 도입, 새로운 시장 개척 등을 총칭하는 개념이다.

07 제시문은 기업이 소비자를 위해 안전한 제품을 만들어 소비자의 권익을 보호하는 사례이다.

08 △△ 기업은 생산 과정에서 정당한 임금과 안전한 작업 환경을 제공해야 하는 사회적 책임을 다하지 못하였다.

09 **모범 답안** □□ 기업은 '혁신'을 추구하여 새로운 상품을 개발함으로써 기업의 성장을 끌어냈다.

채점 기준	배점
혁신과 새로운 상품 개발을 사용하여 매끄러운 문장으로 표현함	100%
혁신을 썼지만 기업이 성공한 이유 설명이 충분하지 못하였음	70%
혁신만 언급하고 성공한 이유 설명이 없음	30%

03 바람직한 금융 생활

개념으로 복습하기 16쪽

❶ 소득 ❷ 소비 ❸ 주식 ❹ 채권 ❺ 안전성
❻ 유동성 ❼ 신용

문제로 복습하기 16쪽 ~ 17쪽

01 ③ 02 ⑤ 03 ① 04 ⑤ 05 ② 06 ① 07 ③
08 ⑤ 09 해설 참조

01 중·장년기는 소득이 가장 높은 시기이지만 자녀 교육과 주택 마련, 자녀 결혼 등으로 소비도 많은 시기이다.
오답 분석 ①, ② 결혼 전 청년기과 은퇴 이후에는 거의 대부분 소비가 소득보다 많다.
⑤ 소득이 발생하는 기간은 제한적이지만 소비는 꾸준히 발생한다.

02 자산 관리는 일생 동안 중요하게 생각해야 하며, 현재의 만족만 추구하다 보면 노후 생활이 어려워질 수 있다.

03 합리적인 자산 관리를 위해서는 수익성, 안전성, 유동성을 고려해야 한다.

04 은행 예금은 유동성이 높은 편이며 이자 수익을 기대할 수 있고, 안전성이 높은 상품이다.
오답 분석 ②, ③, ④ 배당금이 지급되는 것은 주식이며, 주식 투자는 시세 차익을 누릴 수 있지만 자산 가치의 변동이 비교적 심한 편이다.

05 A는 채권, B는 주식, C는 예금이다. 주식의 소유자는 주주이다.
오답 분석 ① 채권은 국가와 지방 자치 단체, 기업 등이 발행할 수 있다.
③, ④ 은행 예금은 유동성이 높은 금융 상품이며 주식과 달리 원칙적으로 만기가 있는 상품이다.
⑤ 채권과 은행 예금 모두 이자가 지급된다.

06 '100−나이의 원칙'은 나이가 들수록 안전성이 높은 자산에 투자해야 함을 의미한다. 주식은 안전성이 낮은 금융상품이므로 나이가 들수록 투자 비중을 줄여야 한다.

07 미래의 소비에 대비한 저축의 필요성을 보여 주는 우화이다. 생애 주기를 고려한 자산 관리의 필요성을 시사한다고 볼 수 있다.

08 신용은 돈을 빌리는 상황에서 필요하다.

09 **모범 답안** 갑은 수익성은 높으나 원금 손실의 위험성이 큰 주식에 퇴직금을 전부 투자하였기 때문이다.

채점 기준	배점
주식과 원금 손실의 위험성을 넣어서 매끄럽게 설명함	100%
주식은 썼지만 위험성의 이유는 설명하지 않았음	70%
주식만 언급하였음	30%

Ⅳ 시장 경제와 가격

01 시장의 의미와 역할

개념으로 복습하기 18쪽

❶ 교환 ❷ 화폐 ❸ 수요자 ❹ 거래 비용 ❺ 거래 형태 ❻ 생산물 ❼ 생산 요소 ❽ 전자 상거래

문제로 복습하기 18쪽 ~ 19쪽

01 ④ 02 ① 03 ⑤ 04 ③ 05 ③ 06 ① 07 ② 08 ⑤ 09 해설 참조

01 시장은 수요자와 공급자가 거래하는 곳이다. 상품이 거래되는 구체적인 장소뿐 아니라, 수요자와 공급자 간의 거래 활동을 통해 가격이 형성되고 교환이 이루어지는 모든 곳을 시장이라고 한다.

02 (가)는 분업, (나)는 특화에 대한 설명이다.

03 시장의 종류는 거래 형태에 따라 보이는 시장과 보이지 않는 시장으로 나누어지는데 보이지 않는 시장에서는 거래가 구체적으로 드러나지 않는다. 인터넷 쇼핑몰, 게임 아이템 거래 시장은 보이지 않는 시장에 해당된다.
오답 분석 ㄱ, ㄴ은 보이는 시장이다.

04 제시된 사진은 노동 시장의 모습이다. 노동 시장에서는 노동력이라는 생산 요소가 거래되며, 노동력을 제공하는 주체는 가계이고, 사고자 하는 주체는 기업이다.

05 생산물 시장은 생활에 필요한 재화나 서비스가 거래되는 시장이다. ㄱ, ㄹ은 생산 요소 시장으로 토지, 노동력 같은 생산 요소가 거래되고 있다.

06 A는 보이는 시장, B는 보이지 않는 시장이다. 대형마트와 편의점은 보이는 시장이다. 보이지 않는 시장은 인터넷 쇼핑몰, 전자 상거래 등을 포함하는데 정보 통신 기술이 발달하면서 증가 추세에 있다. 전통사회의 구성원들은 보이는 시장에서 주로 활동하였다. 재화와 서비스는 보이는 시장, 보이지 않는 시장 모두에서 거래된다.

07 외환 시장과 인터넷 쇼핑몰은 구체적인 장소가 없는 보이지 않는 시장이다.
오답 분석 ㄴ. 보이지 않는 시장에서도 재화가 거래된다.
ㄹ. 시장은 수요자와 공급자를 연결하여 일일이 거래할 상대방을 직접 찾아다니지 않아도 된다.

08 제시된 그림에서는 스마트폰에서 모바일 쇼핑 앱에 접속하여 서적을 구매하고 있다. 이처럼 인터넷 등 정보 통신망을 이용하는 거래를 전자 상거래라고 한다. 전자 상거래 시장은 인터넷 등 정보 통신망을 이용하여 거래하므로, 수요자와 공급자가 직접 대면하지 않고 거래가 이루어진다.

09 **모범 답안** 주식 시장이며, 거래 형태에 따라 거래 모습이 드러나지 않는 보이지 않는 시장, 거래 상품의 종류에 따라 자본인 주식이 거래되는 생산 요소 시장이다.

채점 기준	배점
주식 시장, 보이지 않는 시장, 생산 요소 시장을 모두 사용하여 정확하게 설명하였음	100%
주식 시장은 썼지만 보이지 않는 시장과 생산 요소 시장 중 하나만 맞게 설명하였음	50%
주식 시장만 썼음	30%

02 수요 · 공급과 시장 가격의 결정

개념으로 복습하기 20쪽

❶ 수요량 ❷ 우하향 ❸ 공급량 ❹ 우상향 ❺ 시장 가격 ❻ 수요자 ❼ 상승 ❽ 공급자 ❾ 하락 ❿ 효율적

문제로 복습하기 20쪽 ~ 21쪽

01 ③ 02 ③ 03 ② 04 ② 05 ② 06 ④ 07 ③ 08 ③ 09 해설 참조

01 ㉠에는 수요, ㉡에는 수요량이 들어갈 수 있다.

02 제시된 그래프는 수요 곡선으로 ㉠은 수요량이다. 수요 곡선은 가격의 변동에 따른 수요량의 변동을 나타내며, 가격과 수요량이 음(−)의 관계를 그래프로 나타낸 것이다.

03 수요 법칙에 따르면 가격이 상승하면 수요량이 감소한다.
오답 분석 ① 가격과 공급량은 양(+)의 관계이다.
③ 가격이 내리면 공급량은 감소한다.
④, ⑤ 수요 곡선은 우하향, 공급 곡선은 우상향한다.

04 표에는 가격이 오르면 수요량이 감소하는 수요 법칙이 나타나 있으며, 수요 법칙을 나타낸 수요 곡선은 우하향하는 모양이다.
오답 분석 ㄴ. 가격과 수요량 사이에는 음(−)의 관계가 나타난다. ㄹ. 표의 내용과 관련 없다.

05 시장에서 어떤 상품의 가격이 오르면 그 재화의 수요량은 감소하고 공급량은 감소한다.
오답 분석 ㄴ, ㄹ. 가격이 오르면 수요량이 감소하거나 공급량이 증가한다.

06 그래프는 공급 곡선으로 ㉠은 공급량이다. 공급 곡선은 가격의 변동에 따른 공급량의 변동을 보여 주며, 가격과 공급량 간 양(+)의 관계를 그래프로 나타낸 것이다. ⑤ 일정한 가격 수준에서 어떤 상품을 판매하고자 하는 욕구는 공급이다. 공급량은 어떤 가격에서 공급자가 판매하려는 상품의 구체적인 양이다.

07 초과 수요 상태에서는 수요자들 간의 경쟁으로 상품의 가격이 상승한다.

08 수요 곡선과 공급 곡선이 만나는 20,000원이 균형 가격, 5,000개가 균형 거래량이다. 가격이 30,000원일 때 초과 공급이 발생한다.
오답 분석 ㄱ. 가격이 10,000원일 때 수요량이 공급량보다 많다.
ㄹ. 가격이 40,000원이라면 초과 공급으로 공급자간 경쟁이 발생하여 가격은 내려간다.

09 **모범 답안** 가격이 오르면 수요량이 감소하고 가격이 내리면 수요량이 증가하여 가격과 수요량은 음(−)의 관계이다. 반면 가격이 오르면 공급량이 증가하고 가격이 내리면 공급량이 감소하여 가격과 공급량은 양(−)의 관계이다.

채점 기준	배점
가격과 수요량의 관계, 가격과 공급량의 관계를 모두 정확하게 설명하였음	100%
가격과 수요량의 관계, 가격과 공급량의 관계를 모두 설명하였으나 그 내용이 부족함	70%
가격과 수요량의 관계, 가격과 공급량의 관계 중 한 가지만 정확하게 설명하였음	30%

03 시장 가격의 변동

개념으로 복습하기 22쪽

❶ 가격 ❷ 증가 ❸ 감소 ❹ 상승 ❺ 상승
❻ 증가 ❼ 하락 ❽ 생산 기술 ❾ 감소 ❿ 상승
⓫ 하락 ⓬ 하락 ⓭ 상승

문제로 복습하기 22쪽 ~ 23쪽

01 ① 02 ② 03 ⑤ 04 ③ 05 ④ 06 ⑤ 07 ③
08 ③ 09 해설 참조

01 제시된 그래프는 수요가 증가하여 수요 곡선이 오른쪽으로 이동하였으므로, ① 소비자의 기호 증가가 원인이 될 수 있다.
오답 분석 ②, ③, ⑤는 수요가 감소하여 수요 곡선이 왼쪽으로 이동하는 원인이 된다.
④ 가격은 수요 곡선상에서의 이동 원인이다.

02 제시된 상황에 따르면 햄버거는 피자의 대체재이다. 대체재인 햄버거 가격이 하락하면 피자 대신 햄버거를 소비하려 하여 피자의 수요가 감소한다.

03 팥은 단팥빵의 생산 요소이다.

04 보완재의 가격이 상승하면 해당 상품의 수요가 감소하여 균형 가격이 하락한다.
오답 분석 ① 수요가 증가하면 균형 가격은 상승한다.
② 수요가 감소하면 균형 거래량도 감소한다.
④ 대체재의 가격이 하락하면 그 상품은 수요가 감소하여 균형 거래량이 감소한다.
⑤ 공급이 증가하면 균형 가격은 하락한다.

05 수요 곡선이 왼쪽으로 이동한 것은 수요 감소를 의미한다. 대체재의 가격이 하락하면 해당 재화의 수요는 감소한다.
오답 분석 ① 설탕 가격의 하락, ③ 커피 수요자 수의 증가는 수요 증가를 가져와 수요 곡선이 오른쪽으로 이동한다.
② 커피 가격 상승은 수요 곡선상의 이동으로 나타난다.
⑤ 커피를 재배하는 나라가 늘어나는 것은 공급의 변동을 가져온다.

06 제시된 사례에서 자전거의 가격이 올라 롤러브레이드 수요가 증가하고 자전거 수요량은 감소하였다. 자전거와 롤러브레이드는 대체재 관계에 있으며 자전거 대신 롤러브레이드를 구입하면 롤러브레이드의 수요 곡선은 오른쪽으로 이동하게 된다.

07 사과의 수확량이 줄어든 것은 공급 감소 요인이므로 공급 곡선은 왼쪽으로 이동한다. 추석 명절을 맞아 사과를 찾는 사람들이 늘어난 것은 수요 증가 요인으로 수요 곡선은 오른쪽으로 이동한다.

08 사과의 수요가 늘고 공급이 줄어 가격은 상승한다. 수요 증가 폭이 공급 증가 폭보다 커 균형 거래량은 증가한다.

09 **모범 답안** 두 변화는 모두 삼겹살 수요 증가 요인이다. 따라서 삼겹살의 균형 가격은 상승하고, 균형 거래량은 증가할 것이다.

채점 기준	배점
수요 증가, 균형 가격 상승, 균형 거래량 증가 등의 시장 변화를 모두 정확하게 설명하였음	100%
수요, 균형 가격, 균형 거래량은 모두 언급했으나 변화 과정이 정확하게 전달되지 않았음	70%
수요, 균형 가격, 균형 거래량 중 빠트린 부분이 있음	30%

V 국민 경제와 국제 거래

01 국내 총생산과 경제 성장

개념으로 복습하기 24쪽

❶ 최종 시장 가치 ❷ 부가 가치 ❸ 빈부 격차
❹ 시장 ❺ 경제 규모 ❻ 국민 소득 ❼ 빈부 격차 ❽ 경제 개발 계획

문제로 복습하기 24쪽 ~ 25쪽

01 ⑤ 02 ② 03 ② 04 ② 05 ④ 06 ① 07 ③
08 ③ 09 해설 참조

01 국내 총생산은 재화와 서비스의 가치를 모두 포함한다. 또한, 국적에 상관없이 국내에서 생산된 부가 가치를 모두 더한 것이다.

02 국내 총생산은 생산자의 국적이 아니라 국경을 기준으로 하여 생산물들의 가치를 더한 지표이다.
오답 분석 ① 보통 1년을 기준으로 한다.
④ 중간 생산물은 포함하지 않으며 최종 생산물의 합이다.
⑤ 시장에서 거래된 것만 포함한다.

03 국내 총생산은 최종 생산물의 가치만을 포함하기 때문에 TV와 자동차의 가치를 합한 1,000만 원이 국내 총생산이다. 자동차 생산을 위해 수입한 철강은 중간 생산물이므로 국내 총생산에 포함하지 않는다. 아프리카에 원조한 쌀과 보육원에 기부한 피자는 시장을 거치지 않은 것이므로 국내 총생산에 포함하지 않는다.

04 최종 생산물이란 중간 생산물을 거쳐 최종적으로 만들어진 생산물이다. 사례에서는 칼국수가 최종 생산물이기 때문에 1,300만 원이 국내 총생산이다.
오답 분석 ① 국내 총생산은 1,300만 원이다.
③ 농부가 생산한 부가 가치는 200만 원이다.
④ 각 생산 단계의 부가 가치의 합은 최종 생산물의 가치이므로 1,300만 원이다.
⑤ 제분업자에 의해 생산된 부가 가치는 500만 원(700만 원−200만 원)이다.

05 주부의 가사 노동, 봉사 활동, 지하 경제처럼 시장에서 거래되지 않는 것은 국내 총생산에 포함하지 않는다. 따라서 국내 총생산은 한 나라의 경제 활동 규모를 정확히 반영하지 못한다는 한계를 가진다.

06 천연 자원, 생산 기술, 정부 정책, 기업가 정신은 경제 성장 요인이지만, ① 정부 형태는 경제 성장의 요인과 직접적인 관련이 없다.

07 한 나라의 경제가 성장한다고 하여 반드시 소득 불평등 정도가 완화되는 것은 아니다.

08 제시된 그래프를 보면 지속하여 경제가 성장하고 있다. 경제가 성장하면 기대 수명이 길어지고 자동차 등록 대수가 많아진다. 반면 문맹률은 낮아지고 의사 천 명당 인구수는 줄어든다.

09 **모범 답안** 경제가 성장하면 1인당 국내 총생산이 증가하게 되고 국민의 소득 수준이 높아지면서 건강, 교육 등과 관련된 삶의 질이 같이 개선된다.

채점 기준	배점
국내 총생산이 증가하면 경제가 성장하고, 경제가 성장하면 삶의 질이 개선됨을 정확하게 서술하였음	100%
경제가 성장하면 삶의 질이 개선된다는 점을 설명과 함께 정확하게 서술하였음	50%
경제가 성장하면 삶의 질이 개선된다고만 서술하였음	30%

02 물가 상승과 실업

개념으로 복습하기 26쪽

❶ 평균 ❷ 통화량 ❸ 하락 ❹ 수입 ❺ 실업자
❻ 생산 구조 ❼ 마찰

문제로 복습하기 26쪽 ~ 27쪽

01 ④ 02 ④ 03 ④ 04 ② 05 ④ 06 ⑤ 07 ②
08 ⑤ 09 ④ 10 해설 참조

01 물가 지수란 물가의 움직임을 한눈에 알아볼 수 있도록 숫자로 나타낸 지표이다.

02 물가가 상승하면 건전한 투자보다는 단기간의 차익을 노리는 투기가 성행하는 경향이 있다.

03 인플레이션이 발생하면 돈의 가치가 떨어져 상대적으로 돈을 빌린 사람이 유리하다. 또한 외국 상품이 상대적으로 싸져 수입이 늘어나 수입업자가 유리하다.
오답 분석 ㄱ. 임금 근로자와 ㄷ. 은행에 돈을 예금한 사람은 돈의 가치가 떨어지므로 불리하다.

04 물가 상승은 총수요가 총공급보다 많을 때, 생산 비용이 상승할 때, 통화량이 많을 때 발생한다. 따라서 물가가 상승하면 정부는 통화량을 줄이기 위해 이자율을 올려 저축을 유도하는 대책을 실시해야 한다. ② 통화량을 늘리면 물가가 더욱 상승한다.

05 제시된 사례들은 통화량의 증가, 생산 비용의 증가이다. 이는 모두 물가 상승의 원인과 관련된다.

06 ㄱ. 계절적 실업은 계절의 변화에 따라 고용 기회가 줄어드는 경우이고, ㄴ. 경기적 실업은 경기 침체로 기업이 고용을 줄이는 경우이다.

07 실업률은 전체 인구가 아닌 취업자와 실업자로 구성된 '경제 활동 인구'에서 실업자가 차지하는 비율을 의미한다.

08 실업자는 일할 능력과 의사가 있으나 일자리가 없어서 일을 못하는 사람들이다. ㄷ은 마찰적 실업으로 인한 실업자, ㄹ은 계절적 실업으로 인한 실업자에 해당한다.
오답 분석 ㄱ. 구직 단념자는 일할 의사가 없으므로 실업자에 해당하지 않는다.
ㄴ. 일할 의사가 없는 주부는 실업자에 해당하지 않는다.

09 실업은 가계 소득의 감소로 인한 소비 위축을 가져오고, 이는 경제 전반에 걸쳐 부정적인 영향을 끼친다.

10 **모범 답안** 마찰적 실업이며, 이를 해결하기 위해서는 맞춤형 취업 정보를 제공해야 한다.

채점 기준	배점
마찰적 실업을 언급하고 해결책을 정확하게 제시함	100%
마찰적 실업을 언급하고 해결책을 제시하였으나 설명이 부족함	70%
마찰적 실업만 언급하고 해결책을 제시하지 않음.	30%

03 국제 거래와 환율

개념으로 복습하기 28쪽

❶ 국경 ❷ 무역 장벽 ❸ 교통 ❹ 자유 무역 협정
❺ 교환 비율 ❻ 외환 시장 ❼ 증가 ❽ 증가
❾ 상승 ❿ 감소

문제로 복습하기 28쪽 ~ 29쪽

01 ⑤ 02 ① 03 ④ 04 ⑤ 05 ③ 06 ④ 07 ③
08 ① 09 해설 참조

01 ㉠에 알맞은 말은 국제 거래이다.

02 국제 거래가 확대된 배경에는 교통 및 통신의 발달, 세계화와 개방화의 흐름, 자유 무역주의의 확산이 있다. ① 보호 무역주의란 국내 산업 보호를 위해 무역을 제한하는 것을 의미한다.

03 제시된 두 상황에서 서비스나 노동, 자본 등 생산 요소의 국가 간 이동이 활발하다는 것을 알 수 있다. 오늘날에는 재화뿐 아니라 서비스 및 노동과 자본 등 생산 요소의 국가 간 이동도 활발하다.

04 국제 거래는 재화와 서비스의 수출과 수입 과정에서 관세나 무역 장벽 등 제한이 존재한다. 또한, 나라마다 법과 제도가 다르므로 재화나 서비스의 이동이 자유롭지 않고 제한될 수 있다.
오답 분석 ㄱ. 나라마다 다른 생산비는 국제 무역이 발생하는 원인이다.
ㄴ. 국제 거래에서 생산 요소의 이동에는 서로 다른 법과 제도의 규제로 인하여 제한이 따른다.

05 외화의 수요는 외화가 외국으로 나갈 때 생긴다. 따라서 외국 상품의 수입, 자국민의 해외 여행, 해외 투자와 유학 등은 외화의 수요에 영향을 주는 요인이다. ③ 차관은 외국에서 돈을 빌리는 경우를 의미하기 때문에 이는 외화의 공급과 관련된 요인이다.

06 그래프에서 외화의 공급 곡선이 오른쪽으로 이동하였으므로 이는 외화 공급의 증가를 나타낸다. ④ 국내에 여행 온 외국인 관광객들은 외화를 공급한다.

07 외국인의 국내 투자가 증가하면 외화의 공급이 증가하여 환율이 하락한다.

08 환율이 하락하면 원화의 가치는 상승하고, 외화로 표시되는 우리나라 상품의 가격이 상승하여 수출이 감소한다.

09 **모범 답안** 소비자의 경우 질 좋고 저렴한 제품을 선택할 수 있고, 기업은 외국 기업과의 경쟁으로 효율성과 생산성을 향상할 수 있다.

채점 기준	배점
소비자와 기업에 미치는 영향을 모두 정확하게 서술하였음	100%
소비자와 기업에 미치는 영향을 모두 서술하였으나, 그 내용이 부족함	70%
소비자와 기업에 미치는 영향 중 한 가지만 서술하였음	30%

Ⅵ 국제 사회와 국제 정치

01 국제 사회의 특성과 행위 주체 ~ 02 국제 사회의 모습과 공존을 위한 노력

개념으로 복습하기 30쪽

❶ 주권 ❷ 중앙 정부 ❸ 힘의 논리 ❹ 국가
❺ 개인 ❻ 다국적 기업 ❼ 갈등 ❽ 자원
❾ 외교 ❿ 민간 외교

문제로 복습하기 30쪽 ~ 31쪽

01 ③ 02 ⑤ 03 ⑤ 04 ② 05 ④ 06 ⑤ 07 ⑤
08 ① 09 ④ 10 ③ 11 해설 참조

01 국제 사회란 독립된 주권을 가진 국가가 상호 교류하는 사회를 의미한다.

02 국제 사회에서 이루어지는 정치 행위나 경제 행위는 한 나라를 넘어서 주변 국가 및 지구촌 전체에 영향을 미친다.

03 국제 사회에서 환경과 같은 국제 문제가 발생하면 이를 해결하기 위해 국가들 간에 서로 협력한다.

04 국가는 일정한 영토와 국민을 바탕으로 주권을 가지며, 국제 사회의 가장 기본 단위이자 핵심이 되는 행위 주체이다.

05 그린피스와 같은 국제 비정부 기구는 개인 또는 민간단체로 구성된다.

06 각국마다 정치 및 경제 체제는 동일하지 않으며, 이는 경쟁과 갈등의 주요 원인이라고 볼 수 없다.

07 팔레스타인과 이스라엘 분쟁은 대표적인 민족, 종교, 영토 분쟁이다. 처음에 영토 분쟁으로 시작하여 종교, 민족적 분쟁으로 확산된 사례이다.

08 국제 사회의 협력은 특정 국가의 노력만으로는 해결이 불가능하다.

09 외교는 한 국가가 국제 사회에서 평화적인 방법으로 자국의 이익을 달성하기 위해 하는 활동을 의미한다.

10 외교 활동은 정치적·경제적 이익을 실현하고 국제적 위상을 높이는 데 이바지한다.
오답 분석 ㄱ. 외교 활동을 통해 국제적 협력이 가능하다.
ㄹ. 갈등을 평화적으로 해결하는 것이 외교의 역할이다.

11 **모범 답안** 국제 사회에는 힘의 논리가 적용되기 때문에 강대국이 더 큰 영향력을 행사한다.

채점 기준	배점
국제 사회의 여러 가지 특성 중 힘의 논리를 정확하게 서술함	100%
단순하게 강대국의 영향력이 더 크다라고만 서술함	50%

03 우리나라의 국가 간 갈등과 해결

개념으로 복습하기 32쪽

❶ 독도 ❷ 국제법 ❸ 동해 ❹ 동북공정
❺ 영토 분쟁 ❻ 세계화 ❼ 대화 ❽ 시민 단체

문제로 복습하기 32쪽 ~ 33쪽

01 ⑤ 02 ③ 03 ③ 04 ② 05 ④ 06 ⑤ 07 ⑤
08 ④ 09 해설 참조

01 일본이 독도를 국제 사법 재판소에 회부하려는 이유는 독도를 국제 분쟁 지역으로 만들기 위해서이다.

02 과거 일본의 지도나 역사책에서도 독도를 우리의 영토로 표기하고 있다.

03 독도는 국제법상으로 명백히 우리나라 영토이다.

04 불법 어선 조업 문제는 우리나라가 중국과 겪는 갈등 사례에 해당한다.
오답 분석 ①, ③, ④, ⑤는 우리나라와 일본이 겪는 갈등에 해당한다.

05 동북공정은 중국의 국경 안에서 전개된 모든 역사를 중국의 역사로 편입하려는 연구로 고조선, 고구려, 발해가 독립된 국가가 아니라 중국의 지방 정권이었다고 역사를 왜곡하고 있다.

06 동북공정은 중국의 국경 안에서 전개된 모든 역사를 중국의 역사로 편입하려는 연구이다.
오답 분석 ㄱ. 동북공정은 만주 지역의 고대 국가였던 고조선, 고구려, 발해가 중국의 지방 정권이었다고 왜곡을 하는 것이다.
ㄴ. 동북공정과 국제 사법 재판소의 해결과는 관련이 없다.

07 주변 국가와는 오랜 역사 속에서 경제적·정치적·문화적으로 긴밀한 관계를 맺고 있으므로 대화나 협상을 통해 평화적이고 합리적으로 문제를 해결해야 한다. ⑤ 국가 간의 관계 단절은 갈등을 해결하는 것이 아니라 갈등을 악화시키는 결과를 가져올 수 있다.

08 한·중·일 세 나라 공동 역사 편찬 위원회의 '공동 역사 교과서' 출간은 세 나라가 자국만의 시각에서 벗어나 서로를 존중하며 올바른 역사 인식을 공유하는 데 목적과 의의가 있다.

09 **모범 답안** 세계화가 진전되면서 국가 간의 상호 의존성이 높아지고 있다. 특히 일본과 중국은 우리나라와 정치·경제적으로 서로에게 미치는 영향이 크기 때문에 서로 간의 협력이 매우 중요하다.

채점 기준	배점
국가 간 협력의 이유를 세계화 및 상호 의존성 증가라는 측면에서 정확하게 서술함	100%
단순하게 국가 간 협력이 필요하다고 서술함	50%

Ⅶ 인구 변화와 인구 문제

01 인구 분포

개념으로 복습하기 34쪽

❶ 북반구 ❷ 아시아 ❸ 농업 ❹ 인문 ❺ 벼농사
❻ 남서부 ❼ 이촌 향도 ❽ 노동력

문제로 복습하기 34쪽 ~ 35쪽

01 ② 02 ③ 03 ③ 04 ④ 05 ① 06 ⑤ 07 ④
08 ① 09 해설 참조

01 ㄱ. 세계 인구의 약 60%가 아시아에 살고 있다. ㄹ. 어업과 농업으로 인한 식량 확보가 가능하고, 내륙이나 산지에 비해 교통이 편리하기 때문이다.
오답 분석 ㄴ. 세계 인구의 대부분은 북반구에 살고 있다.
ㄷ. 육지 면적과 인구 밀도는 비례하지 않는다. 예를들어 육지 면적이 좁고 인구가 많은 경우에는 인구 밀도가 높아지게 된다.

02 온화한 기후가 나타나는 중위도 지역에 많은 인구가 밀집하는 모습을 보이고 있다.
오답 분석 ① 북반구의 육지 면적이 더 넓어서 인구가 남반구에 비해 많이 분포한다.
② 위도가 높아질수록 기온이 낮아져 농업에 불리해진다.
④ 중위도 지역에 인구가 집중된 이유는 온화한 기후가 나타나기 때문이다. 기후는 자연환경에 해당한다.
⑤ 주로 온대와 냉대 기후가 나타나는 지역에 인구가 밀집해 있다.

03 나머지는 모두 인문 환경에 속하는 반면, 넓은 평야는 자연환경에 속한다.

04 ㉠은 서부 유럽으로 산업 발달, 높은 경제 수준 등으로 인해 인구 밀도가 높다. ㉢은 방글라데시로 벼농사에 유리한 자연환경으로 인해 인구 밀도가 높다. ㉡은 사하라 사막으로 건조 기후로 인해, ㉣은 캐나다 북부로 매우 추운 기후로 인해 거주가 매우 불리하여 인구 밀도가 낮다.

05 해당 지역들은 산업이 발달하면서 일자리가 증가하고 소득이 높아져 사람들이 모여들게 된 곳이다.

06 아마존강 유역은 열대 우림 기후로 인해 덥고 습하며 밀림이 형성된 지역으로, 대표적인 인구 희박 지역이다.

07 산업화 이후 일자리, 소득, 편의 시설 등 인문 환경이 중요해졌다. 이로 인해 농촌의 인구가 도시로 이동하는 이촌향도 현상이 심화되면서 인구 분포가 도시 위주의 불균등한 상태를 보이게 되었다. 이로 인해 농촌의 노동력 부족이 매우 심각한 상태다.

08 공업과 서비스업의 비중이 높아지면서 관련 산업이 발달

한 수도권에 인구가 밀집하고 있다.

09 **모범 답안** 산업화 이전 농업 사회에서는 주로 자연환경의 영향을 받아 평야 지역에 인구가 밀집했지만, 산업화 이후에는 산업·경제·일자리 등 인문 환경이 유리한 지역에 인구가 밀집하게 되었다.

채점 기준	배점
인구 분포에 영향을 끼친 요인을 두 시기 모두 정확하게 서술함	100%
한 시기는 정확하게 서술하였지만, 다른 한 시기는 정확히 설명하지 못함	70%
인구 분포에 영향을 끼친 요인을 두 시기 중 한 시기만 서술함	30%

02 인구 이동

개념으로 복습하기 36쪽

❶ 흡인 ❷ 배출 ❸ 일시적 ❹ 강제적 ❺ 선진국 ❻ 경제적 ❼ 다문화 ❽ 이촌 향도 ❾ 노동력

문제로 복습하기 36쪽 ~ 37쪽

01 ③ **02** ④ **03** ② **04** ③ **05** ④ **06** ④ **07** ⑤ **08** ④ **09** 해설 참조

01 실업률이 높다는 것은 일자리가 부족하다는 의미이다. 이것은 배출 요인으로 인구 유출 지역에서 볼 수 있는 특징이다.

02 교통 및 통신의 발달로 외국에서도 본국에 있는 가족들과 연락이 쉽게 닿고, 노동력이 부족한 선진국들이 증가하면서 일자리를 찾으러 외국으로 나가는 개발 도상국 출신의 사람들이 증가하고 있다.
오답 분석 ① 이동 범위에 따른 구분이다.
② 이동 동기에 따른 구분이다.
③ 일시적 이동에 해당하는 설명이다.
⑤ 영구적 이동에 해당한다.

03 노예 무역은 강제적 이동의 대표적인 사례이고, 이촌 향도 현상은 국내의 농촌 지역에서 도시 지역으로의 이동이므로 국내 이동이다. 더불어 일자리를 찾는 이동이라 볼 경우 경제적 이동으로도 분류될 수 있다.
오답 분석 ㄴ. 난민은 정치적 이동에 해당한다.
ㄹ. 종교적 이동으로 분류하며, 대부분 미국에서 정착해서 살아갔기에 영구적 이동으로 분류한다.

04 (가)는 일자리와 높은 소득을 위한 경제적 이동이고, (나)는 공부를 위한 일시적 이동에 해당한다.

05 산유국들이 많은 서남아시아로 일자리를 구하러 경제적 이동을 한다. 종교가 같거나 비슷한 점이 고려되기는 하지만 이동의 궁극적 이유는 경제적인 것이다.

06 1960년대 이후 인구 이동을 보여준다.

07 이주 외국인들의 국적을 보면 대부분 아시아 지역으로, 유럽이나 아메리카보다 거리가 가까운 것은 맞다. 하지만 문화적인 면에서 보면, 종교도 다양하고 문화적으로도 우리나라와 다른 부분이 많아, 종종 문화 갈등이 나타나기도 한다.

08 프랑스가 겪고 있는 사회 문제를 다루고 있다. 과거 프랑스의 식민지였던 아프리카 일부 국가들에서는 이미 프랑스어를 사용하기 때문에, 그리고 이미 자신들의 친척이나 친구들이 살고 있기 때문에 프랑스로의 이동을 선택하는 경우가 많다. 하지만 이슬람교를 믿고 이를 생활 방식에 드러내려는 이들의 모습이 종교적 중립을 추구하는 프랑스의 정책이나 문화와 갈등을 빚는 경우가 종종 발생하면서 사회 문제가 되고 있다.

09 **모범 답안** 노동력이 증가하고 경제가 활성화된다. 또한 다양한 문화권의 사람들이 증가하면서 문화의 다양성이 높아진다.

채점 기준	배점
긍정적인 영향을 두 가지 이상 정확하게 서술함	100%
긍정적인 영향을 두 가지 이상 서술하였지만, 배경 설명을 미흡하게 서술함	70%
긍정적인 영향을 한 가지만 서술함	30%

03 인구 문제

개념으로 복습하기 38쪽

❶ 의학 ❷ 저출산 ❸ 평균 수명 ❹ 노동력 ❺ 부양력 ❻ 남아 선호 ❼ 산아 제한 ❽ 경제 활동 ❾ 실버

문제로 복습하기 38쪽 ~ 39쪽

01 ② **02** ② **03** ⑤ **04** ① **05** ④ **06** ④ **07** ⑤ **08** ④ **09** 해설 참조

01 ㄱ, ㄷ의 이유로 출생률이 높아지고, 사망률이 낮아지면서 인구가 증가하였다.
오답 분석 ㄴ, ㄹ은 선진국에서 저출산 현상이 나타난 이유이다.

02 선진국은 저출산·고령화로 인해 노동력 부족 문제가 발생하였으며, 이를 해결하기 위해 외국인 이주자를 받아들이기도 한다.
오답 분석 ① 산아 제한 정책은 출산율이 부양할 수 있는 수준을 넘어서는 지역에서 실시하는 인구 정책이다. 보통 인구가 너무나 빠르게 증가하는 개발 도상국들에서 실시하고 있다.
③, ④, ⑤ 모두 개발 도상국의 인구 문제에 해당한다.

03 노인 부양 부담 증가는 저출산과 고령화를 겪고 있는 선진국의 인구 문제이다.

04 중국은 인구 증가를 막기 위해 한 자녀 정책을 실시하였다. 하지만 이것이 남아 선호 사상과 맞물리면서 남자가 여자보다 많아지는 ㄴ.성비 불균형에 시달리게 되었고, 출생률 감소로 ㄱ.고령화 문제까지 나타나게 되었다.
오답 분석 ㄷ. 문화적 갈등은 미국, 프랑스 등 선진국에서 이민자의 유입으로 나타나는 문제이다.
ㄹ. 의학 기술의 발달로 사망률은 감소하고 있다.

05 개발 도상국은 급격한 인구 증가로 인해 식량 부족, 일자리 부족 등의 문제를 겪고 있다. 즉 인구 부양력이 인구 증가를 따르지 못하는 점에 대한 고민이 필요하다.
오답 분석 ①, ②, ③, ⑤는 선진국에 해당하는 설명이다.

06 제시된 인구 피라미드는 저출산·고령화 구조를 보이는 선진국의 모습이다. 인구 감소를 겪고 있는 선진국은 출산 장려 정책이 필요한 상황이다.
오답 분석 ②, ⑤는 인구가 급증하는 개발 도상국의 인구 문제 대책이다.

07 (다)는 1970년대에 인구 증가와 성비 불균형을 해결하기 위해 제시한 표어이고, (가)는 1980년대에 인구가 계속 증가하자 한 자녀만 낳자는 의미로 제시한 것이다. 그러나 2000년대에는 저출산 현상이 심화되면서 (나)처럼 출산을 장려하는 방향으로 정책을 바꾸게 되었다.

08 65세 이상 인구 비율이 7% 이상이면 고령화 사회, 14% 이상이면 고령 사회에 속한다. 우리나라는 이미 고령화 사회를 지나 고령 사회, 그 이상의 초고령 사회까지 고민해야 하는 상황이다.
오답 분석 ① 해당 자료는 연령별 인구 비율만 보여주는 것으로 이를 통해 인구 분포를 알 수는 없다.
② 합계 출산율이 나타나 있지 않지만 전체적으로 0~14세 인구 비율이 감소하는 것으로 보아 합계 출산율이 감소했음을 짐작할 수 있다.
③ 기존 우리나라의 가족계획 사업은 인구 증가를 막으려는 출산 억제 방식이었다. 현재는 출산 장려를 통해 인구 감소를 막아야 하는 상황이다.
⑤ 연령 구조만으로 일자리의 변화를 정확하게 예측하긴 어렵다. 다만 이런 상황이 지속될 경우 경제 활동 인구가 감소하면서 일할 사람이 부족해지는 현상은 예상해 볼 수 있다. 현재 일본도 저출산 현상이 오래 지속되어 회사 신입 사원 선발에 어려움을 겪으면서 우리나라를 비롯한 외국인의 채용 비율을 늘려가고 있는 상황이다.

09 **모범 답안** 여성의 사회 진출 증가, 자녀 양육비 부담 증가, 결혼 연령 상승, 결혼 및 가족에 대한 가치관 변화 등이 원인이다.

채점 기준	배점
변화의 원인을 두 가지 이상 정확하게 서술함	100%
변화의 원인을 두 가지 이상 서술하였지만, 인과 관계가 잘 드러나지 않음	70%
변화의 원인을 한 가지만 서술함	30%

Ⅷ 사람이 만든 삶터, 도시

01 세계의 매력적인 도시 ~ 02 도시 내부의 다양한 경관

개념으로 복습하기 40쪽

❶ 2·3차 ❷ 세계 도시 ❸ 생태 도시 ❹ 고산 도시
❺ 도심 ❻ 인구 공동화 ❼ 개발 제한 구역

문제로 복습하기 40쪽 ~ 41쪽

01 ④ 02 ① 03 ④ 04 ④ 05 ④ 06 ① 07 ③
08 ① 09 해설 참조

01 도시는 주변 지역에 재화와 서비스를 제공하는 중심지 역할을 한다.

02 (가)는 세계 도시이다. 세계 도시는 다국적 기업의 본사, 국제기구 본부, 국제적 금융 기관 등이 위치하여 세계적인 영향력을 행사하는 도시를 말한다.

03 (나)는 생태 도시이다.
오답 분석 ① 오랜 역사와 문화를 간직한 도시이다.
② 열대 고산 기후 지역에 발달한 고산 도시, ③ 아름다운 항구 도시이다.
⑤ 오로라를 볼 수 있는 고위도의 도시이다.

04 국제 연합(UN) 본부는 미국의 뉴욕에 위치한다. A는 파리, B는 카이로, C는 싱가포르, D는 뉴욕, E는 리우데자네이루이다.

05 르네상스의 중심 도시이자 바티칸이 위치한 도시는 이탈리아의 로마이다.

06 도심에서 수치가 높게 나타나는 것은 지가, 접근성, 건물의 높이, 주간 인구 밀도 등이다.

07 제시된 사진은 고층 빌딩이 밀집한 도심이다.
오답 분석 ③ 주변 지역에 대한 설명이다.

08 지도는 도심에서 주변 지역으로 학교가 이전한 모습인데, 도심 지역의 주거 기능이 약해지면서 도심 학교의 학생 수가 감소하여 나타난 현상이다.
오답 분석 ㄷ. 주거 지역은 도심에 비해 접근성이 낮다.
ㄹ. 상업과 업무 기능은 도심으로 집중하는 집심 현상이 나타난다.

09 **모범 답안** 도심의 땅값(지가)이 높아져 주거 기능이 도심에서 주변 지역으로 이동하면서 도심의 초등학교 학생 수가 급감하게 되었다.

채점 기준	배점
도심의 지가 변화와 주거 기능의 이전을 들어 서술함	100%
주거 기능이 이전한 내용만 서술함	50%

03 선진국과 개발 도상국의 도시화 ~ 04 살기 좋은 도시

개념으로 복습하기 42쪽

❶ 도시화 ❷ 이촌 향도 ❸ 산업 혁명 ❹ 아시아 ❺ 종착 단계 ❻ 역도시화 ❼ 삶의 질 ❽ 프라이부르크

문제로 복습하기 42쪽 ~ 43쪽

01 ④ 02 ② 03 ③ 04 ③ 05 ② 06 ② 07 ① 08 ④ 09 해설 참조

01 도시화는 산업화와 관련이 깊고 도시화율이 낮은 초기 단계에서 1차 산업 종사자의 비율이 높게 나타난다.

02 (가) 단계는 도시화의 가속화 단계이다.
오답 분석 ①, ⑤ 초기 단계에 해당한다.
③, ④ 종착 단계에 해당하는 설명이다.

03 (가)는 현재 도시화율이 매우 높은 선진국이고, (나)는 도시화가 급격히 진행 중인 개발 도상국의 그래프이다. A는 영국과 미국이므로 선진국, B는 나이지리아와 중국이므로 개발 도상국에 해당한다.

04 아시아와 아프리카에는 많은 개발 도상국이 분포하고 있어 우리나라, 일본 등 일부 국가를 제외하고는 대부분의 국가가 가속화 단계에 속한다.

05 우리나라는 1960년대 산업화와 함께 급격한 이촌 향도가 시작되어 1990년대에 종착 단계에 이를 정도로 빠르게 도시화가 진행되었다.

06 선진국은 도시화가 오랜 기간에 걸쳐 서서히 진행되었기 때문에 도심 부근에 오래되어 낙후된 지역이 나타나고 이곳에 슬럼이 형성되는 경우가 많다. 반면에 개발 도상국의 불량 주택 지구는 급격한 인구 집중으로 인해 주택이 부족하여 무허가 주택과 빈민촌이 만들어지면서 형성된다.

07 디트로이트는 과거 자동차 도시로 유명하였으나, 자동차 산업의 쇠퇴로 지역 경제가 침체되어 빈 건물이 증가하는 등의 도시 문제가 나타났다. 리우데자네이루는 급격한 인구 증가로 도시 기반 시설의 부족 문제가 심각하다.

08 살기 좋은 도시는 자연환경이 아름답고, 편의 시설, 문화·의료 시설 등이 잘 갖추어져 있으며, 사회적으로 안정되어 그곳에 거주하는 사람들의 삶의 질이 높은 곳이다

09 **모범 답안** 개발 도상국은 이촌 향도 현상이 급격히 진행되어 도시로 인구가 집중하면서 주택, 교통, 상하수도 시설 등 도시 기반 시설이 부족해진다.

채점 기준	배점
도시 문제와 원인을 정확하게 서술함	100%
문제와 원인 중 한 가지만 서술함	70%

IX 글로벌 경제 활동과 지역 변화

01 농업의 세계화와 지역의 변화

개념으로 복습하기 44쪽

❶ 교통 · 통신 ❷ 자유 무역 협정 ❸ 상업적 ❸ 자급률

문제로 복습하기 44쪽 ~ 45쪽

01 ④ 02 ① 03 ① 04 해설 참조 05 ① 06 ⑤ 07 ⑤ 08 ② 09 해설 참조

01 우리나라에서 판매되는 가공 식품의 원료가 해외에서 생산된 농산물을 원료로 사용하고 있다는 것이 조사의 주된 내용이므로 '농업 생산의 세계화'의 개념에 해당한다.

02 제시된 글에 따르면 농산물의 생산지에서 소비지까지 이동되는 거리가 증가하였으므로 외국산 농산물의 소비 비중이 높아졌음을 알 수 있다. 로컬 푸드 운동은 농업의 세계화로 인한 문제에 대한 대책에 해당한다.

03 기업적 농업은 기업 중심의 대규모 농업으로, 판매를 목적으로 하는 상품 작물을 재배한다. 이윤을 극대화하기 위해 많은 자본과 기술을 농업에 투입하며 단일 작물을 특화하여 재배한다.

04 **모범 답안** ㉠ 논이 커피 농장으로 이용되면서 쌀 생산량이 감소하였고 이에 따라 식량 자급률이 감소하였다. ㉡ 생태계 파괴, 환경 오염 등의 문제가 발생하였다.

채점 기준	배점
㉠과 ㉡의 문제점을 모두 정확하게 서술함	100%
㉠과 ㉡의 문제점 중 한 가지만 맞게 서술함	50%

05 생산된 농작물은 세계 여러 지역으로 수출되어 소비된다. 농장은 이윤 극대화를 위해 단일 작물을 대규모로 재배한다.

06 지도에 표시된 지역은 대규모로 가축을 기르거나 곡물을 재배하는 기업적 농업이 발달한 지역이다. 기업적 농업은 기업 중심의 대규모 농업으로 판매를 목적으로 하는 상품 작물을 재배한다.

07 우리나라의 곡물 자급률은 100% 이하로 해외에서 곡물을 수입하는 나라이다. 따라서 곡물 수출량의 감소는 옳지 않은 진술이다. 품종 개량, 농기계 보급 등을 통해 농업 생산성은 지속적으로 높아지고 있다.

08 농업 기업은 이윤을 얻기 위해 대규모의 농장을 경영한다. 플랜테이션 농장은 주로 열대 기후 지역의 개발 도상국에 위치하며 커피, 차, 카카오와 같은 기호 작물을 주로 재배한다. 농업의 세계화는 긍정적인 측면도 있으나 환경 오염, 생태계 파괴, 식량 자급률 감소 등 부정적 측면도 있다.

09 **모범 답안** 특정 기업이 농산물의 생산과 공급을 독점하는 경우 기업의 이윤 추구만을 위해 농산물의 유통에 영향력을 행사하게 되고 농산물의 가격이 상승할 수 있다.

채점 기준	배점
다국적 기업의 독점과 이에 따른 문제점에 대해 정확하게 서술함	100%
다국적 기업의 독점과 이에 따른 문제점 중 한 가지만 서술함	50%

02 다국적 기업과 생산 지역의 변화

개념으로 복습하기 46쪽

❶ 본사 ❷ 생산 공장 ❸ 산업 공동화

문제로 복습하기 46쪽 ~ 47쪽

01 ② 02 ④ 03 ⑤ 04 ⑤ 05 ① 06 ④ 07 ④
08 해설 참조

01 기업의 생산 품목은 공산품뿐만 아니라 농산물, 금융 서비스 등으로 다양하다. 무역 장벽을 피하기 위해 선진국에 생산 공장이 위치하는 경우도 있다.

02 아프리카에 판매 지사가 없는 것으로 보아 아프리카에서의 판매량이 적음을 알 수 있다.

03 다국적 기업의 생산 공장이 개발 도상국으로 이전하는 이유는 땅값(지가)과 노동력이 저렴하기 때문이다.

04 공간적 분업의 시작 단계는 B이며, 다국적 기업의 형성 단계는 D이다.

05 미국 북동부의 제조업이 쇠퇴하면서 자동차 생산 공장이 다른 지역으로 이전되었고, 디트로이트의 지역 경제는 극심한 침체를 겪었다.

06 우수한 교육 환경 및 기술 인력 확보는 연구소와 관련이 있다. 기업은 지역의 환경 규제를 피해 생산 공장을 이전하기도 한다. 엄격한 환경 기준을 적용하는 경우 제품의 생산비가 증가하므로 기업의 이윤이 감소하기 때문이다.

07 오스트레일리아 자동차 생산 공장의 철수는 높은 인건비로 인한 가격 경쟁력 약화에서 비롯된 것이다.

08 **모범 답안** 산업 공동화로 인하여 일자리가 대폭 감소하게 되어 지역 경제가 침체하고 인구가 감소하면서 도시가 쇠퇴한다.

채점 기준	배점
지역의 변화를 원인과 함께 정확하게 서술함	100%
지역 변화의 원인과 문제점 중 한 가지 서술이 미흡함	50%

03 서비스업의 변화와 주민 생활

개념으로 복습하기 48쪽

❶ 소비자 ❷ 생산자 ❸ 해외 ❹ 고용 ❺ 자연 환경

문제로 복습하기 48쪽 ~ 49쪽

01 ② 02 ② 03 ① 04 ④ 05 ② 06 ④ 07 ⑤
08 해설 참조

01 서비스업은 소비자의 다양한 요구를 충족해야 하므로 표준화가 어렵다. 따라서 다른 산업에 비해 고용 창출 효과가 크다.

02 ㉠은 소비자 서비스업에 대한 설명이며, ㉡은 생산자 서비스업이다. 음식업과 도·소매업은 소비자 서비스업, 금융업과 광고업은 생산자 서비스업에 해당한다.

03 다국적 기업의 비용 절감을 위해 소비자 전화 상담 서비스(콜센터)와 같은 기능을 개발 도상국으로 분산 운영하는 등 국제 분업이 활발하게 이루어지고 있다.
오답 분석 ② 서비스업의 종류는 더욱 다양해지고 있다.
③ 교통·통신의 발달로 서비스업의 공간적 제약이 감소되었다.
④ 서비스업의 종사자 수는 증가하고 있다.
⑤ 서비스업의 비중은 전 세계적으로 증가하고 있다.

04 콜센터는 기업의 서비스 기능을 다른 국가로 분산 운영하는 것으로 기업 조직 중 일부 기능을 외부에 맡긴 다는 점에서 기업 조직이 단순화되는 과정이라고 할 수 없다.

05 해외 직접 구매로 해외 상품에 대한 구매액이 증가하며, 국내 소매업자들의 매출은 감소한다.
오답 분석 ㄴ. 국내 소매업자들의 매출은 감소한다.
ㄹ. 해외 상품에 대한 구매액은 증가할 것이다.

06 숙박, 음식점 등 편의 시설 등의 개발은 관광지 소음과 쓰레기 발생, 관광지 근처의 건물 임대료 상승으로 지역 주민들에게 어려움을 준다.

07 관광객의 수가 증가하면서 국가 간 상호 의존도가 높아지고 국경의 의미가 점차적으로 약화될 것이다.

08 **모범 답안** 정보 통신 기술의 발달로 해외에서도 고객 서비스를 수행할 수 있기 때문이다. 특히 필리핀은 미국식 영어를 구사하며, 노동비가 저렴하기 때문에 콜센터 입지에 유리하다.

채점 기준	배점
해외 콜센터 운영의 배경과 필리핀의 입지 조건을 정확하게 서술함	100%
해외 콜센터 운영의 배경, 필리핀의 입지 조건 중 하나만 정확하게 서술함	50%

X 환경 문제와 지속 가능한 환경

01 전 지구적 차원의 기후 변화

개념으로 복습하기 50쪽

❶ 인위적 ❷ 온실가스 ❸ 온실 효과 ❹ 기온
❺ 해수면 ❻ 북극해 ❼ 생태계 ❽ 전 지구적
❾ 교토 의정서

문제로 복습하기 50쪽 ~ 51쪽

01 ⑤ 02 ③ 03 ③ 04 ③ 05 ③ 06 ② 07 ⑤
08 ⑤ 09 해설 참조

01 ㄷ. 삼림 파괴는 이산화 탄소를 산소로 바꿔 줄 나무가 줄어드는 것을 의미하며 온실가스 배출이 더 심화된다는 문제를 함께 지니게 된다.
ㄹ. 지구 온난화로 인해 이상 기후 현상이 급격히 증가하고 있다.
오답 분석 ㄱ. 주로 인간의 활동에 의한 것으로 보고 있다.
ㄴ. 기온은 물론, 강수량도 기후 변화로 인해 예상치를 크게 벗어나는 경우가 많아지고 있다.

02 갑작스런 화산 활동은 온실 효과를 일으키는 자연적 요인이다.

03 북극해 지역은 빙하가 녹으면서 오히려 항로의 이용이 더욱 쉬워질 것으로 전망되고 있다.

04 지구 온난화로 인해 인삼의 재배 가능 면적이 감소할 것으로 전망되고 있다.

05 ㉠은 지구 온난화, ㉡은 산호초가 죽는 백화 현상, 태풍의 위력 상승, 난류성 어류의 생존 범위 확대 등이 있다. ㉢은 해수면 상승이다.

06 몰디브는 해수면 상승으로 국토가 사라질 위기에 처해 있다.

07 온실가스에는 메탄, 아산화 질소 등도 있다. 이산화 탄소의 영향이 가장 큰 것은 사실이지만 이런 온실가스의 발생도 줄이려는 노력이 필요하다.

08 온실가스의 배출량이 적은 국가에서 지구 온난화의 피해가 더 크게 나타나기도 한다. 특정 지역에 한정되지 않은 전 지구적 차원의 노력이 필요한 상황이다.

09 **모범 답안** 두 협약 모두 온실가스 배출량 감축을 통해 기후 변화에 대응한다는 목표를 세우고 있다. 교토 의정서는 주요 선진국들의 의무를 강조한 반면, 파리 협정에서는 개발도상국에게도 해당 의무를 부여하고 있다.

채점 기준	배점
두 협약의 공통점과 차이점을 정확하게 서술함	100%
공통점과 차이점 중 한 가지만 적절하게 서술함	50%

02 환경 문제 유발 산업의 이전

개념으로 복습하기 52쪽

❶ 선진국 ❷ 개발 도상국 ❸ 전자 쓰레기 ❹ 교체
❺ 일자리 ❻ 물 ❼ 경제 성장 ❽ 바젤

문제로 복습하기 52쪽 ~ 53쪽

01 ③ 02 ⑤ 03 해설 참조 04 ④ 05 ④ 06 ①
07 ⑤ 08 ② 09 ③

01 세계화로 인해 교통과 통신이 발달하면서 공장의 국제적 이동이 쉬워졌다. 이 과정에서 환경 문제 유발 산업이 개발 도상국으로 이동하게 되었다.
오답 분석 ① 산업화가 이루어진 시기가 국가별로 다르기 때문에 이런 이동이 발생한 것이다. 우선 산업화를 이룬 선진국에서는 경제 성장보다 환경 보호가 더 중요해졌고, 아직 산업화가 진행 중인 국가들은 이런 산업을 받아들여서라도 경제 성장을 이루려고 한다.
② 개발 도상국에 해당하는 내용이다.
④ 교통과 통신의 발달은 환경 유발 산업의 이전을 더욱 활발해지도록 만들었다.
⑤ 오히려 환경 문제 유발 산업을 받아들이기 위해 관련 규제를 만들지 않는 지역도 있다. 환경 보호보다 경제 성장을 더 중요시하기 때문이다.

02 선진국일수록 환경 보호의 가치를 경제 성장보다 우선시하면서 환경 규제를 강화한 것이 석면 공장의 국제적 이동을 가능하게 했다.

03 **모범 답안** 선진국의 환경 규제가 강화되면서 상대적으로 환경 규제가 느슨하거나 환경에 대한 인식이 낮은 개발 도상국으로 석면 공장이 이동하게 되었다.

채점 기준	배점
석면 공장의 이동 이유를 환경 규제 측면에서 정확하게 서술함	100%
석면 공장의 이동 이유를 노동력 절감 측면에서 서술함	70%
석면 공장이 개발 도상국으로 이동하였다는 내용만 서술함	30%

04 전자 쓰레기는 기술 발달로 제품 교체 주기가 빨라지면서 급격하게 늘어나게 되었다.

05 제품의 교환 주기가 빨라지면서 쓸모가 없어지거나 유행이 지난 전자 제품이 쓰레기로 변하는 경우가 많아졌다. 그 양이 워낙 많아 선진국에서 합법적으로 처리하기가 어려워지면서 상대적으로 환경 규제가 약한 개발 도상국에 보내기 시작한 것이다.

06 개발 도상국은 환경 오염과 주민 건강에 미치는 영향을 알지만, 일자리 창출과 경제 성장을 위해 전자 쓰레기를 받아들이게 된 것이다.

07 제시된 산업은 고도의 기술이 필요한 것이 아닌 단순 작업이 필요한 일들로 환경을 오염시키고 저임금과 열악한 작업 환경으로 인한 인권 문제가 제기될 수 있는 것들이다. 장기적 발전보다 현재의 일자리 마련을 위해 어쩔 수 없이 받아들이게 된다.

08 장미 재배로 인해 케냐 나이바샤 호수의 물이 줄어들고 오염도가 올라가면서 이곳에서 어업을 하던 사람들의 생활이 어려워지게 되었다.

09 파리 협정은 온실가스 배출을 줄이기 위한 협정이다. 유해 물질의 국제적 이동을 규제하는 국제 협약에는 '바젤 협약'이 있다.

03 생활 속의 환경 이슈

개념으로 복습하기 54쪽

❶ 일회용품 ❷ 유전자 재조합 ❸ 안전성 ❹ 미세 먼지 ❺ 화석 ❻ 교란

문제로 복습하기 54쪽 ~ 55쪽

01 ⑤ 02 ③ 03 ③ 04 ④ 05 ③ 06 ② 07 ④ 08 ① 09 해설 참조

01 ㄷ, ㄹ로 인해 환경 오염이 증가하고 악화되었다.
오답 분석 ㄱ은 쓰레기 문제의 해결 방안이고, ㄴ은 환경 문제의 증가로 인한 결과이다.

02 환경 이슈는 환경 문제 중 원인과 해결 방안에 대한 의견이 입장에 따라 다양해지는 것을 말한다. 여기에는 개인, 지역, 국가, 시민 단체 등 다양한 입장이 반영되고, 시대와 규모가 매우 다양하게 나타난다. 미세 먼지, 쓰레기 문제 등이 대표적인 환경 이슈이다.

03 간척 사업에 대한 설명이다. 간척 사업은 갯벌을 일반적인 육지 상태로 만들어 농경지, 공업 단지 등을 확보하는 것이다. 이에 대해 개발과 보존으로 입장을 달리하는 집단들이 갈등을 빚기도 했다.

04 미세 먼지가 황사와 섞여 들어오기도 하지만 주요 발생 지역은 건조 지역보다 공업 지대, 도시 등과 같이 사람들의 활동이 많은 곳이다.

05 유전자 재조합 식품(GMO)를 통해 식량의 생산량을 증가시키고 포함된 영양분도 증가하게 만들어 식량 문제 해결에 기여할 것으로 기대하고 있다. 또한 다른 생물의 유전자를 통해 단점을 보완하고 장점을 극대화하는 방식으로 생물의 특성을 바꾸게 된다.

오답 분석 ㄱ. 인체에 대한 안전성은 아직 충분한 검증이 이루어지지 못했다.
ㄹ. 생산성 증가는 맞지만 종자와 재배 방법의 특수성 때문에 다국적 기업의 지배력이 더욱 강해지게 된다. 이는 지역 농민들에게 불리하게 작용할 가능성이 크다.

06 쓰레기 분리 배출로 재활용품을 늘리게 되면 쓰레기를 줄일 수 있다.
오답 분석 ④ 쓰레기 매립지를 늘리는 것은 쓰레기를 줄이기 위한 방법이라기보다 늘어난 쓰레기를 처리하기 위한 방법 중 하나이다.

07 푸드 마일리지는 식품의 이동 거리를 나타내는 지표로, 이것이 낮을수록 장거리 이동이 이루어지지 않았다는 것을 의미한다. 이는 곧 장거리 이동을 위해 살충제와 방부제가 들어갈 가능성이 낮으며, 이동 중 온실가스 배출량이 많지 않았을 것이라는 의미이다.

08 로컬 푸드 운동에 대한 설명이다. 로컬 푸드는 외국에서 수입된 식품들에 비해 안전성이 높고, 온실가스 배출이 적으며, 우리 지역 경제에 직접적인 도움을 줄 수 있다.

09 **모범 답안** 식품의 안전성이 높아진다. 온실가스 배출량이 감소한다. 지역 농민과 경제에 도움이 된다.

채점 기준	배점
로컬 푸드의 장점 세 가지를 정확하게 서술함	100%
로컬 푸드의 장점을 두 가지의 내용만 정확하게 서술함	70%
로컬 푸드의 장점을 한 가지의 내용만 정확하게 서술함	30%

XI 세계 속의 우리나라

01 우리나라의 영역과 독도

개념으로 복습하기 56쪽

❶ 최저 조위선 ❷ 통상 기선 ❸ 직선 기선 ❹ 대한 해협 ❺ 배타적 경제 수역 ❻ 태평양 ❼ 조경 수역 ❽ 천연 보호 구역

문제로 복습하기 56쪽 ~ 57쪽

01 ④ 02 ④ 03 ③ 04 ② 05 ① 06 ② 07 ⑤ 08 해설 참조

01 영해의 기준선은 썰물이 나갔을 때 가장 낮아진 해안선으로 최저 조위선이라고 한다. A는 영공, B는 영토, C는 영해, D는 최저 조위선, E는 배타적 경제 수역이다.

02 C는 영해, E는 배타적 경제 수역이다. 울릉도와 독도는 영해 설정 시 통상 기선을 적용한다.

03 제시된 설명은 우리나라의 서해안과 남해안, 대한 해협에 적용되는 영해 설정 방법이다. 울릉도와 독도, 제주도, 동해안은 통상 기선을 적용한다.

04 지도의 (가)는 우리나라 황·남해, (나)는 대한 해협, (다)는 동해이다.

05 A는 우리나라의 배타적 경제 수역, B는 한·일 중간 수역, C는 한·중 잠정 조치 수역이다. 배타적 경제 수역에서는 연안국의 경제적 권리가 보장되기 때문에 연안국 외 국가의 어로 행위나 자원 탐사, 인공 섬 건설 등의 행위가 제한된다. 그러나 경제 행위 이외에 교통수단의 운항은 자유롭게 이루어진다.
오답 분석 ㄴ. A는 우리나라의 배타적 경제 수역이므로 중국 어선은 조업을 할 수 없다.
ㄹ. 한·중 잠정 조치 수역은 우리나라와 중국이 어업 협정을 맺어 어족 자원을 공동 관리하는 곳이다.

06 지도의 (가)는 이어도, (나)는 독도이다. 이어도는 마라도 서남부 먼 바다에 위치한 수중 암초로 우리나라의 영토는 아니지만 종합 해양 과학 기지를 세워 주변의 기후 등을 연구하는 데 활용하고 있다. 이어도와 독도는 모두 우리 국토의 최외곽 지역에 위치하여 군사적·영역적 측면에서 매우 중요하다.
오답 분석 ㄴ. 독도 주변 해역의 영해 기선은 통상 기선을 적용한다.
ㄷ. 독도가 더 동쪽에 있기 때문에 해 뜨는 시각이 이어도보다 이르다.

07 독도는 해양성 기후가 나타나며, 분쟁 지역이 아닌 우리나라의 분명한 영토이다.

08 **모범 답안** 해안선이 복잡하고 섬이 많은 (가) 해안은 가장 외곽에 있는 섬을 직선으로 연결한 직선 기선으로부터 12해리까지를 영해로 정하고 일본과 가까운 (나) 대한 해협은 직선 기선으로부터 3해리를 영해로 설정한다.

채점 기준	배점
서·남해안과 대한 해협의 영해 설정 방법을 모두 정확하게 서술함	100%
서·남해안과 대한 해협의 영해 설정 방법을 적절하게 서술하였지만, 일부 내용을 미흡하게 서술함	70%
서·남해안과 대한 해협의 영해 설정 방법 중 한 가지만 정확하게 서술함	30%

02 우리나라 여러 지역의 경쟁력

개념으로 복습하기 58쪽

❶ 지역성 ❷ 지역화 ❸ 지역 브랜드 ❹ 평창
❺ 장소 마케팅 ❻ 랜드마크 ❼ 보령 ❽ 지리적 표시

문제로 복습하기 58쪽 ~ 59쪽

01 ② **02** ③ **03** ① **04** ⑤ **05** ⑤ **06** ⑤ **07** ②
08 해설 참조

01 지역화란 특정 지역하면 떠오르는 이미지나 상품, 랜드마크 등으로 각 지역의 특성이 국가의 경계를 넘어 세계적으로 널리 알려지는 현상이다.

02 지도의 A는 보령, B는 평창, C는 담양, D는 순천, E는 부산이다. 머드 축제는 충청남도 보령에서 개최되고 있으며 『메밀꽃 필 무렵』의 배경은 강원도 평창이고, 우리나라 최초의 국제 영화제는 부산에서 열렸다. 습지를 보존하고 최근 생태 도시로 주목 받고 있는 도시는 순천이다.
오답 분석 C 담양은 대나무와 메타세쿼이아 가로수 길로 유명한 곳이다.

03 랜드마크는 지역의 이미지를 대표하는 상징물로 서울의 N서울 타워, 프랑스 파리의 에펠탑, 뉴욕의 자유의 여신상 등이 대표적이다. 랜드마크와 같은 지역의 특정 장소를 상품화하여 경제적 가치를 높이는 지역화 전략을 장소 마케팅이라고 한다.

04 제시된 글은 강원도 평창에 대한 것이다. 평창은 사람들이 살기에 가장 쾌적하다는 해발 고도 700m에 있는 지리적 장점을 살려 지역 브랜드를 만들었다.
오답 분석 ① 전라북도 전주의 지역 브랜드이다.
② 경상남도 남해의 지역 브랜드이다.
③ 전라남도 나주의 지역 브랜드이다.
④ 제주도의 지역 브랜드이다.

05 ① 부산은 국제 영화제, ② 보령은 머드 축제, ③ 김제는 지평선 축제, ④ 횡성은 한우 축제가 열리고 있다.

06 지역 축제는 장소 마케팅의 대표적인 방법이다. 김제 지평선 축제는 곡창 지대인 김제의 특성을 살려 만든 축제이고, 진주 남강 유등 축제는 임진왜란 당시 진주성에서 유등을 이용했던 역사적 배경을 축제로 승화시킨 것이다. 지역 축제가 성공하면 많은 관광객이 방문하기 때문에 지역 경제 활성화에 도움이 된다.
오답 분석 ① 지역 브랜드에 대한 설명이다.
② 진주 남강 유등 축제가 해당된다.
③ 영동 포도 축제가 대표적이다.
④ 대관령 눈꽃 축제, 진도 바닷길 축제가 대표적이다.

07 보성 녹차는 우리나라 지리적 표시 제1호로 등록된 농산물이고, 순창 고추장, 횡성 한우, 한산 모시, 여주 쌀 등 약 100개의 상품이 등록되어 있다.

08 **모범 답안** 상품의 브랜드가 지역을 홍보하고, 지역의 이미지를 개선해 주기 때문에 지역 경제 발전에 이바지할 수 있다.

채점 기준	배점
지리적 표시의 이점 두 가지를 정확하게 서술함	100%
지리적 표시의 이점 두 가지를 적절하게 서술하였으나, 지역의 경제 발전에 대한 내용은 서술하지 않음	70%
지리적 표시의 이점을 한 가지만 서술함	30%

03 통일 이후 국토 공간

개념으로 복습하기 60쪽

❶ 유라시아 ❷ 태평양 ❸ 대륙 ❹ 분단 비용 ❺ 자본 ❻ 지하자원 ❼ 비무장 지대

문제로 복습하기 60쪽 ~ 61쪽

01 ② **02** ④ **03** ③ **04** ① **05** ① **06** ① **07** ③ **08** 해설 참조

01 우리나라는 유라시아 대륙 동쪽에 있는 반도국으로 북으로는 유라시아 대륙에 진출할 수 있고, 남쪽으로는 태평양으로 진출할 수 있는 동아시아 교통의 중심지에 위치한다. 또한 일본, 중국, 미국 등 경제 대국과 교역이 많고 최근 동아시아 지역 경제가 세계 경제에서 차지하는 비중이 증가하면서 그 위치적 중요성이 커지고 있다.

02 우리나라는 남북이 분단되어 있어 반도국으로서의 지리적 장점을 살리지 못하고 있으며 국토 공간을 효율적으로 이용하지 못하고, 이산가족과 실향민의 고통을 해소하지 못하고 있다. 또한 북한의 인권, 기아 문제는 국제 사회에서도 우려할 정도로 심각하다.

03 남북 간의 과도한 군사비 지출과 군사적 긴장감을 해소하고 민족의 동질성을 회복하기 위해서는 통일이 필요하다.

04 미래의 통일 한국은 분단으로 활용하지 못했던 반도국의 이점을 회복하여 유라시아 대륙과 태평양을 연결하는 물류의 중심지로 성장하게 될 것이다. 또한 백두산, 금강산과 비무장 지대 등을 새로운 관광지로 개발하는 등 국토의 효율적 이용이 가능해진다.

05 제시된 설명은 백두산에 관한 것이다. 지도의 A는 백두산, B는 묘향산, C는 평양, D는 개성, E는 금강산 관광권이다.

06 (가) 비무장 지대는 분단 이후 군사 지역으로 일반인의 출입이 통제되어 자연 생태계가 잘 보존되어 있다. 통일 이후에는 이러한 생태 환경을 활용한 개발 방안과 남북한의 연결 통로가 될 것이다.

07 철의 실크로드는 우리나라 종단 철도와 대륙 횡단 철도를 연결하는 사업으로 '실크로드 익스프레스'라고도 한다. 이 철도가 완성되면 우리나라는 태평양을 통한 해상 무역과 대륙 횡단 철도를 통한 육상 무역을 중계하는 중계 무역 중심지로 성장할 수 있다.

08 **모범 답안** 남한의 자본·기술과 북한의 천연자원, 저렴한 노동력이 결합하여 상호 보완성이 증대되고 국토의 균형 발전이 가능해진다.

채점 기준	배점
남한의 자본, 기술과 북한의 자원, 노동력을 정확하게 서술함	100%
남한의 자본, 기술과 북한의 자원, 노동력 중 세 가지만 포함하여 서술함	70%
남한의 자본, 기술과 북한의 자원, 노동력 중 두 가지만 포함하여 서술함	30%

XII 더불어 사는 세계

01 지구상의 다양한 지리적 문제 ~ 03 지역 간 불평등 완화를 위한 노력

개념으로 복습하기 62쪽

❶ 영해 ❷ 자원 ❸ 아프리카 ❹ 선진국 ❺ 사회 간접 자본 ❻ 공정 무역

문제로 복습하기 62쪽 ~ 64쪽

01 ① **02** ⑤ **03** ③ **04** ③ **05** ② **06** ④ **07** ④ **08** 해설 참조 **09** ④ **10** ⑤ **11** ① **12** ④

01 무분별한 열대 우림의 파괴는 적도 부근에 위치한 국가들이 경제 성장을 위해 하는 것으로 국가 간 분쟁과 직접적인 관계가 없다.

02 제시된 지도는 난사 군도에 대한 영역 분쟁과 관련된 지도이다. 난사 군도 인근은 해상 교통과 어업의 요충지이며 인근 해역에 매장된 대량의 석유와 천연가스는 분쟁의 원인이 되었다.

03 농업 생산 기술이 발전하면 농업 생산량이 증가하게 되면서 저개발국의 식량 문제를 해결하는 데 큰 도움이 될 것이다.

오답 분석 ⑤ 선진국에서는 육류 섭취를 위해 식량 작물을 가축 사육용 사료로 활용하거나 바이오 에너지 생산을 위한 원료로 활용하고 있다. 다른 용도로의 식량 작물 소비는 곡물 가격을 상승시켜 기아 문제를 심화시킬 수 있다.

04 쿠릴 열도는 국경 분쟁(A)에 해당되며, 센카쿠 열도(댜오위다오)는 자원 분쟁(B)에 해당된다. 따라서 팔레스타인, 티베트 등에서 나타나는 분쟁인 C는 민족·종교 분쟁이다.

05 (가)의 팔레스타인 분쟁은 유대교를 믿는 이스라엘과 이슬람교를 믿는 아랍 국가와의 갈등이며, (나)의 카슈미르 지역 분쟁은 이슬람교를 믿는 파키스탄과 힌두교를 믿는 인도 사이의 갈등이다.

06 노르웨이와 같이 인구 밀도가 낮으면서도 선진국에 해당하는 국가들이 많으며, 콩고 민주 공화국과 같이 국토의 면적이 넓으면서도 저개발국인 나라들도 많다. 따라서 인구 밀도와 국토 면적은 발전 수준을 파악하는 지표로 적절하지 않다.

07 인터넷 이용 인구 비율은 선진국이 저개발국에 비해 많다. 따라서 그래프의 (가)는 선진국, (나)는 저개발국에 해당한다. 선진국은 1인당 국내 총생산이 저개발국에 비해 많다.

08 **모범 답안** 경제 수준이 높은 유럽 등의 지역은 비만 인구 비율이 높은데 비해 사하라 이남 아프리카 등 경제 수준이 낮은 지역은 영양 부족 인구 비율이 높게 나타난다.

채점 기준	배점
세계의 영양 부족 및 비만 인구에 대해 경제 수준이 높은 지역과 낮은 지역을 비교하여 정확하게 서술함	100%
세계의 영양 부족 및 비만 인구에 대해 경제 수준이 높은 지역과 낮은 지역을 비교하여 서술하였지만, 일부 내용을 미흡하게 서술함	70%
세계의 영양 부족 및 비만 인구에 대해 단순히 그래프 수치만 이용하여 서술함	30%

09 경제가 발전하여 소득 및 생활 수준이 높은 선진국은 개발도상국에 비해 1인당 에너지 소비량이 많다.

10 인간 개발 지수가 높은 국가들은 주로 유럽에 분포하고 있다. 1인당 소득이 높은 국가일수록 의료 및 영양 수준이 높아 기대 수명이 높지만 소득의 격차만큼 기대 수명의 격차가 나타나지는 않는다.

11 공적 개발 원조에 의존한 경제 개발은 저개발국의 대외 의존도를 높여 자립적인 경제 발전을 어렵게 하는 요인이 된다. 저개발국의 발전이 지속되기 위해서는 선진국의 원조에 의존하지 않고 스스로 빈곤 문제를 해결하기 위한 노력이 필요하다.

12 제시된 글은 비정부 기구(NGO)에 대한 설명이다. 비정부 기구는 인도주의적 차원에서 구호 활동을 실시하고 있다. 공적 개발 원조에 비해서 구호 금액의 규모는 상대적으로 작다.

